BAB 8 GARIS DAN SUDUT

8.2 Sudut yang berkaitan dengan Garis Bersilang

1. Dalam rajah yang berikut, *PQ, RS* dan *TU* ialah garis lurus. Cari nilai *x* dan *y*.

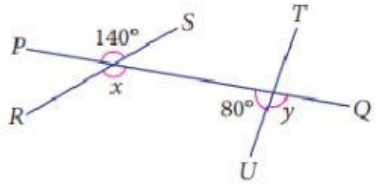

x = ☐

y + ☐ = ☐

y = ☐ - ☐

= ☐

2. Dalam rajah yang berikut, *PQ, RS* dan *TU* ialah garis lurus. Cari nilai *x* dan *y*.

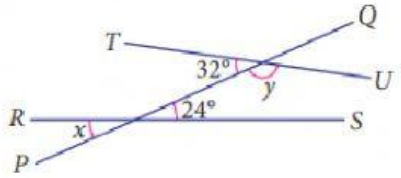

x = ☐

y + ☐ = ☐

y = ☐ - ☐

= ☐

3. Dalam rajah di bawah, *POQ* dan *QOT* ialah garis lurus. Cari nilai x dan y.

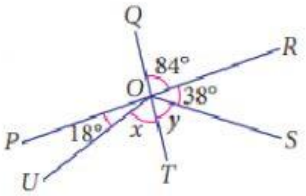

x + ☐ = ☐

x = ☐ - ☐

= ☐

y + ☐ + ☐ = ☐

y = ☐ - ☐

= ☐

LIVEWORKSHEETS

4. Dalam rajah di bawah, *QOS* dan *ROU* ialah garis lurus. OT ialah pembahagi dua sama ∠UOS. ∠POQ dan ∠QOR ialah sudut pelengkap. Cari nilai x dan y.

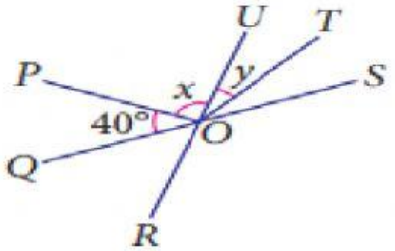

x + ☐ + ☐ = ☐

x = ☐ - ☐

= ☐

y + ☐ = ☐

2y = ☐

y = ☐

LIVEWORKSHEETS