Математика

1 задача:

Равнобедрен триъгълник е с обиколката 37 см и основа 9 см. Намерете дължината на всяка от другите две страни.

Решение:



2 задача:

В правоъгълник едната страна е 28 см, а другата с 6 см по-малка. Намерете обиколката на правоъгълника.

Решение:



3 задача:

Едната страна на правоъгълник е 6 м, а другата е 3 пъти по-малка. Намерете обиколката на правоъгълника.

Решение:

LIVEWORKSHEETS

4. Решете задачите и подредете пъзела.

10 av 10

Rechenpuzzle Malreihen

7.8	4.3	6.9
2.6	8.5	9.4
5.2	1.7	3.9
4.7	9.5	6.7

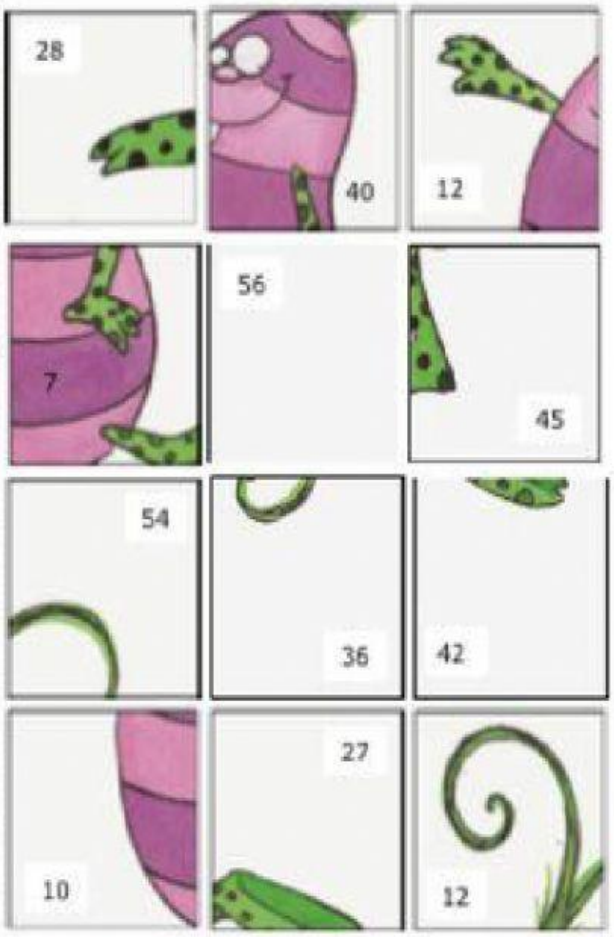

LIVEWORKSHEETS