Nama: ..... Kelas: ..... Tarikh: .....

UNIT 6: Bunyi

• **Tema:** ***Sains Fizikal***

PBD FENOMENA PANTULAN BUNYI

Buku Teks: m.s. 116 – 117

(a) Tandakan (✓) pada situasi yang menunjukkan bunyi boleh dipantulkan. SP6.1.3

TP4



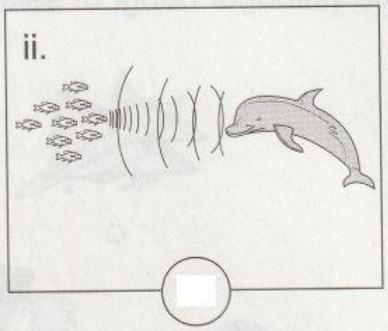

(b) Rajah di bawah menunjukkan satu situasi.

TP4



i. Apakah nama fenomena seperti ditunjukkan dalam situasi di atas.

_____

ii. Terangkan bagaimana fenomena yang kamu nyatakan di (b)i. terhasil.

_____

(c) Maklumat di bawah menerangkan tentang salah satu fenomena pantulan bunyi.

TP4

Ultrasonik ialah bunyi yang tidak dapat didengar oleh manusia tetapi dapat didengar oleh haiwan seperti kelawar, ikan lumba-lumba dan paus.

i. Apakah kegunaan ultrasonik kepada haiwan-haiwan tersebut?

_____

ii. Nyatakan **dua** kegunaan pantulan bunyi ultrasonik.

1. _____

2. _____

LIVEWORKSHEETS