Les balances et les égalités 2

Étapes à suivre pour l'activité :

1- Observe les plateaux des balances.
2- Écris des phrases mathématiques à l'aide des situations d'égalité.
3- Dis ta phrase mathématique.

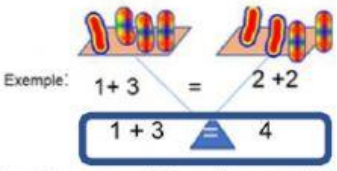

Ma phrase mathématique est 1 **+ 3 = 4**.

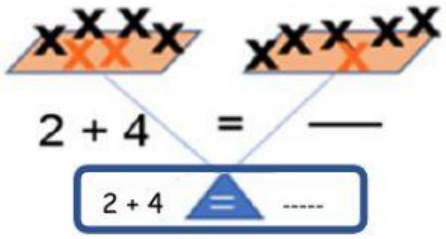

Ma phrase mathématique est _____

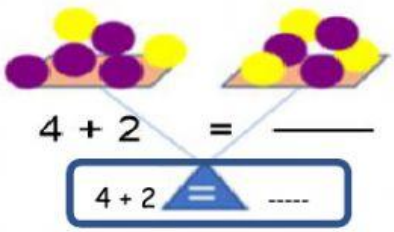

Ma phrase mathématique est _____

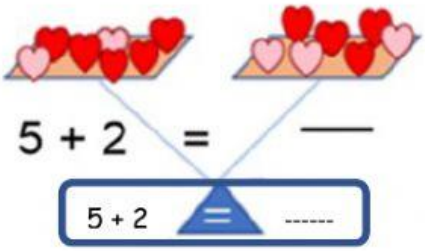

Ma phrase mathématique est _____

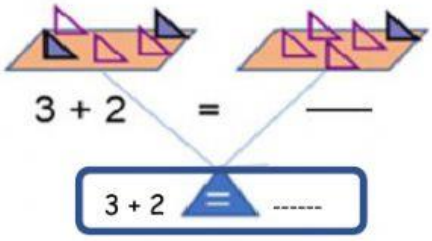

Ma phrase mathématique est _____

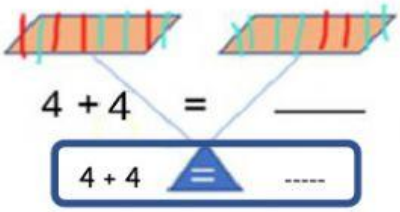

Ma phrase mathématique est _____

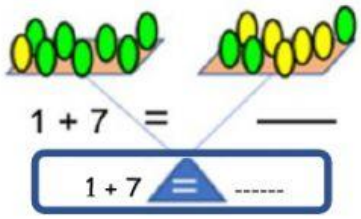

Ma phrase mathématique est _____

LIVEWORKSHEETS