UNIDAD EDUCATIVA FISCO MISIONAL
"CRISTÓBAL COLON"
PRUEBA DE DIAGNOSTICO DE MATEMATICA
DE QUINTO AÑO DE EDUCACION GENERAL BASICA
AÑO LECTIVO 2021- 2022

NOMBRE..... GRADO..... PARALELO.....

OBJETIVO: Conocer los avances obtenidos en conocimiento y destrezas correspondiente al cuarto año con la finalidad de valorar, proyectar y nivelar en caso necesario.
INSTRUCCIONES: Lea detenidamente las preguntas antes de responder.

1.-Escriba una (V) si es verdadero o (F) si es falso a las siguientes interrogantes.

1.1 conjunto vacío es el que no tiene elementos	
2.- El número 800 forman 5 centenas	

3.-Resuelva el siguiente ejercicio de acuerdo al patrón numérico.

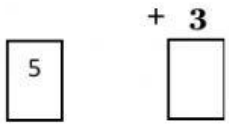

4.- Ubique en el plano cartesiano el siguiente par ordenado.

(8,3)

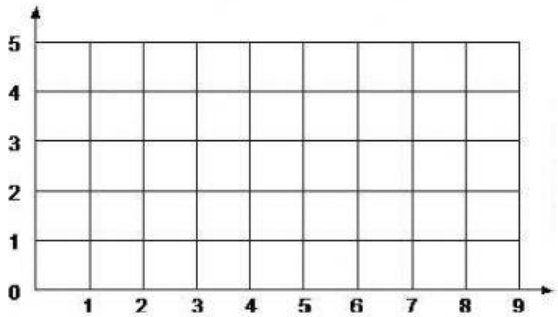

5.-Escriba la siguiente cantidad representada en el ábaco.

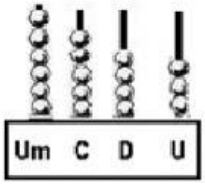

LIVEWORKSHEETS

6.-Una con línea la respuesta correcta

$$\begin{array}{r} 8\ 7\ 4\ 3 \\ +\ 1\ 2\ 0\ 6 \\ \hline 9\ 9\ 4\ 9 \end{array}$$

9 9 4 9

9 4 9 9

7.- Escriba en palabras la siguiente cantidad.

7. 851=----------

8.- Ubique la tapa en el tarro correspondiente.



9000

9.- Seleccione la siguiente figura geométrica: Cuadrado

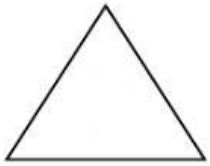

10.- Escriba los términos de la resta.

$$\begin{array}{r} 8\ 4\ 2\ 9 \\ -\ 4\ 2\ 1\ 6 \\ \hline 4\ 2\ 1\ 3 \end{array}$$

8 4 2 9 → ☐

4 2 1 6 → sustraendo

4 2 1 3 → diferencia

LIVEWORKSHEETS