C Rajah di bawah ialah satu kekunci yang menunjukkan dua atom, M dan N.
The diagram below is a key that shows two atoms M and N.

Kekunci / *Key*:

○ Atom M / *Atom M*

● Atom N / *Atom N*

Berdasarkan kekunci di atas, padankan yang berikut dengan betul.
Based on the key above, match the following correctly.

1 Molekul bagi suatu sebatian.
Molecules of a compound.

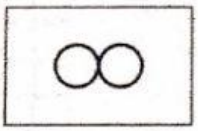

2 Molekul bagi suatu unsur yang terdiri daripada dua atom.
Molecules of an element formed by two atoms.

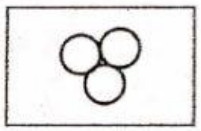

3 Molekul bagi suatu unsur yang terdiri daripada tiga atom.
Molecules of an element formed by three atoms.



Scanned with CamScanner
LIVEWORKSHEETS

2. Sumber-sumber di Bumi wujud dalam tiga keadaan jirim yang berbeza, iaitu unsur, sebatian, dan campuran.

Rajah	Keadaan jirim
(i) 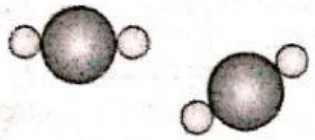	
(ii) 	
(iii) 	

(a) Berdasarkan jadual di atas, nyatakan keadaan jirim yang betul.

[3 *markah*]

(b) Lengkapkan pernyataan berikut tentang maksud keadaan jirim dalam **2**(a).

(i) Unsur merupakan bahan yang terdiri daripada _____ jenis atom sahaja.

(ii) Sebatian merupakan bahan yang terdiri daripada _____ atau _____ jenis atom yang bergabung secara _____.

(iii) Campuran merupakan bahan yang terdiri daripada _____ atau _____ jenis bahan yang bergabung secara _____.

[3 *markah*]

Scanned with CamScanner
LIVEWORKSHEETS