Tarea 3 - fracciones

1.- ¿Qué es el denominador?

2.- ¿Cómo se lee el número mixto?

$$2\frac{7}{12}$$

- Dos enteros siete doce
- Dos con siete doceavos
- Dos enteros siete docena
- Dos enteros siete doceavos

3.- Une según corresponda:

Representación gráfica	Fracción impropia	Número mixto
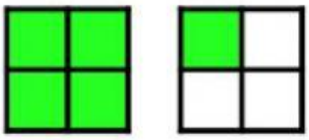	$\frac{7}{4}$	$1\frac{3}{4}$
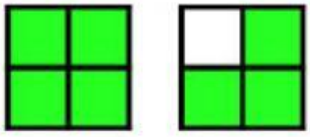	$\frac{5}{4}$	$1\frac{7}{9}$
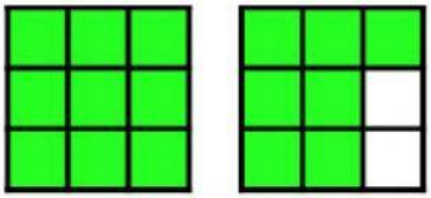	$\frac{16}{9}$	$1\frac{1}{4}$

No olvides revisar lo que hiciste antes de entregar. ¡Confío en ti!

LIVEWORKSHEETS