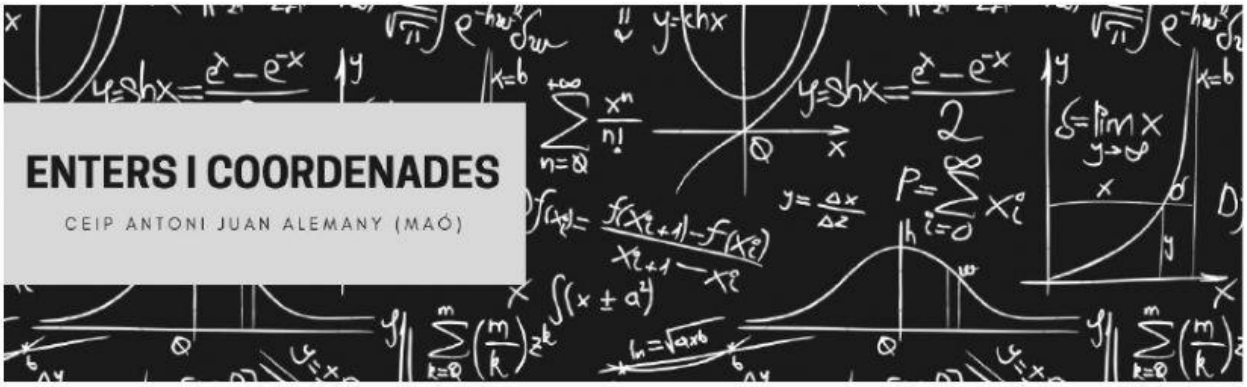

ENTERS A LA RECTA NUMÈRICA

1. **Completa a la recta numèrica els nombres que hi falten:**

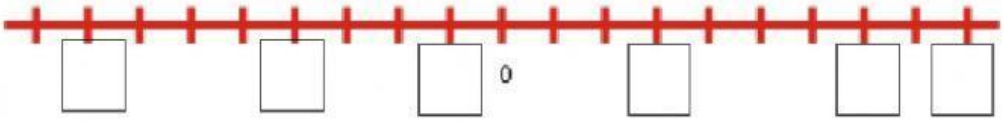

2. **Aquí tens una taula de temperatures del dia més fred de l'any 1967. Escriu a la tercera columna la lletra de la recta numèrica que li correspon:**

Lloc	Temperatura	LLetra
Maó	-4 ºC	
Ciutadella	1 ºC	
Madrid	-7 ºC	
Múrcia	5 ºC	
Barcelona	-10 ºC	
Lugo	-13 ºC	



LIVEWORKSHEETS

3. Escriu el nombre anterior i posterior:

Anterior		Posterior
	2	
	-2	
	6	
	0	
	-1	
	-9	
	16	

4. Clica el nombre MÉS GROS de cada grup de nombres:

a) -2 0 -6 1 -5

b) 4 -4 2 -5 6

c) -3 -1 -5 -7 -2

d) 0 -3 2 -9 1

LIVEWORKSHEETS