**SMK SYED MASHOR, 44300 BATANG KALI SELANGOR**

# E-PENTAKSIRAN 2 (OGOS 2021)

## TINGKATAN 1

## GEOGRAFI

## Masa : 1 jam

**NAMA :** _____ **KELAS :** _____

***ARAHAN : Kertas soalan ini mengandungi 15 soalan . Jawab semua soalan.***

1. Rajah di bawah menunjukkan ciri-ciri peta lakar. Labelkan ciri-cirinya dengan betul.

**Simbol** | **Petunjuk** | **Pemidang** | **Arah mata angin**

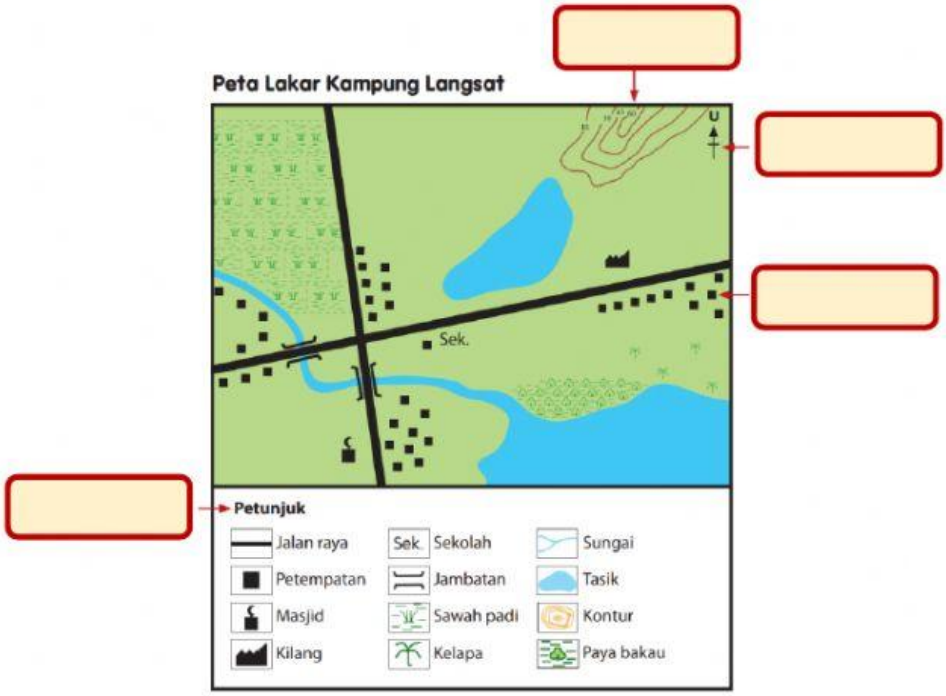


2. Berikut merupakan beberapa simbol yang digunakan dalam peta lakar. Apakah jenis simbol ini?

Hosp.

LIVEWORKSHEETS

3. Simbol petempatan dan suatu tempat diwakili oleh jenis simbol _____.
4. Simbol jalan raya dan sungai diwakili oleh jenis simbol _____.
5. Berikan maksud simbol berikut ;

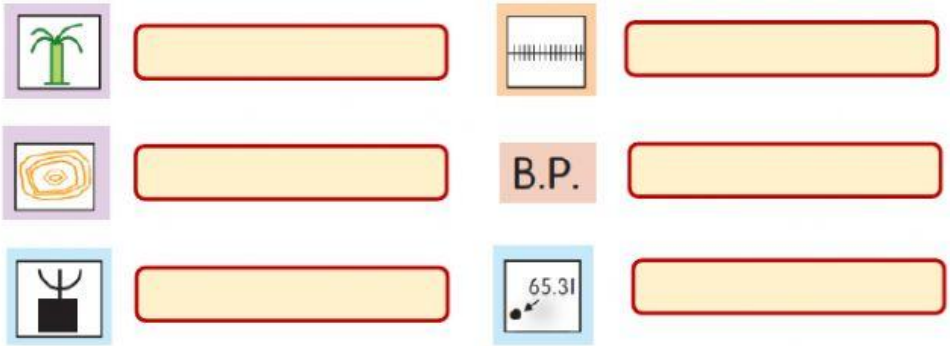


6. Kelaskan simbol berikut kepada ciri Pandang Darat Fizikal dan Pandang Darat Budaya.

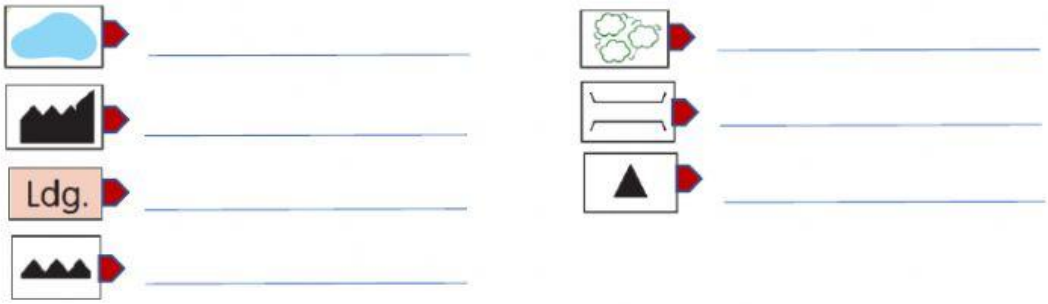


7. Antara berikut, yang manakah kegunaan simbol dalam peta lakar?

   A. Memudahkan ukuran jarak dan luas
   B. Memudahkan tafsiran peta
   C. Memudahkan langkah melukis peta
   D. Menyelesaikan masalah melukis peta

JAWAPAN

8. Manakah simbol singkatan yang betul?

   A. Pt. – Petang
   B. B.P – Bilik Pengguna
   C. Tg. – Terengganu
   D. Kg. – Kampung

JAWAPAN

LIVEWORKSHEETS

9. Labelkan Peta Malaysia berikut dengan nama negeri yang betul.

N.Sembilan | Kedah | Sarawak | Pahang | Kelantan

1 _____

2 _____

3 _____

4 _____

5 _____

10. Malaysia mempunyai _____ buah negeri.

11. Terdapat _____ buah wilayah persekutuan di Malaysia.

12. Pilih 3 buah wilayah persekutuan di Malaysia.

Wilayah Persekutuan Labuan | Wilayah Persekutuan Melaka | Wilayah Persekutuan K.Lumpur | Wilayah Persekutuan Putrajaya

13. Pusat Pentadbiran Kerajaan Persekutuan Malaysia adalah _____.

14. Ibu negara bagi negara Malaysia adalah _____.

15. Padankan Ibu Negeri bagi Negeri yang betul.

| Negeri | Ibu Negeri |
|---|---|
| Perak | Alor Setar |
| Kedah | Ipoh |
| Perlis | Kangar |

**SOALAN TAMAT**

Disediakan oleh:

.....

Pn Nur Wahidah binti Md Ami

LIVEWORKSHEETS