Họ và tên: _____ Lớp: _____

PHIẾU TOÁN CUỐI TUẦN 1

1. Tính







2. Điền Đ với phép tính đúng, S với phép tính sai

562 + 218 = 780 → ☐

275 + 41 = 685 → ☐

789 − 15 = 639 → ☐

426 − 142 = 284 → ☐

3. Tìm X X - 115 = 575

X = _____ ___ _____

X = _____

4. Từ nhà đến trường học, Nam phải đi qua một hiệu sách. Biết quãng đường từ nhà tới hiệu sách là 563m, hiệu sách cách trường học 207m. Hỏi quãng đường từ nhà Nam đến trường học dài bao nhiêu mét?



Giải

Quãng đường từ nhà Nam đến trường học dài là:

_____ ___ _____ = _____ (m)

Đáp số: _____

5. Tính 265 + 309 + 210 = _____

LIVEWORKSHEETS