TRABAJANDO EN CLASE

1. *Las cónicas*

Las **cónicas** son las figuras geométricas que aparecen cuando hacemos la intersección de un cono con un _____. Como podemos ver en la siguiente imagen, según el ángulo de inclinación del plano, podemos encontrarnos con las siguientes figuras: una **circunferencia**, una **elipse**, una **parábola** o una **hipérbola**, de mayor a menor inclinación. Llamadas _____ _____ .

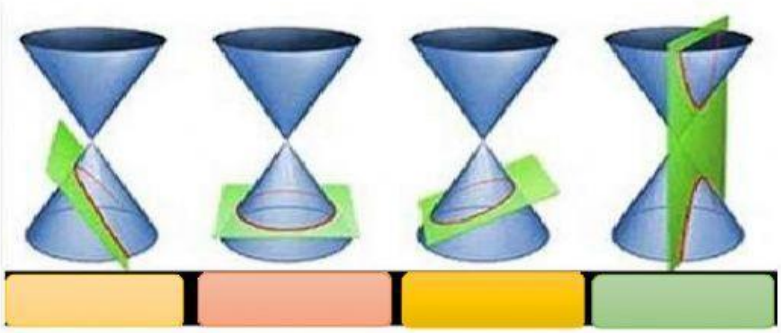

PARÁBOLA

HIPÉRBOLA

CIRCUNFERENCIA

ELIPSE

2.

Secciones Cónicas

Curvas Cónicas

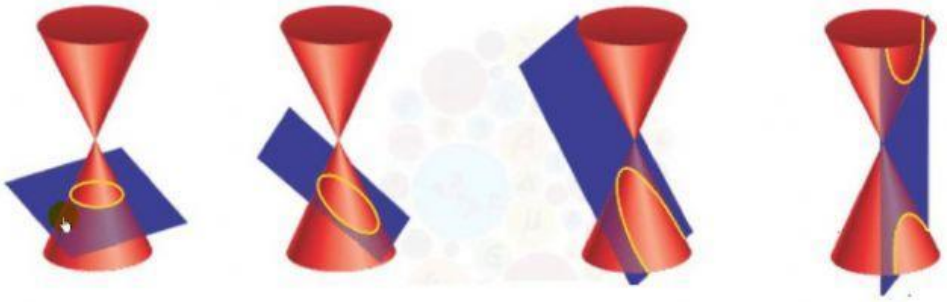

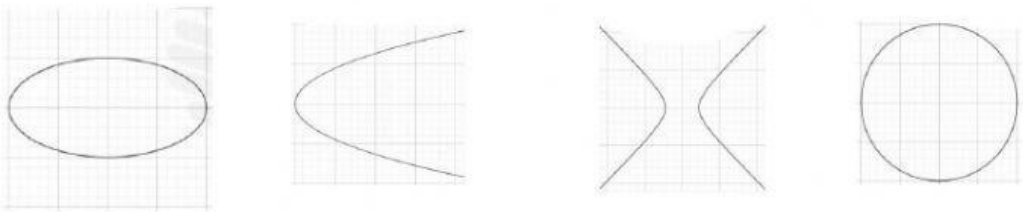

LIVEWORKSHEETS
LIVEWORKSHEETS