РАБОТЕН ЛИСТ
ИСТОРИЯ И ЦИВИЛИЗАЦИЯ
VII клас
28.04.2020г.

ТЕМА
БЪЛГАРИЯ В ИЗТОЧНИЯ БЛОК

I. В България в следвоенните години

а) хронология

Задача 1 – 6 точки. Нанесете датите от таблицата на линия на времето

Дата	Събитие
10 февруари 1947г.	България подписва мирния договор в Париж за края на Втората световна война
Септември 1947г.	Създадено Коминформбюро в Полша
8 – 9 януари 1949г.	България участва в създаването на Съвета за икономическа взаимопомощ (СИВ) в Москва
Април 1949	Създаване на Северноатлантическия съюз (НАТО)
14 май 1955г.	Създаване на Варшавския договор
Края на 1955г.	България се присъединява към ООН

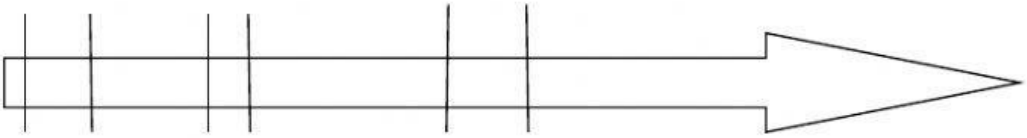

б) мястото на България в следвоенното разделение

Задача 2 – 4 точки. Въз основа на изображенията и текстовете към тях попълнете празните места в текста

В края на Втората световна война България е сред …….. страни. На …… …….. в Париж българската делегация подписва мирен договор със страните победителки. Тя не губи територии, но е принудена да плаща големи репарации. Същевременно в следвоенното устройство на света настъпва коренна промяна. Страните победителки се разделят на два големи блока – Източен, в който са страните, попаднали в съветската сфера на влияние и Западен, в който се демократично устроените държави. Основите на това разделение са положени още в годините на войната, а то окончателно става факт със създаването на Северноатлантическия съюз (НАТО) през …… България попада в ……. блок, като това съответства и на новата вътрешнополитическа ориентация на страната, настъпила след 1944г.

LIVEWORKSHEETS

10 януари 1947г., българска делегация подписва мирен договор в Париж

1949г., създаване на НАТО

Емблемата на НАТО

в) първото предизвикателство през България

Задача 3 – 9 точки. Разгледайте изображенията и въз основа на текстовете към тях, попълнете празните места в текста.

Сталин и Йосип Броз Тито

1947г., Тито и Г. Димитров подписват българо - югославско споразумение

LIVEWORKSHEETS

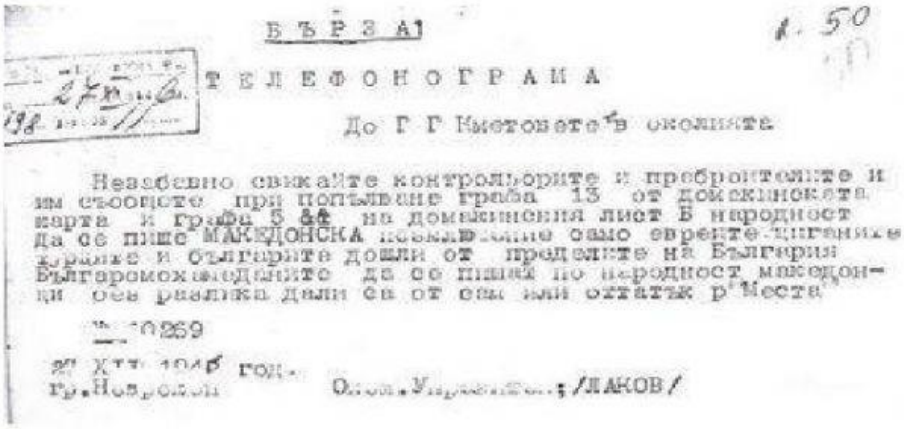

БЪРЗА!

ТЕЛЕФОНОГРАМА

До Г Г Кметовете в околиите

Незабавно свикайте контрольорите и преброителите и им съобщете при попълване графа 13 от домакинската карта и графа 5 на домакинския лист Б народност да се пише МАКЕДОНСКА позволяваме само евреите-циганите българите и българите дошли от пределите на България Българомохамеданите да се пишат по народност македонци без разлика дали са от сем или отчатък р'Места

№ 10269

20 XII 1948 год.
гр.Новгород

Окол.Управител: /ЛАКОВ/

Официално нареждане българите да се записват по народност МАКЕДОНЦИ

Първото предизвикателство пред България са амбициите на ръководителя на Югославската федерация ……. да създаде южнославянска федерация, в която да влиза и България. Благодарение на добрите връзки между ……. и съветския лидер …….. планът е на път да се осъществи. В него България вижда възможност да реализира отдавна поставената цел за обединение с Македония. Ето защо на …….. е подписан договор между ……, ръководител на България и БКП и ……, лидер на Югославия. България принуждава българите , живеещи в Македония да се записват с народност …… при преброяването, като така се съгласява с промяната на етническия облик на областта. Само разривът между ……. и лидера на СССР, ……, през 1949г. е причина за промяна на този план.

II. **България влиза в Източния блок**

а) съветския отговор на НАТО. Изграждане на Източни блок

Задача 4 – 3 точки. Като използвате изображенията и надписите към тях, попълнете празните места в сравнителната таблица

септември 1947г., създаване на Коминформбюро



емблемата на СИВ, създаден през януари 1949

LIVEWORKSHEETS

1955, Учредяване на Варшавския договор

Емблема на Варшавския договор

ОРГАНИЗАЦИЯ	ДАТА И МЯСТО НА СЪЗДАВАНЕ	КОГО ОБЕДИНЯВА	ЦЕЛИ И ДЕЙНОСТ
……	Септември 1947г., Полша	Девет комунистически партии	Сключени договори за „приятелство, сътрудничество и взаимопомощ" между страните от източната сфера на влияние
……..	Януари 1949г., Москва	Икономиките на държавите от източния блок и съветската сфера на влияние	-установяване на близки търговски и икономически връзки между страните от Източния блок; -намаляване на стопанските щети поради загуба на западните пазари заради Студената война; - подпомагане на индустриализацията на страните – членки; - налагане на съветския икономически модел – тотален държавен контрол, затворен пазар без връзка със западни страни и централно планирана икономика
……	14 май 1955г.	Армиите на държавите от Източния блок	-взаимопомощ при защита от агресия от страна на западни държави; - съвместна военна

LIVEWORKSHEETS

			подготовка; - потушаване на протестни действия срещу СССР в някоя от страните членки

б) България в рамките на Източния блок

Задача 5 – 4 точки. Въз основа на изображенията и надписите към тях отговорете на поставените въпроси

Посещение на Хрушчов в България

Моста Русе – Гюргево, построен от 1952г. до 1954г. с помощта на СИВ

1. На чия помощ разчита България в икономическата, политическата и военната сфера? - ….
2. Какви са отношенията между двете страни? - ……..
3. Получава ли България търсената помощ? - ……
4. Съобразява ли се България с интересите на Москва? - …….

III. България в международните отношения - 50 – те – 80 – те години на XX век.

Задача 6 – 6 точки. Въз основа на данните в таблицата и изображенията, отговорете на поставените въпроси

Иван Башев, външен министър до 1971г.

Петър Младенов, външен министър до 1989г.

LIVEWORKSHEETS

Посещение на Фидел Кастро

Посещение на Леонид Брежнев

Георги Иванов, първият български космонавт

Откриване на редовна морска линия с Куба

ПЕРИОД	НАСОКИ НА ВЪНШНАТА ПОЛИТИКА
50 – те години	- Отваряне към света след смъртта на Сталин и нормализиране на отношенията със Запада; - България става член на ООН през 1955г.
60 – те години	- Нормализиране на отношенията с Югославия през 1963г. - Нормализиране отношенията с Гърция след преодоляване на спора за задълженията на България след Втората световна война - Нормализиране на отношенията с Турция заради спора за българските турци
70 – те години	- Активно развитие на икономически и политически връзки с освободените от колониална зависимост страни в Азия, Африка и Латинска Америка и с арабския свят; - Известна самостоятелност в рамките на ООН, но под контрола на СССР
80 – те години	- Външна политика, тясно свързана с политика на СССР и Източния блок; - Подкрепа за държавите, борещи се срещу западното присъствие; - Няма континент без българско участие

LIVEWORKSHEETS

	- Добри отношение с всички съседи на Балканите

1. Коя е държавата, с чиито интереси се съобразява България през целия период до 1989г. ? -
2. Дава ли на България участието в ООН възможност да води самостоятелна политика? -
3. С кои държави подобрява отношенията си България през 60 – те години? -
4. От кой период развива България връзки с арабските страни? -
5. Подкрепя ли България борбата на бившите колониални държави за независимост? -
6. Има ли България присъствие на различни континенти през 80 – те години? –

МАКСИМАЛЕН ОБЩ БРОЙ ТОЧКИ – 32

Слаб 2	Среден 3	Добър 4	Много добър 5	Отличен 6
0 – 14 точки	15 – 18 точки	19 – 23 точки	24 – 27 точки	28 – 32 точки

LIVEWORKSHEETS