GUIA DE GEOMETRIA

Nombre:
20 pts.

1.Observa cada imagen y elige la opción correcta. (clasificar ángulos)

Si no estás segur@ puedes revisar tu cuaderno

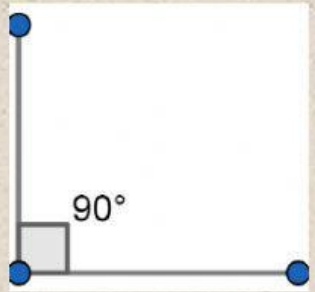

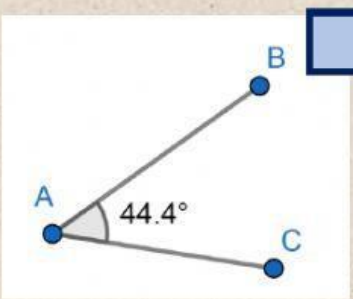

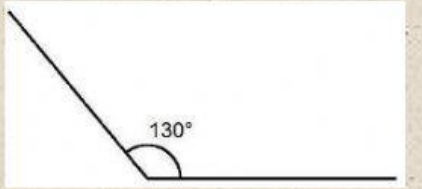

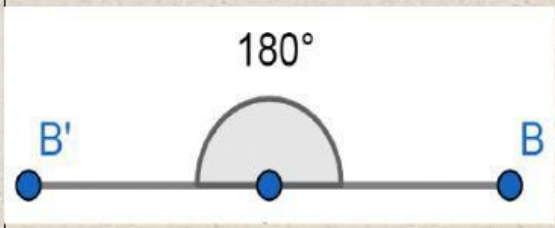

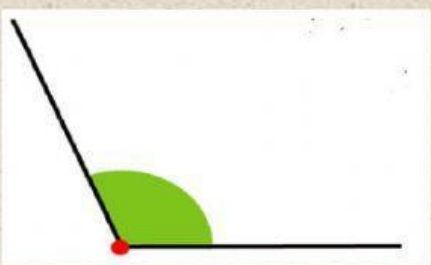

LIVEWORKSHEETS

2.Lee la información y observa los ejemplos

Luego une con una línea cada para de ángulos con su clasificación

1.-ANGULOS CONSECUTIVOS

Son aquellos pares de ángulos que tienen en común el VERTICE y uno de sus LADOS

Ejemplo:

Los ángulos A y B son CONSECUTIVOS

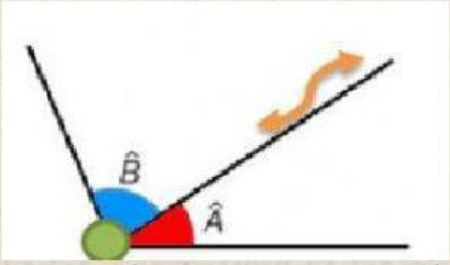

2.ANGULOS ADYACENTES

Son aquellos ángulos que tienen en común,el VERTICE,uno de sus LADOS y además sus lados no comunes forman parte de una misma recta.Y s

Ejemplo:

Los ángulos D y C son

ADYACENTES

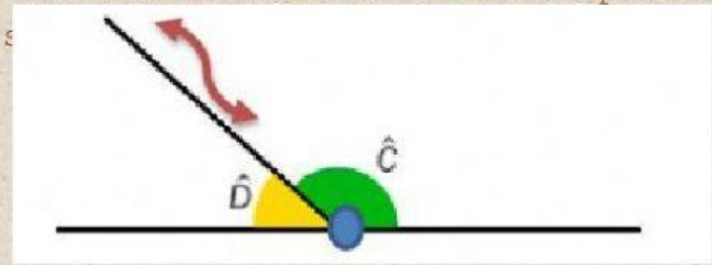

Ejercicio:Observa los siguientes pares de ángulos y escribe si son

CONSECUTIVOS O ADYACENTES (escribe correctamente,con mayúscula)

LIVEWORKSHEETS

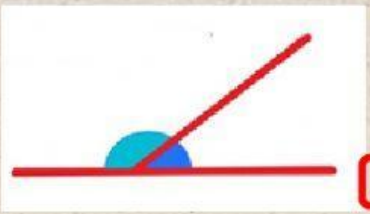	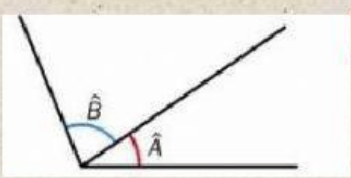
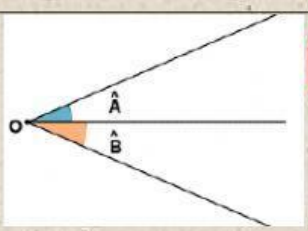	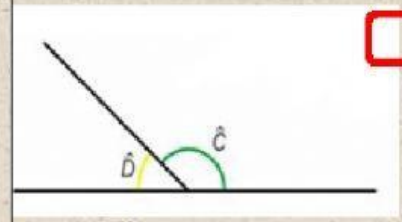

LIVEWORKSHEETS