SAINS TAHUN 1
KEKUATAN MAGNET

NAMA : _____

1. Kira jumlah klip kertas yang ditarik oleh magnet.



Magnet P **Magnet Q** **Magnet R**

2. Magnet manakah yang lebih **kuat**?

   Magnet

3. Magnet manakah yang lebih **lemah**?

   Magnet

LIVEWORKSHEETS LIVEWORKSHEETS

Lengkapkan pemerhatian berdasarkan penyiasatan di bawah.

PENYIASATAN 1

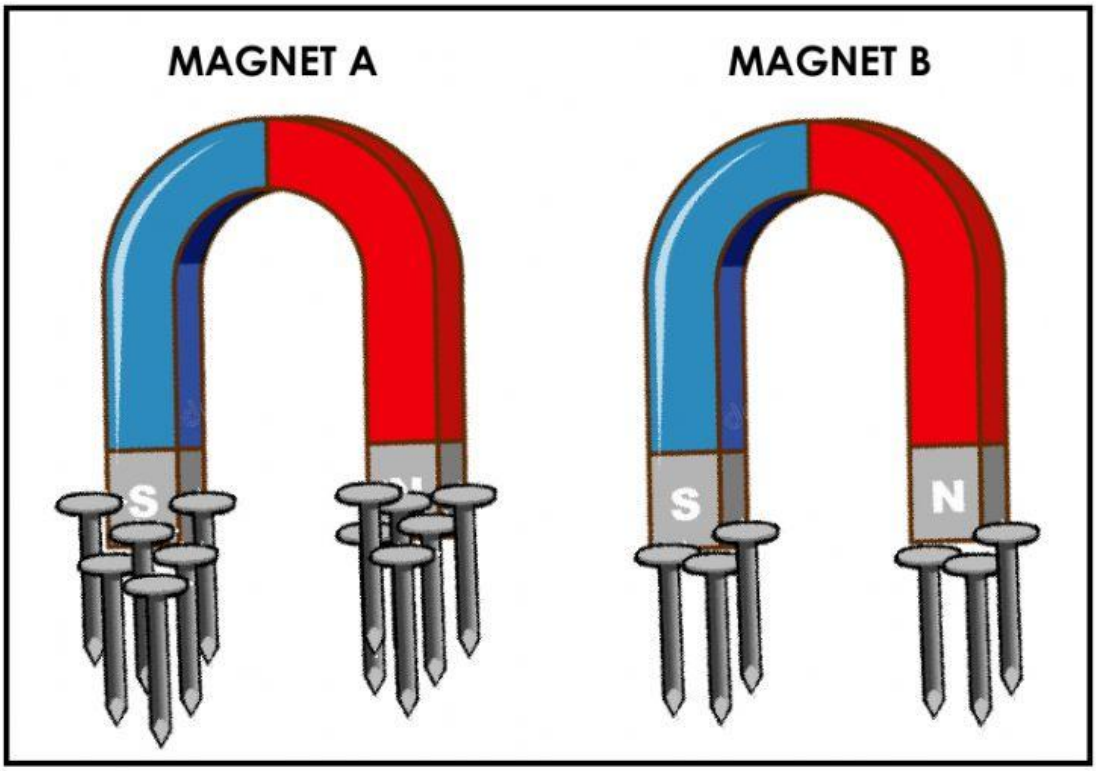

a) Magnet _____ menarik **lebih banyak** paku berbanding magnet _____ .

b) Magnet _____ mempunyai **kekuatan** yang lebih berbanding magnet _____ .

c) Magnet yang _____ dapat menarik lebih banyak paku.

LIVEWORKSHEETS LIVEWORKSHEETS

PENYIASATAN 2

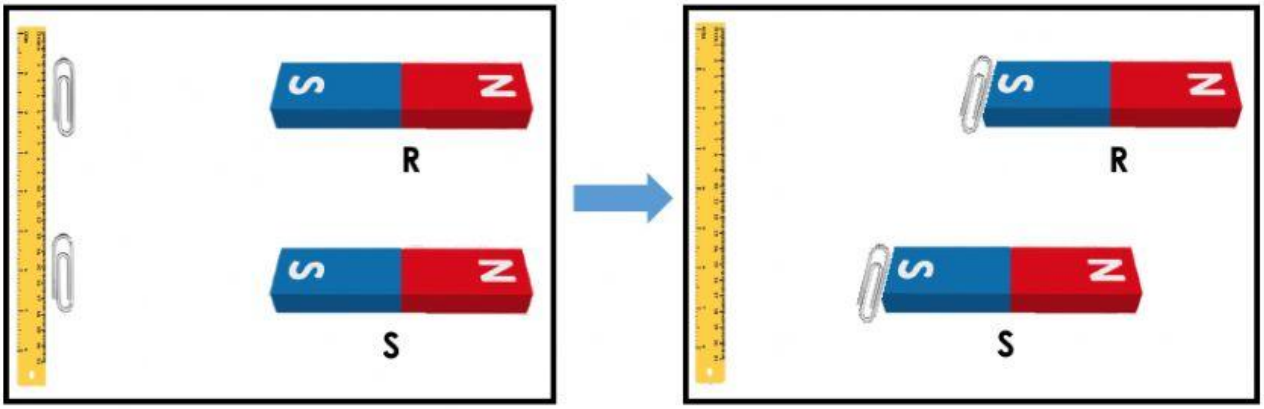

a) Magnet _____ dapat menarik klip kertas pada **jarak yang lebih jauh** berbanding dengan magnet _____.

b) Magnet _____ mempunyai **kekuatan yang lebih** berbanding magnet _____.

c) Magnet yang _____ dapat menarik klip kertas daripada **jarak yang lebih jauh**.

LIVEWORKSHEETS
LIVEWORKSHEETS