# U.E"GIORDANO BRUNO"

Nombre: _____ Fecha: _____

**NUMEROS REALES:** Son los que están formados por números; naturales, irracionales, racionales, enteros,

**Identifica los números reales y su símbolo.**

- Números Reales. Q
- Números Irracionales. N
- Números Racionales. Z
- Números Enteros. R
- Números Naturales. I

**Ubica en el diagrama los simbolos qie representa a cada uno de la clasificacion de loa npumeros.**

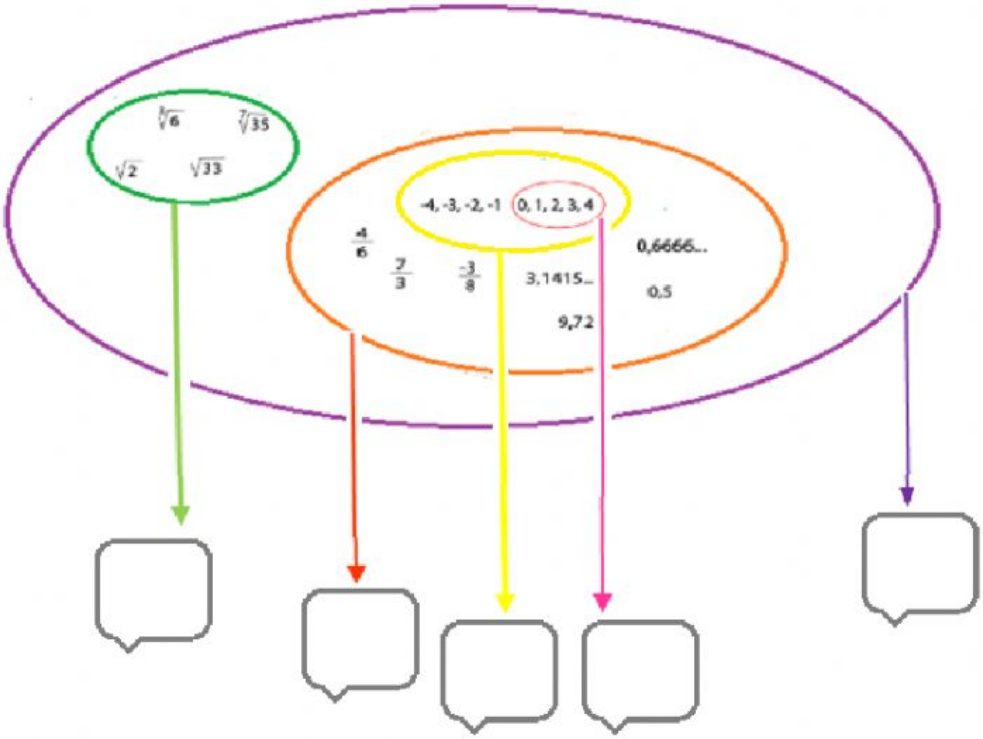


LIVEWORKSHEETS

## Completa:

- Los números naturales son:_____
- Los números enteros son:_____
- Los números racionales son:_____
- Los números irracionales son:_____

## Completa el mapa conceptual de los números reales

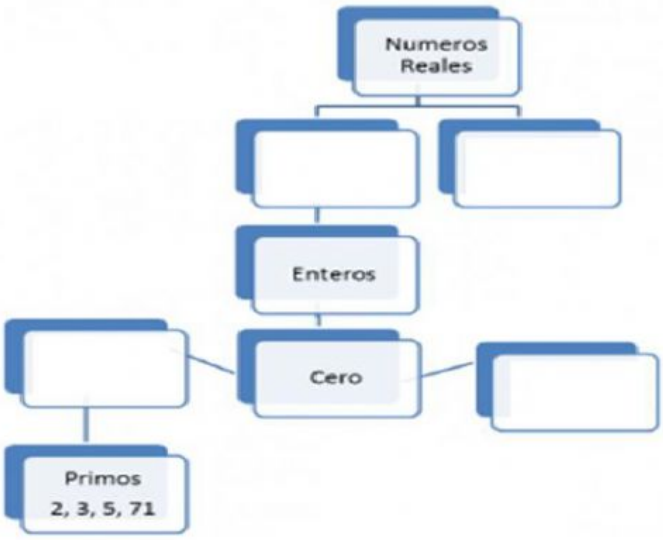


Negativos
-4, -7, -2

Racionales
3/4, 1/2, 9/4

Naturales
1, 4, 6, 9

Irracionales
$\sqrt{3}, \pi,$

## Resuelve:

- $2 - 3{,}5 + \sqrt{2} + 1{,}1 - 4\sqrt{2}$
- $0{,}002 + \sqrt{5} + \sqrt[5]{3} - 3\sqrt{5} - 1{,}32 - 6\sqrt[5]{3}$
- $\frac{1}{4} - \pi + \sqrt{5} - \frac{1}{2} + 3\pi - 10\sqrt{5}$
- $\pi + 2 - e + 2\pi - 8e + 5 + 3e$

$-\frac{1}{4} + 2\pi - 9\sqrt{5}$

$7 - 6e + 3\pi$

$-0{,}4 - 3\sqrt{2}$

$-1{,}318 - 2\sqrt{5} - 3\sqrt[5]{3}$




LIVEWORKSHEETS