NAMA _____ KELAS _____

8.1 DAYA (conquer m/s 103)

Tuliskan 'TOLAKAN' atau TOLAKAN DAN TARIKAN, bagi daya yang terlibat dalam aktiviti yang ditunjukkan dibawah.

Kenalpasti jenis daya yang terlibat berdasarkan rajah

LIVEWORKSHEETS

8.1 DAYA

Labelkan magnitud, arah dan titik aplikasi pada rajah berdasarkan pernyataan di bawah

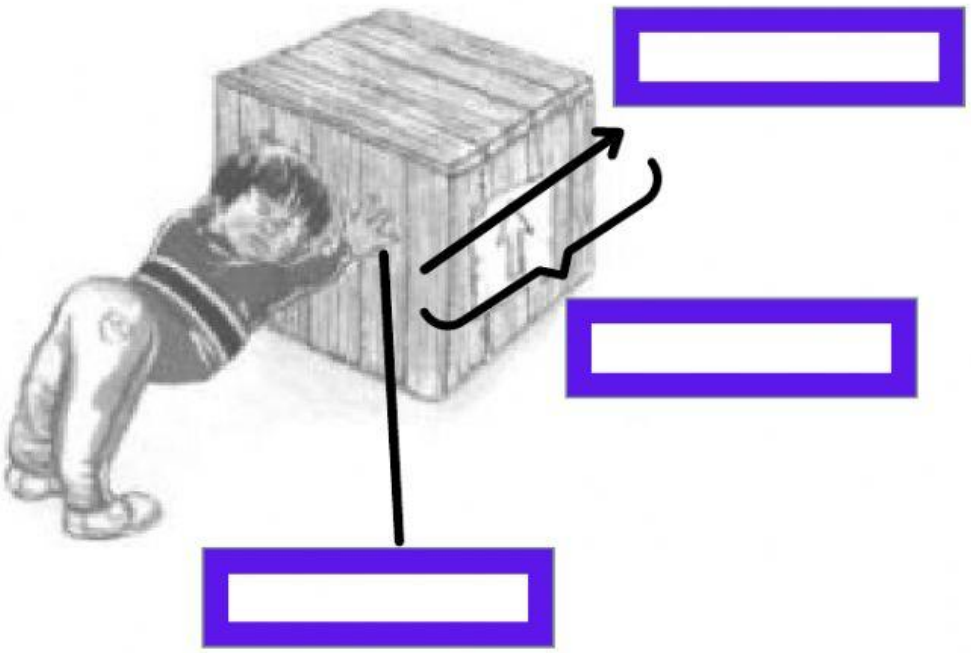

Jawab soalan-soalan di bawah berdasarkan rajah.

a)Namakan alat dalam rajah?

.....

b) Apakah fungsi alat itu?

.....

c)Tuliskan bacaan pada alat itu?

..... N

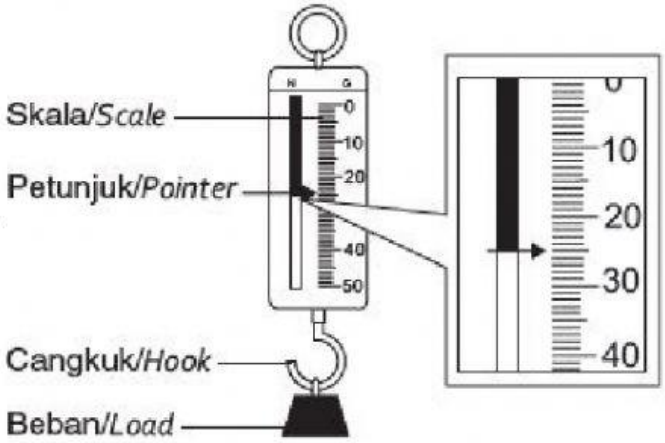

LIVEWORKSHEETS

8.1 DAYA (CONQUER M/S 104)

Lengkapkan jadual untuk menghuraikan daya tindakan dan tindak balas yang bertindak balas dalam setiap situasi yang berikut

tayar kereta menolak jalan

jalan menolak tayar kereta bergerak ke hadapan

spring menarik lelaki

lelaki menarik spring

bola menarik bumi

permukaan meja pada buku

bola menolak kepala

kepala menolak bola

bumi menarik bola

berat buku pada meja

roket menolak gas

gas menolak roket



Daya tindakan:

Daya tindakan:

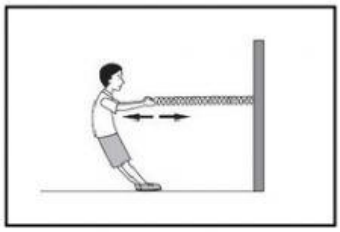

Daya tindakan:

Daya tindakan:

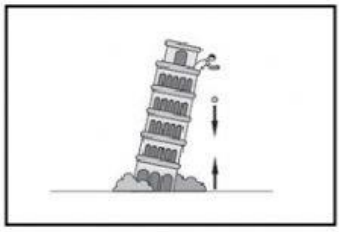

Daya tindakan:

Daya tindakan

Daya tindakan:

Daya tindakan:

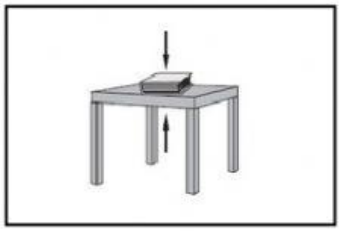

Daya tindakan:

Daya tindakan:

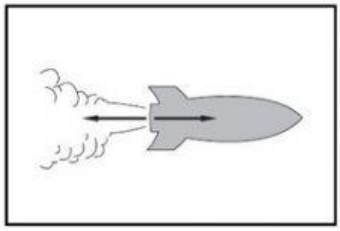

Daya tindakan:

Daya tindakan:

LIVEWORKSHEETS