LKPD KELAS 5 A
TEMA 2
SUB TEMA 1

Nama Lengkap: .....

No. Absensi : .....

Tema 2 Udara Bersih Bagi Kesehatan

Pembelajaran 2 - 4

LIVEWORKSHEETS

Saksikan video berikut ini...!

Pembelajaran 2

Pembelajaran 3

Pembelajaran 4

LIVEWORKSHEETS

Sistem Pernapasan Pada Manusia

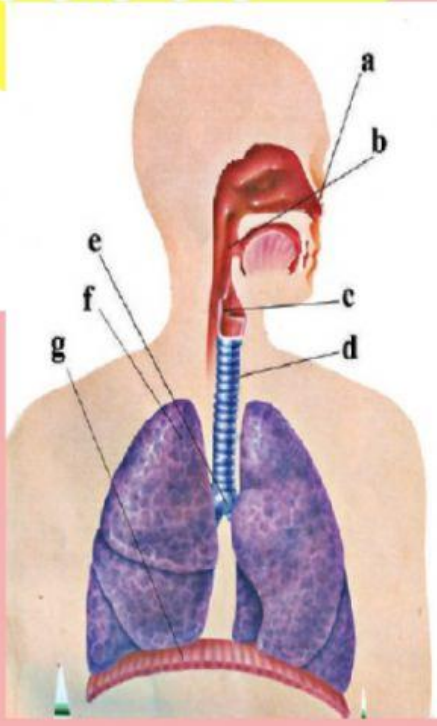

Keterangan gambar

a :
b :
c :
d :
e :
f :
g :

Paru-paru Pada Manusia

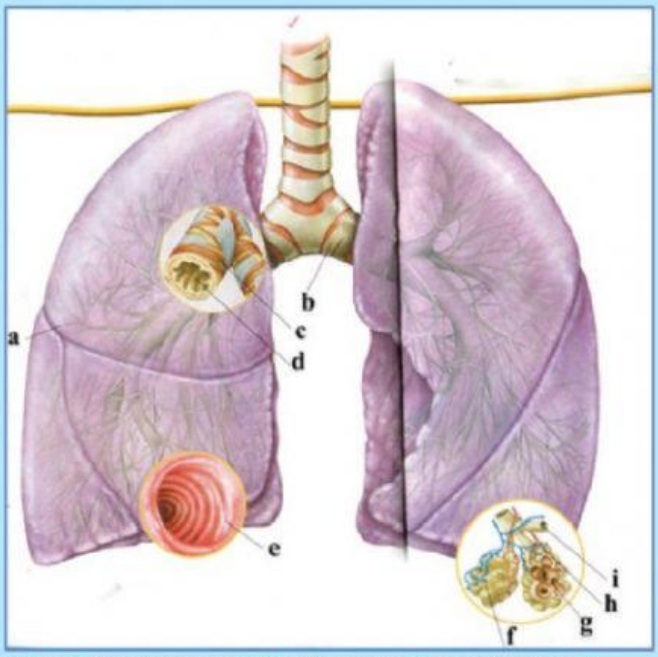

Sumber: *100 Pengetahuan tentang Tubuh Manusia*; Steve Parker; Pakar Raya 2007

Paru-paru

Keterangan gambar:

a :
b :
c :
d :

e :
f :
g :
h :
i :

LIVEWORKSHEETS

Jawablah pertanyaan dan Lengkapi Kalimat Berikut dengan Kata Tanya yang tepat !

1. ..... yang dibutuhkan untuk mendapatkan energi dari makanan ?
   Jawab: .....
2. ..... tempat terjadinya pertukaran oksigen dan karbondioksida?
   Jawab: .....
3. ..... di dalam rongga hidung terdapat rambut-rambut pendek dan tebal ?
   Jawab: .....
4. ..... cara udara masuk ke dalam tubuh manusia?
   Jawab: .....
5. ..... udara pernapasan yang masuk ke dalam tubuh pertama kali disaring?
   Jawab: .....



LIVEWORKSHEETS

Jenis-Jenis Tanggung Jawab

Tariklah garis untuk memasangkan soal dan jawabannya!

Menuntut kesadaran sebagai individu untuk menyeimbangkan antara kewajiban yang harus dilaksanakan dan hak yang diterimanya.	KELUARGA
Sebagai makhluk sosial, manusia saling membutuhkan, maka dari itu harus menjaga segala tingkah laku dan perbuatan.	NEGARA
Setiap orang yang tinggal di sebuah negara terikat oleh aturan dan norma yang berlaku di negara tersebut.	MASYARAKAT
Seluruh anggota keluarga saling melindungi satu sama lain dengan tujuan meningkatkan keselamatan dan kesejahteraan keluarga.	DIRI SENDIRI

Ayo, Membuat Kalimat Tanya!

Kamu akan mencoba membuat kalimat tanya agar memahami teks berikut. Ayo, kamu baca teks berikut dengan cermat, ya!

Salah satu ciri makhluk hidup adalah bernapas. Bernapas adalah pertukaran gas. Bernapas adalah menghirup oksigen (O_2) dan mengeluarkan karbon dioksida (CO_2) dan uap air (H_20) dari dalam tubuh melalui alat-alat pernapasan. Makhluk hidup bernapas setiap saat. Oksigen dibutuhkan oleh makhluk hidup sebagai bahan bakar metabolisme sel di dalam tubuh. Proses pernapasan secara umum terjadi di dalam organ pernapasan makhluk hidup, misalnya manusia menggunakan hidung, tenggorokan, dan paru-paru sebagai alat pernapasan.

Buatlah kalimat dengan kata tanya (apa, siapa, dimana, kapan, dan mengapa) sesuai dengan jawaban yang tersedia !

1. .....
   Jawaban: hidung, tenggorokan, dan paru-paru sebagai alat pernapasan
2. .....
   Jawaban: setiap saat
3. .....
   Jawaban: proses bernapas adalah menghirup oksigen dan mengeluarkan karbondioksida dan uap air
4. .....
   Jawaban : proses pernapasan terjadi di dalam organ pernapasan

LIVEWORKSHEETS