Control N°2 8° Básico

Nombre: _____ Curso: 8° __

En cada uno de los cuadrados escriban lo que corresponda según la pregunta.

1) Escriba en el espacio vació (lado izquierdo), "Si" si se trata de una función y "No" si no es una función

A) 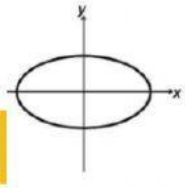

B) 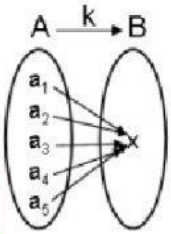

C) 

D) 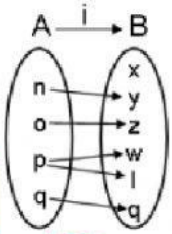

E) 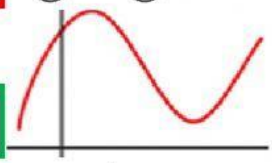

F) 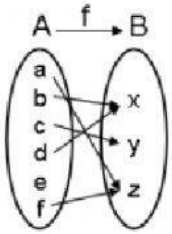

2) **Escriba los valores que correspondan en las líneas, para valorizar la función y=4x. Además, completa los pares ordenados que correspondan. Puede guiarse por el ejemplo.**

x	$y = 4x$	Y	(x, y)
-6	$4 \cdot (-6)$=	-24	(-6, -24)
-3	$4 \cdot$ (__)	___	(__, ___)
0	$4 \cdot$ (__)	___	(__, ___)
5	$4 \cdot$ (__)	___	(__, ___)

LIVEWORKSHEETS

3) Mirando la imagen

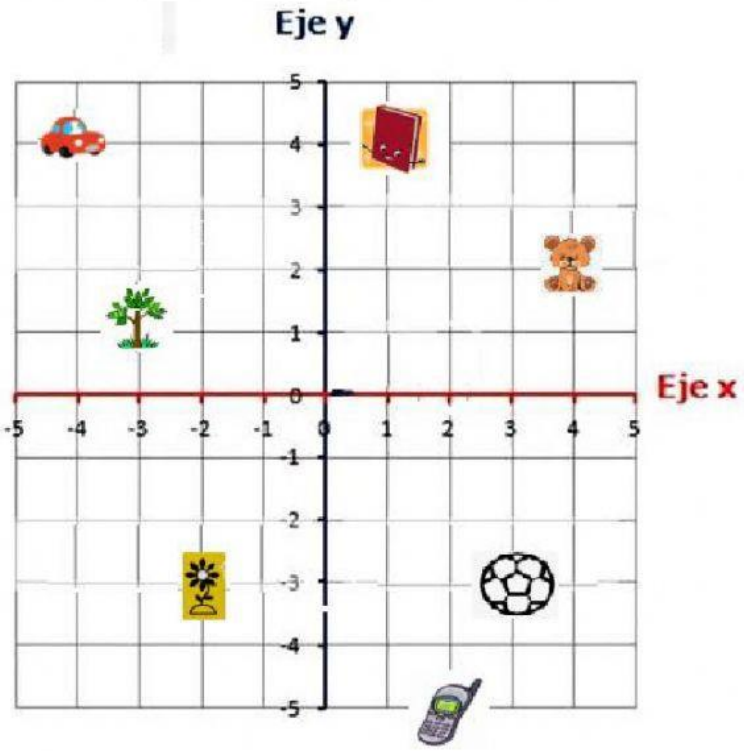

Escriba los valores que debe ir en cada par ordenado para indicar



LIVEWORKSHEETS