A 看图写连加算式。

1



2 + ☐ + ☐ + ☐ + ☐ + ☐ + ☐

= ☐

2

5 + ☐ + ☐ + ☐

= ☐

3

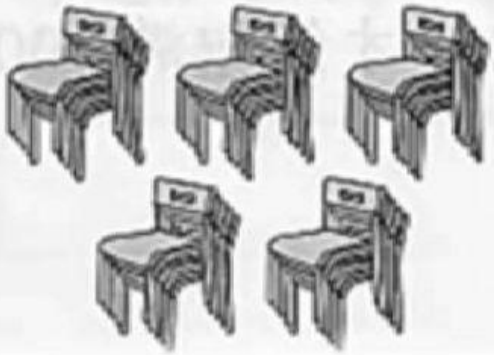

共有多少把椅子？

_____

_____

LIVEWORKSHEETS

B 写出连加算式。

1

每条龙舟上有10人，5条龙舟共坐了多少人？

2

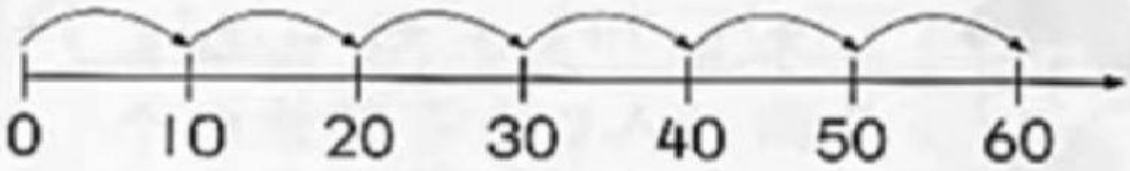

3 莫哈末用一双手做手掌印画。他要重复印多少次，才能印满100个手指？

LIVEWORKSHEETS

C 填一填。

1 天空中有 (30) 只动物。

2 池塘里有 (40) 只动物。

3 地上有 ( ) 只动物。

4 写连加算式，算一算上图共有多少只动物。

LIVEWORKSHEETS