MATEMATICAS 4

ASPECTOS A EVALUAR	RASGO A EVALUAR	SI	NO
PENSAMIENTO MATEMATICO	RESOLUCION DE PROBLEMAS		
	TEMPORALIDAD		
	SISTEMA MONETARIO		
	MANEJO DE ANGULOS		
	RECONOCIMIENTO DE FRACCIONES		
	USO DE OPERACIONES		
	ANALISIS DE TABLAS DE DATOS		

Nombre del alumno:

INSTRUCCIONES: Lee detenidamente y subraya la respuesta que consideres correcta.

1.- Si las manzanas se venden en bolsas de 10 piezas, ¿cuántas manzanas hay en 12 bolsas?

A) 110 manzanas.
B) 100 manzanas.
C) 120 manzanas.
D) 130 manzanas.

2.- Un día tiene horas

3.- Medio día tiene horas

4.- Entonces, dos días y medio tienen horas

LIVEWORKSHEETS

Selecciona cuántos billetes de $100 necesitaríaspara tener $900

Relaciona cada ángulo con su equivalente

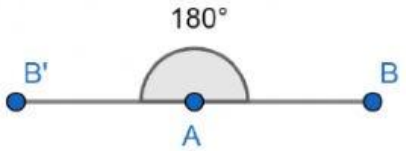

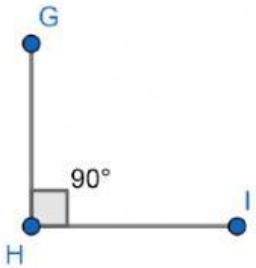

Ángulo recto

Ángulo llano

LIVEWORKSHEETS

Relaciona con una línea cada fracción

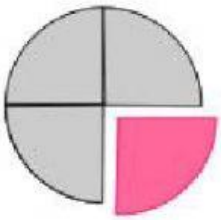

$\frac{2}{8}$

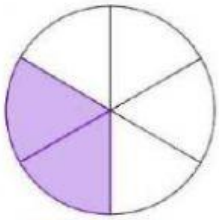

$\frac{4}{8}$

$\frac{2}{6}$

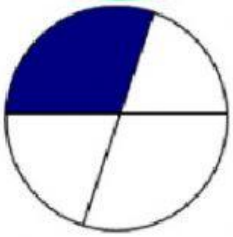

$\frac{1}{4}$

16.- Entre Luis, Mario, Pablo y Ramón compraron 44 cubos de madera, si losquieren repartir en partes iguales, ¿cuántoscubos de madera le tocarán a cada uno?

A) 11 cubos de madera.
B) 10 cubos de madera.
C) 12 cubos de madera.
D) 14 cubos de madera.

Resuelve la siguiente división: 150 ÷ 10=
E) A) 15
F) B) 160
G) C) 140
H) D) 1500

LIVEWORKSHEETS

Andrés compró en la tienda unas galletas que costaban $12.00, un jugo de $8.00 y un melón de $15.00. Si Andrés gastótodo su dinero, ¿cuánto dinero tenía?

A) $23.00
B) $20.00
C) $27.00
D) $35.00

Vuelo con destino	Hora de salida	Hora de llegada	costo
Monterrey	**7:00**	**8:15**	**$1500**
Guadalajara	**9:30**	**10:30**	**$2200**
Saltillo	**11:15**	**12:00**	**$1200**
Tijuana	**10:55**	**12:55**	**$2500**
Mérida	**11:05**	**12:35**	**$2000**

11.- ¿Cuánto tiempo tarda el vuelo de la Ciudad de México a Tijuana?
A) Una hora.
B) Una hora y media.
C) Cuarenta y cinco minutos.
D) Dos horas.

12.- ¿Con cuánto dinero compramos dos boletos para viajar a Mérida?
A) $2 000
B) $3 000
C) $4 000
D) $5 000

LIVEWORKSHEETS