


الفصل الدراسي الاول:2021 / 2022
ورقة عمل :الرياضيات

المدارس العشرة
المدرسة الأساسية الخامسة

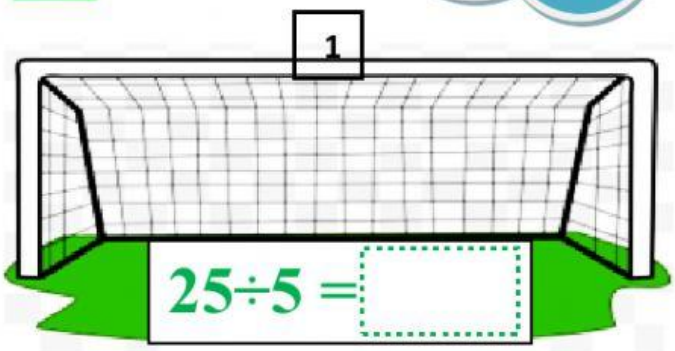
اسم الطالب : ..... الصف الثاني شعبة( ) التاريخ: .....

النتاجات ايجاد ناتج القسمة بشكل صحيح



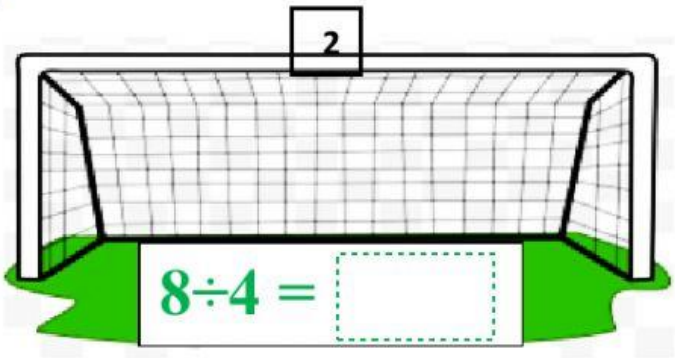
هيا بنا يا صغاري
لنحقق الأهداف في
المرمى بايجاد ناتج
القسمة الصحيح

1



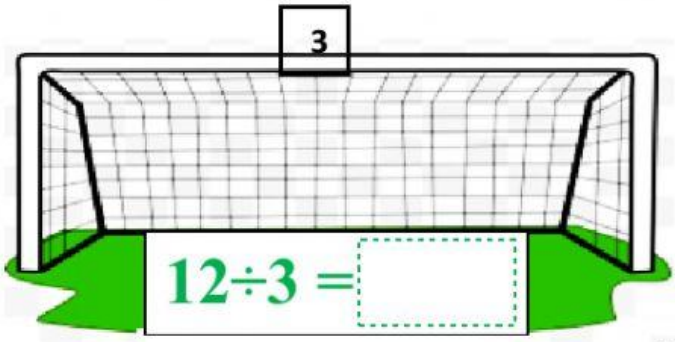


2



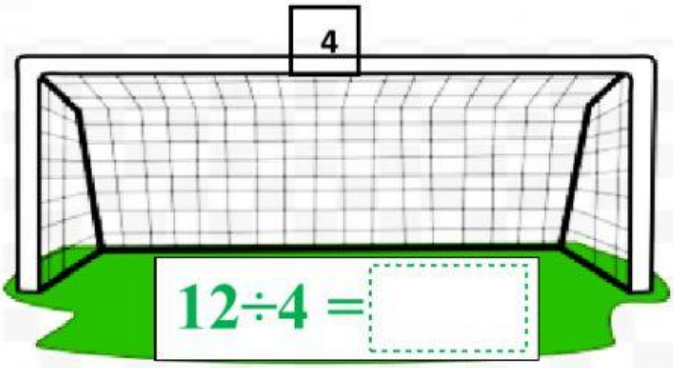


3





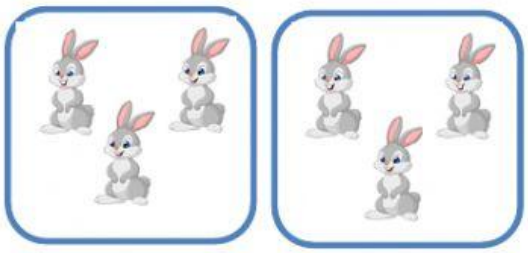
4



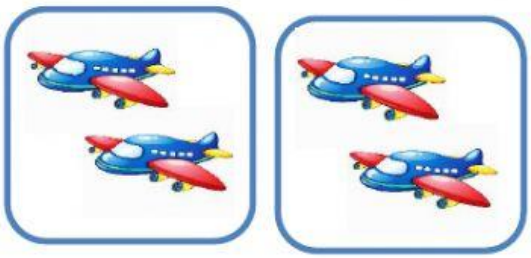


LIVEWORKSHEETS

أكتب جملة القسمة المناسبة للأشكال التالية:



□ ÷ □ = □



□ ÷ □ = □

صل بين جملتي الضَّرب والْقسمة الْمترابطتين:

$5 \times 2 = 10$	$9 \div 3 = 3$
$3 \times 3 = 9$	$10 \div 2 = 5$

أيُّها الْعبقري الصَّغير قم بحل الْمسالة الآتية:

وزعت هند 16 بالون على صديقاتها بحيث أخذت كل صديقة منهم 4 بالونات . فما عدد صديقاتها؟

□ ÷ □ = □

.....

صغيري الْمبدع اختر الإجابة الصَّحيحة:

$20 \div 4 =$	3	5	2
$6 \div 3 =$	2	3	5

LIVEWORKSHEETS