LEMBAR KERJA PESERTA DIDIK

Nama Peserta Dididk :
Mata Pelajaran : **Matematika**
Kelas/Semester : **VI/1**
Materi : **Penjumlahan dan Pengurangan Bilangan bulat**

Kegiatan :

- ✓ Lakukan kegiatan pada LKPD ini !
- ✓ Batas pengerjaan sampai hari Sabtu, 14 Agustus 2021
- ✓ Jika sudah selesai Screenshot nilai hasil pekerjaanmu kemudian kirim melalui tautan berikut ini : https://tinyurl.com/LKPD3tambahkurangbilbel

A. Simaklah Video berikut ini seksama!

LIVEWORKSHEETS

LEMBAR KERJA PESERTA DIDIK

Kegiatan 1

1. Hasil dari 5 + (-4) adalah ... .
   Jika kita ingin mengoperasikan penjumlahan tersebut dengan pendekatan garis bilangan metode maju mundur maka pernyataan yang benar dari operasi tersebut adalah ...
   a. Gerakkan bilangan lima dengan arah maju sejauh lima langkah dari 0 (nol) kemudian lanjutkan maju sejauh empat langkah
   b. Gerakkan bilangan lima dengan arah maju sejauh lima langkah dari 0 (nol) kemudian mundur sejauh empat langkah
   c. Gerakkan bilangan lima dengan arah mundur sejauh lima langkah dari 0 (nol) kemudian maju sejauh empat langkah
   d. Gerakkan bilangan lima dengan arah mundur sejauh lima langkah dari 0 (nol) kemudian lanjutkan mundur sejauh empat langkah

2. Hasil dari operasi bilangan bulat di atas adalah ...
   a. 1 c. -1
   b. 9 d. -9

Kegiatan 2

Pindahkanlah kalimat matematika pada kolom berikut ke kolom kosong yang merupakan jawaban yang sesuai dengan pendekatan garis bilangan !

(-3) - (-6) = (-9)	**(-9) + 13 = 4**	**(-3) + (-6) = (-9)**

a.

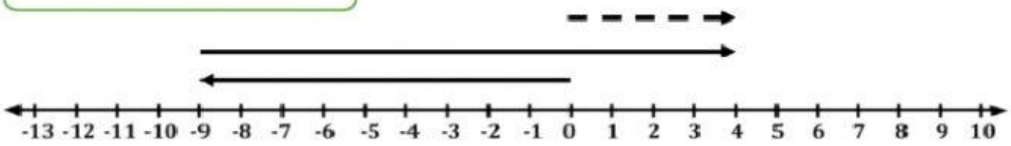

b.

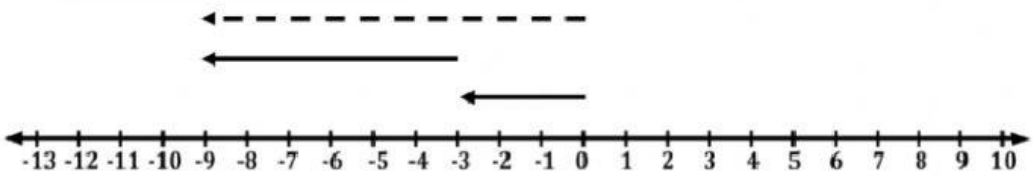

LIVEWORKSHEETS

LEMBAR KERJA PESERTA DIDIK

Kegiatan 3

Pilihlah pernyataan yang benar dari operasi hitung berikut ini dengna memberikan tanda (√) pada operasi yang sesuai !
(pilihan boleh lebih dari satu)

a – b = a + (–b)	–a – b = –a + (–b)
a – (–b) = a + b	–a – (–b) = –a + b

Tulis kata benar atau salah pada kolom sebelah kanan berdasarkan operasi hitung pada kolom sebelah kiri !

Hasil dari 5 + (-3) = 5 – 3 = 2	
6 – (– 4) = 6 – 4 = 2	

Kegiatan 4

Pindahkanlah kotak yang di sebelah kanan ke kotatak di sebelah kiri yang sesuai !

1. 3 + (-4) = … .

   – – –
   – – – –

2. (-3) + 4 = … .

   – – –
   + + + +

3. (-3) + (-4) = … .

   + + +
   – – – –

LIVEWORKSHEETS

LEMBAR KERJA PESERTA DIDIK

Jodohkan operasi hitung bilangan bulat di sebelah kiri dengan menarik garis ke jawaban yang sesuai dengan operasi di sebelah kanan !

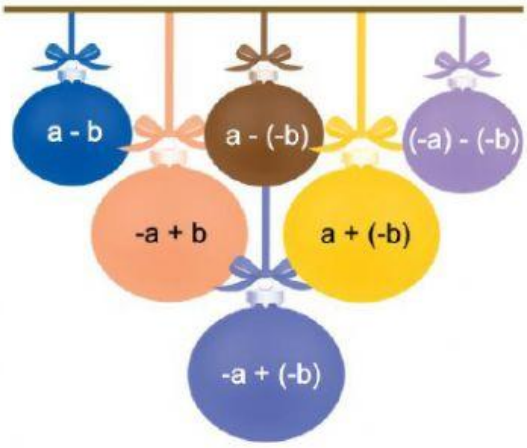

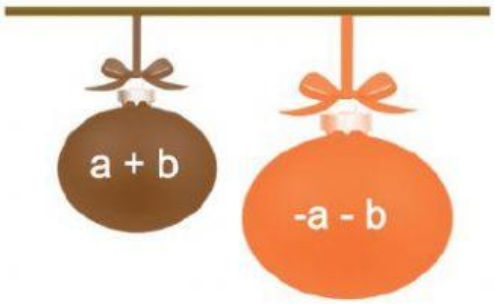

LIVEWORKSHEETS