Correspondencia y Pares ordenados

1. Observa los conjuntos P y Q. **Completa** los pares ordenados que se han formado.

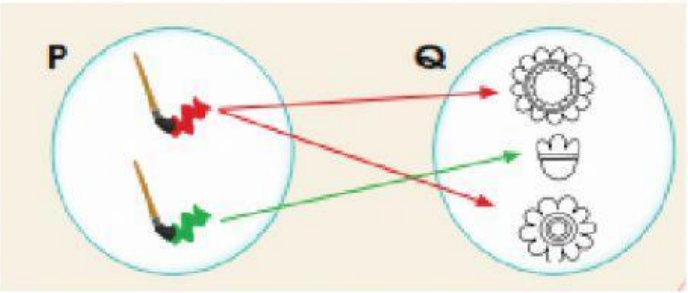

(____, ____)

(____, ____)

(____, ____)



2. Completa la tabla de doble entrada que corresponde al diagrama sagital de los conjuntos H y P.

H / P	Daniel	Juan	Pedro
Lucas			
Carlos			
Felipe			

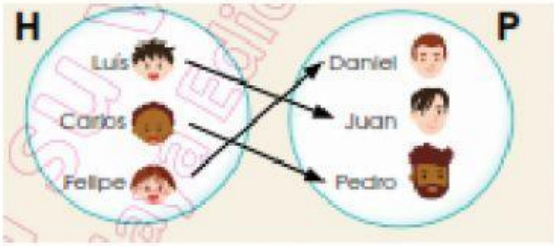

3. En parejas, **completen** los elementos que faltan en el conjunto M, **adicionen** el valor que se indica y **representen** los pares que se han formado en un diagrama cartesiano.

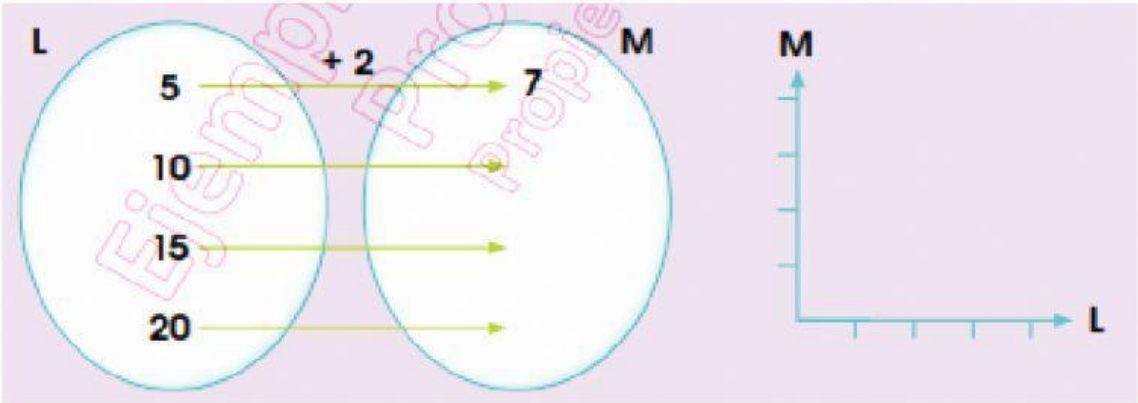

LIVEWORKSHEETS