SAINS TAHUN 1

UNIT 7: MAGNET

NAMA MURID	

TONTON VIDEO PEMBELAJARAN

LIVEWORKSHEETS

ARAHAN:PERHATIKAN GAMBAR RAJAH 1 DI BAWAH ,

KEMUDIAN PILIH JAWAPAN YANG BETUL.



Rajah 1

1. SUSUNAN KUTUB MAGNET RAJAH 1ADALAH

SAMA | BERBEZA

2. NYATAKAN APAKAH YANG BERLAKU KEPADA MAGNET TERSEBUT ?

MAGNET MENARIK | MAGNET MENOLAK

3. NYATAKAN MAGNET YANG MEMPUNYAI SUSUNAN KUTUB YANG SAMA SEPERTI DI DALAM RAJAH 1.

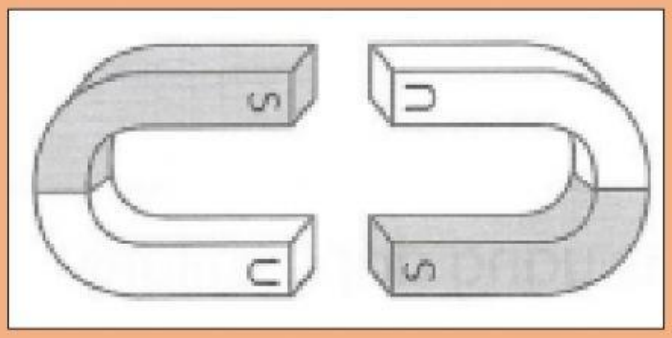

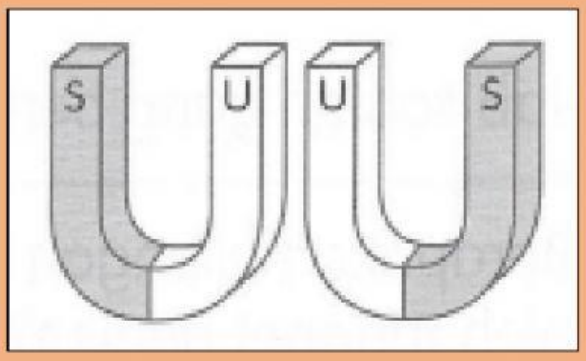

LIVEWORKSHEETS

ARAHAN:PERHATIKAN GAMBAR RAJAH 2 DI BAWAH ,

KEMUDIAN PILIH JAWAPAN YANG BETUL.



Rajah 2

1. SUSUNAN KUTUB MAGNET RAJAH 2 ADALAH

SAMA | BERBEZA

2. NYATAKAN APAKAH YANG BERLAKU KEPADA MAGNET TERSEBUT ?

MAGNET MENARIK | MAGNET MENOLAK

3. NYATAKAN MAGNET YANG MEMPUNYAI SUSUNAN KUTUB YANG SAMA SEPERTI DI DALAM RAJAH 1.

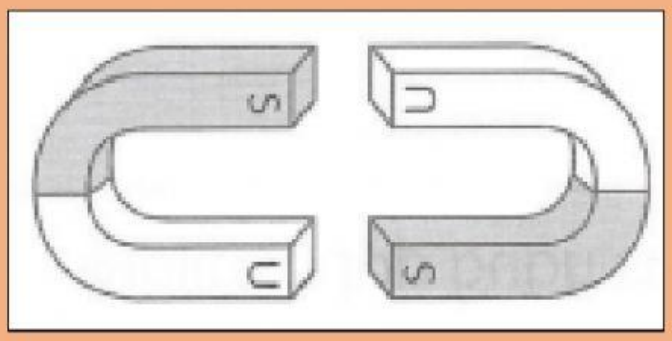



LIVEWORKSHEETS