PATRONES Y SECUENCIAS

1. CREA LA SECUENCIA Y RESPONDE

A. Crea una secuencia que inicie en 18 y cuya regla sea sumar 3.

B. Crea una secuencia que inicie en 111 y cuya regla sea restar 5.

2. ¿CUÁL ES EL PATRÓN DE ESTAS SECUENCIAS

4 - 12 - 20 - 28 - 36 PATRÓN: _____

33 - 29 - 25 - 21 - 17 PATRÓN: _____

3. ESCRIBE LA FUNCIÓN QUE REALIZA CADA MÁQUINA

1)

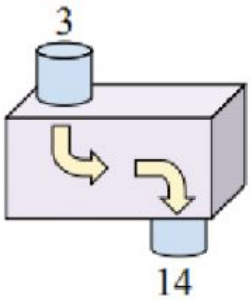

_____

2)

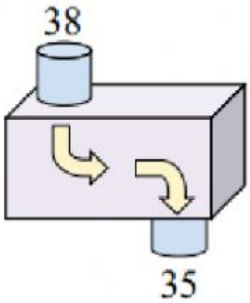

_____

3)

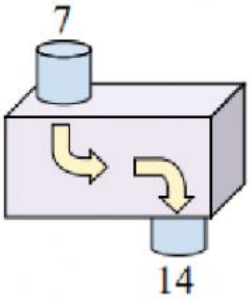

_____

4. DESCUBRE EL PATRÓN PARA COMPLETAR LAS TABLAS

1)

adentro	afuera
15	5
19	9
11	
42	32
25	

2)

adentro	afuera
7	18
18	29
29	40
60	
103	

3)

adentro	afuera
5	1
8	
7	3
10	6
	20