LEMBAR KERJA PESERTA DIDIK

MATEMATIKA

KELAS VI BAB 1

Soal Cerita Penjumlahan & Pengurangan Bilangan Bulat

Guru: Ni Made Sri Puspawati,S.Pd

Kerjakan soal-soal berikut dengan seksama dan teliti!

Nama :
Kelas/No :
Tanggal :

Suhu puncak Jayawijaya -6 derajat Celcius. Suhu puncak Gunung Gede 8 derajat Celcius. Selisih suhu udara di puncak Gunung Jayawijaya dan Gunung Gede adalah ... .

Jawab :

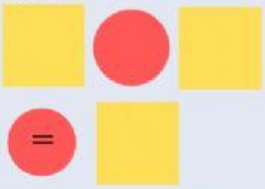

Suhu ruang guru sebelum digunakan 32 derajat Celcius. Saat Pak Andi tiba, ia menyalakan AC dan menurunkan suhunya 7 derajat Celcius. Pada sore hari, ia menaikkan suhu AC 3 derajat Celcius. Suhu ruang guru pada sore hari adalah ... .

Jawab :

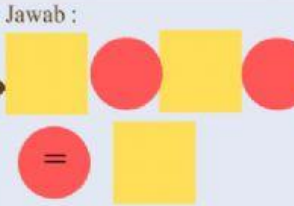

LIVEWORKSHEETS

Kota A berada pada ketinggian 800 m di atas permukaan laut. Kota B berada pada ketinggian 1350 m di atas permukaan laut. Selisih ketinggian Kota A dan B adalah ... m.

Jawab :



Seekor penyu berenang pada kedalaman 831 m di bawah permukaan laut. Pada saat bersamaan, seekor burung pelikan terbang di atasnya pada ketinggian9 m di atas permukaan laut. Berapam jarak antara penyu dan burung pelikan tersebut?

Jawab :

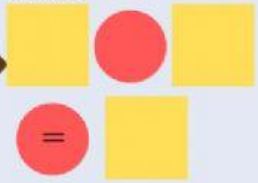

LIVEWORKSHEETS

LIVEWORKSHEETS