1. Дана функция $y=-7x+8$. Найти $y(2)=$ $y(-3)=$
   $y=-20$ при $x=$ $y=15$ при $x=$
2. Найти координаты точки пересечения графика функции $y=-0,5x+3$
   С осью ординат (;)
   С осью абсцисс (;)
3. Постройте в одной координатной плоскости графики функций $y=2x+1$ и $y=-3x+11$. Запишите координаты точки пересечения (;)
4. Какие значения принимает функция $y=4x+2$, если $-1 \leq x \leq 5$
   $\leq y \leq$
5. Какие значения принимает функция $y=-0.5x+1$, если $-4 \leq x \leq 2$
   $\leq y \leq$
6. Определите для каждого графика вариант знаков коэффициентов и поставьте номер ответа (только цифру)

   1. $k < 0$ $b < 0$
   2. $k < 0$ $b > 0$
   3. $k > 0$ $b < 0$
   4. $k > 0$ $b > 0$

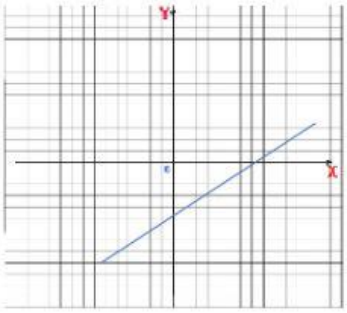

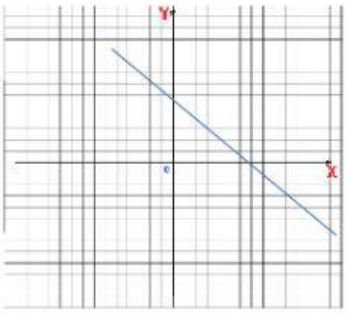

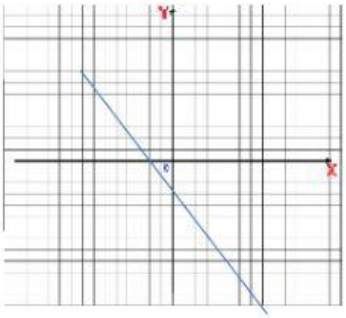

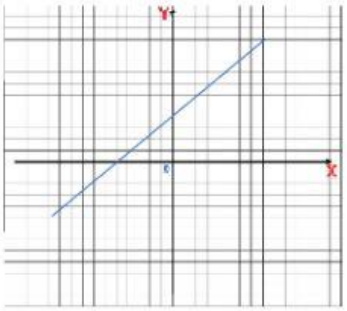

LIVEWORKSHEETS