ESCOLA MUNICIPAL LYRA MACHADO GOMES E SOUZA

Jaraguá, 05 de agosto de 2021.

Professora: **Adriana de Camargo**

Aluno (a): _____

Ano/Série:3º Turma: A Turno: Matutino

Atividade de Matemática

Lucas ganhou de sua avó uma caixa de bombons. Eles lembram a forma de uma pirâmide.

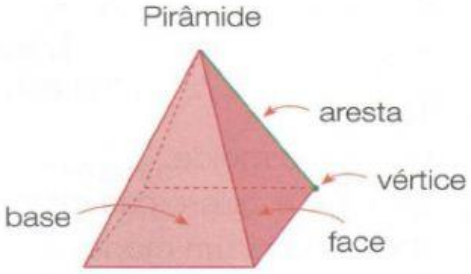

- A pirâmide mostrada acima tem 5 vértices, _____ arestas e _____ faces; uma das faces é chamada de base.
- A base dessa pirâmide tem a forma de um quadrado, e as outras faces têm a forma de _____.

1 Observe as pirâmides e depois complete.

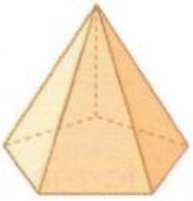

ILUSTRAÇÕES: ADILSON SECCO

	Elementos das pirâmides		
	Número de arestas	Número de faces	Número de vértices
Pirâmide laranja			
Pirâmide roxa			

LIVEWORKSHEETS

A embalagem do presente que Isabela ganhou em seu aniversário lembra a forma de um **cubo**.

Observe seus principais elementos.

ALEX CÔI

Cubo

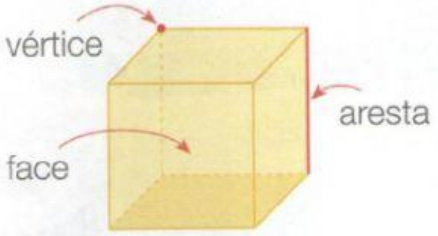

ADILSON SECCO

- O cubo tem 8 vértices, 12 arestas e _____ faces.

A embalagem de creme dental tem a forma de outro sólido geométrico. O nome desse sólido é **paralelepípedo** ou **bloco retangular**. Observe seus principais elementos.

PAULO MANZI

Paralelepípedo

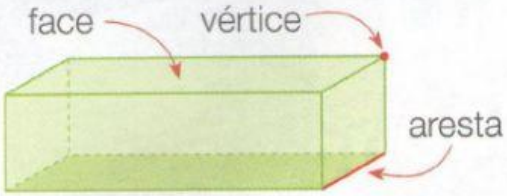

- O paralelepípedo possui 8 vértices, _____ arestas e _____ faces.

LIVEWORKSHEETS