BAB 7

Padankan jawapan yang betul

7.1 Graf [ ] - Masa

Pada suatu graf jarak-masa:

- Paksi [ ] mewakili jarak yang dilalui.
- Paksi [ ] mewakili tempoh masa yang diambil.
- Kecerunan graf mewakili **kadar** [ ] **jarak terhadap masa,** iaitu [ ]

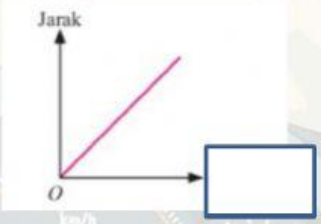

Jarak

Masa

Mencancang

perubahan

Mengufuk

Laju

7.1 Graf Jarak- Masa

(a)Jadual nilai jarak dan masa

Masa(s)	0	5	10	15	20
Jarak (m)	0	50	100	150	200

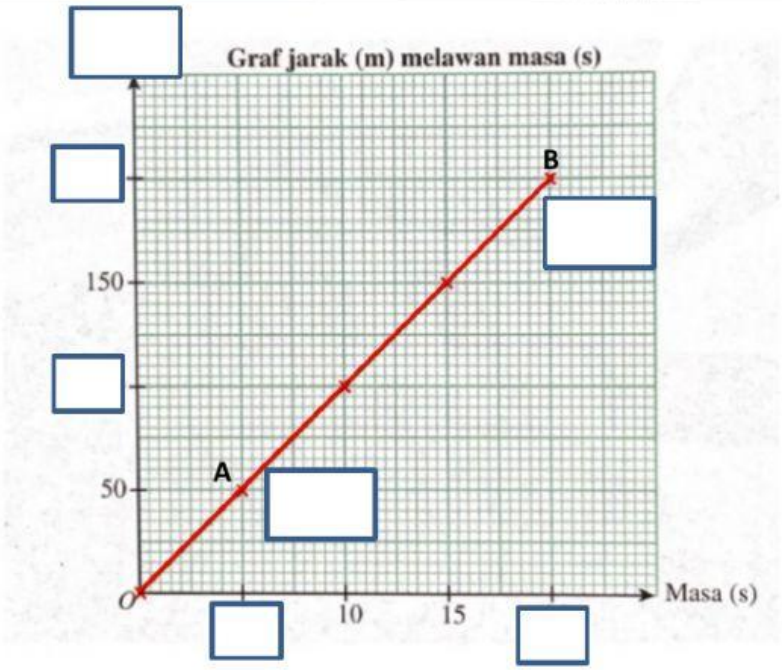

Jarak

200

100

5

20

(20,200)

(5,50)

LIVEWORKSHEETS

Bagaimanakah anda mentafsir graf jarak-masa?

Teliti dua bentuk graf jarak-masa di bawah.

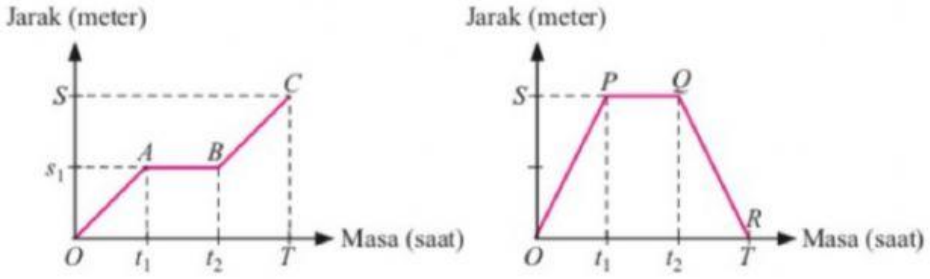

Padankan jawapan yang betul.

AB berada di kecerunan _____	Terhenti
Jarak tidak berubah bermaksud gerakan _____	Negatif
BC _____ yang seragam	Sifar
OP kecerunan _____	Pegun
_____ pada graf menunjukkan arah gerakan	Positif
PQ bermakna perjalanannya _____	Jarak
QR berada di kecerunan _____	Laju
Paksi mencancang mewakili _____	Masa
Unit saat mewakili _____	Kecerunan

LIVEWORKSHEETS