BAHAGIAN A

1. Berapakah nilai bagi not di atas?
   A: 2 C: 3
   B : 4 D: 1

2. Berikut merupakan istilah bagi dinamik kecuali
   A: slur C: forte
   B : piano D: crescendo

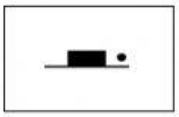

3. Gambarajah di atas menunjukkan sejenis tanda rehat. Ia adalah sejenis tanda rehat bagi not_____?
   A: semibrif bertitik
   B: minim bertitik
   C : krocet bertitik
   D: kuaver bertitik

4. Berapakah nilai not diatas?
   A: 1 C : 1/2
   B: 4 D : 3

5. Maksud Da Capo ialah _____.
   A: licin
   B: ulang dari mula
   C: pertukaran nafas
   D: kiraan panjang

LIVEWORKSHEETS



Gambarajah E

6. Apakah meter yang sesuai bagi corak irama dalam gambarajah E?

A:	2 4	B:	4 4
C:	3 4	D:	2 3

7. Pilih susunan sebutan solfa mengikut urutan rendah ke tinggi.
   - A: mi fa so la ti
   - B: do do re mi
   - C: do so la mi
   - D: fa so mi re

8. Nama irama kaedah 'Kodaly' bagi not  ialah _____.

A:	ta	C:	ta-a
B:	ta-a-a	D:	ta-a-a-a

9. Struktur dalam dua bahagian AB dalam muzik ialah _____.

A:	ternari	C:	minari
B:	trinary	D:	binari

10. Maksud *decrescendo* ialah _____.
    - A: beransur lembut
    - B: sederhana kuat
    - C: beransur kuat
    - D: sederhana lembut

LIVEWORKSHEETS