LATIHAN ULANGKAJI UNIT 1
SAINS TAHUN 2

Memerhati

Buku Teks: M.S. 2 – 4
Buku Aktiviti: M.S. 1

Padankan setiap situasi berikut dengan deria yang digunakan.
SP1.1.1 TP1

	Situasi	Deria
	Layang-layang Hafey terbang tinggi	Sentuhan
1.	Bunyi pengumuman itu sungguh kuat	Penglihatan
2.	Kek itu sangat manis	Pendengaran
3.	Anak patung itu sangat lembut	Rasa

LIVEWORKSHEETS

Tulis semula tumbuhan di bawah dalam kumpulan yang betul.

Rujukan Buku Teks
Unit 1; m.s. 5 – 8

Pokok bunga ros	Paku pakis	Cendawan
Pokok keembung	Pandan	Pokok teratai
Pokok bunga raya	Serai	

Tumbuhan berbunga	Tumbuhan tidak berbunga
_____	_____
_____	_____
_____	_____
_____	_____

LIVEWORKSHEETS

Kelaskan haiwan-haiwan di bawah mengikut cara pembiakannya.

Rujukan Buku Teks
Unit 1; m.s. 5 – 8



Bertelur	Beranak
_____	_____
_____	_____
_____	_____
_____	_____

LIVEWORKSHEETS

Mengukur dan Menggunakan Nombor

Buku Teks: M.S. 8 - 10
Buku Aktiviti: M.S. 5 - 6

Tuliskan nombor mengikut susunan untuk setiap aktiviti pengukuran di bawah. SP1.1.3 TP2

1. Mengukur panjang suatu objek

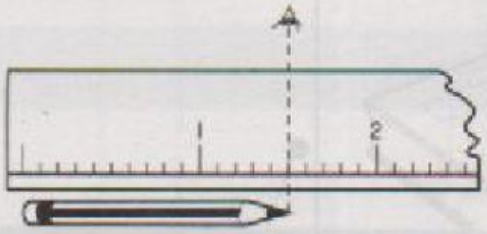

Letakkan objek di atas permukaan yang rata.	Perhatikan ukuran panjang dalam keadaan selari dan bacaan diambil.	Letakkan pembaris di sisi objek.
○	○	○

2. Mengukur isi padu air

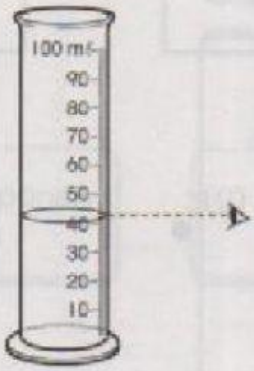

Ambil bacaan silinder penyukat.	Letakkan silinder penyukat yang berisi air di atas permukaan yang rata.	Isi air ke dalam silinder penyukat.
○	○	○

LIVEWORKSHEETS

Mengukur dan Menggunakan Nombor

Buku Teks: M.S. 8 – 10
Buku Aktiviti: M.S. 5 – 6

Terangkan sebab mengapa alat pengukur dan unit piawai digunakan dalam aktiviti berikut. SP1.1.3 TP5

isi padu | panjang | jisim/berat

1.

Alat pengukur: Pembaris

Unit piawai: sentimeter (cm)

Sebab: Mengukur _____ objek yang kurang daripada 30 cm.

2.



Alat pengukur: Silinder penyukat

Unit piawai: mililiter (mℓ)

Sebab: Mengukur _____ cecair.

3.

Alat pengukur: Penimbang/Neraca

Unit piawai: kilogram (kg)

Sebab: Mengukur _____ objek.

LIVEWORKSHEETS

Berkomunikasi

Buku Teks: M.S. 10 – 11
Buku Aktiviti: M.S. 7 – 8

Lengkapkan jadual dengan maklumat yang diberi. SP1.1.4 TP2.3

- Ahmad dan Zakwan bertugas memadam papan hitam pada hari Isnin
- Hamizah dan Aminah bertugas menyapu sampah pada hari Isnin
- Ayu dan Hana bertugas membuang sampah pada hari Isnin
- Kassim dan Abu bertugas mengelap tingkap pada hari Isnin

JADUAL BERTUGAS

Hari	Murid	Tugas
_____	_____ _____	Padam papan hitam
	Hamizah Aminah	_____
	_____ _____	Buang sampah
	_____ _____	_____

LIVEWORKSHEETS

A. **Klik pada jawapan yang betul.**

Memerhati

1. Antara yang berikut, yang manakah merupakan kemahiran proses sains memerhati? SP1.1.1

A

B



C

Mengelas

2. Rajah di bawah menunjukkan seekor ayam.

Antara haiwan berikut, yang manakah berada dalam kelas kumpulan yang sama dengan ayam? SP1.1.2

A Arnab
B Lembu
C Penyu

Mengukur dan Menggunakan Nombor

3. Rajah di bawah menunjukkan satu aktiviti.

Apakah alat dan unit piawai yang sesuai untuk aktiviti ini? SP1.1.3

	Alat	Unit piawai
A	Pembaris	mm
B	Pita pengukur	cm
C	Penimbang	kg

LIVEWORKSHEETS

Berkomunikasi

4. Rajah di bawah menunjukkan TP1 satu poster.

Apakah maklumat yang diperoleh daripada poster tersebut? SP1.1.4

A Kita perlu mengitar semula untuk menyelamatkan Bumi.
B Kita hendaklah menggunakan beg kertas untuk menggantikan penggunaan beg plastik.
C Kita perlu menjaga alam sekitar agar Bumi kita selamat.

5. Rajah di bawah menunjukkan TP2 seorang murid di dalam Bilik Sains.

Apakah jenis komunikasi yang ditunjukkan oleh murid tersebut? SP1.1.4

A Lisan
B Tulisan
C Lukisan

Kemahiran Manipulatif

6. Rajah di bawah menunjukkan TP3 seorang murid sedang mengendalikan spesimen.

Apakah yang sepatutnya dilakukan oleh murid tersebut? SP1.2.2

A Memegang spesimen dengan menggunakan forsep.
B Memegang spesimen dengan menggunakan penyepit tabung uji.
C Memegang spesimen dengan tangan.

7. Rajah di bawah menunjukkan TP4 satu kemahiran manipulatif.

Apakah kemahiran manipulatif tersebut? SP1.2.3

A Mengendalikan spesimen dengan betul dan cermat.
B Melakar, peralatan dan bahan sains dengan betul.
C Menyimpan peralatan dan bahan sains dengan betul dan selamat.

LIVEWORKSHEETS

B. Jawab semua soalan.

Memerhati

1. Nyatakan deria yang digunakan untuk membuat pemerhatian berikut. SP1.1.1

(a)	(b)	(c)

(d)	(e)

[ ]

Kemahiran Manipulatif

2. Padankan rajah di bawah dengan kemahiran manipulatif yang betul. SP1.2.1, SP1.2.5

(a)	• Menggunakan dan mengendalikan peralatan dan bahan sains dengan betul.
(b)	• Mengendalikan spesimen dengan betul dan cermat.
(c)	• Melakar spesimen, peralatan dan bahan sains dengan betul.

LIVEWORKSHEETS