SESC – CENTRO EDUCACIONAL DE TERESINA
"JOSÉ ALVES DE SOUSA NETO"
Rua Santa Catarina, 285 – Bairro Ilhotas.

Escola:_____

Nome:_____

Teresina, _____ de _____ de _____

Professora: Francisca Rodrigues 5º Ano Ciências

Atividade

1. A que espécie os seres humanos pertencem?

_____

_____

2. Marque as alternativas corretas.

a) ( ) O corpo humano funciona como uma grande máquina.

b) ( ) O ser humano é uma verdadeira composição orgânica.

c) ( ) Quando o homem de reproduz ele não transfere nenhuma característica familiar.

d) ( ) Cada ser humano é único.

e) ( ) Pelo exame de DNA é possível a identificação da paternidade.

3. Que cuidados devemos ter com o nosso corpo?

_____

_____

4. Complete o mapa conceitual.

CORPO HUMANO → Formado por → [ ] → Quando realizam a mesma função, formam os → [ ] → Quando juntos, formam os [ ]

Quando desempenham funções diferentes, formam os → [ ] → Organizados em grupos que são → [ ] → [ ] → [ ] → [ ]

5. Relacione as colunas de acordo com as legendas

1. Sistemas **2. Órgãos** **3 Organismo**

a) ( ) São formados pela união dos tecidos para desempenhar uma determinada função.

b) ( ) Cada um pode ser visto de maneira independente, mas, todos se articulam de maneira integrada no funcionamento do organismo.

c) ( ) É o conjunto de todos os sistemas.

LIVEWORKSHEETS

6. Observe a célula e nomeie cada uma de suas partes.

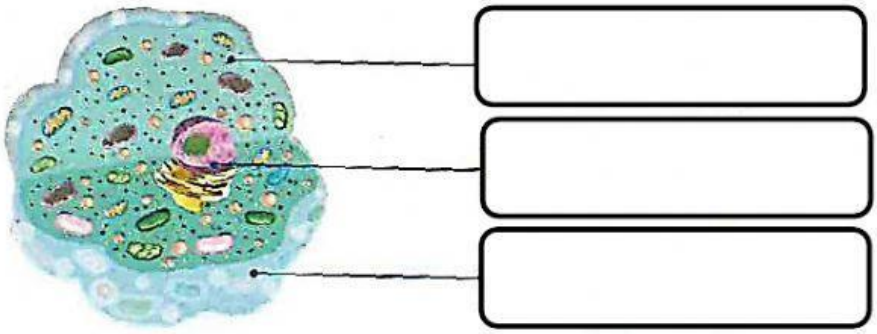

7. O que é

a. Que constitui a parte da célula que fica entre a membrana e o núcleo? _____

b. Que por ela, entram substâncias como água, oxigênio, alimentos, etc. _____

c. Que está no centro da célula. _____

8. Classifique em unicelulares (**U**) ou pluricelulares (**P**).

( ) Homem ( ) Aves ( ) Boi ( ) Peixes

( ) Ameba ( ) Bactérias ( ) Répteis ( ) Insetos

9. Pesquise e escreva a definição de:

Genética _____

_____

_____

10. Observe as imagens e identifique o tipo de célula.

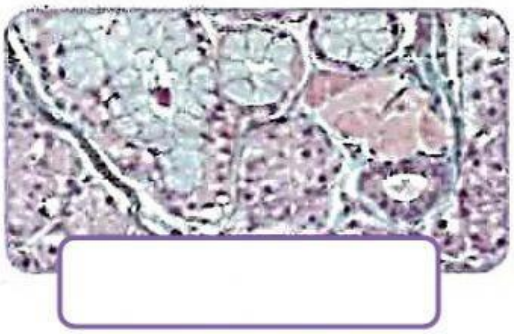

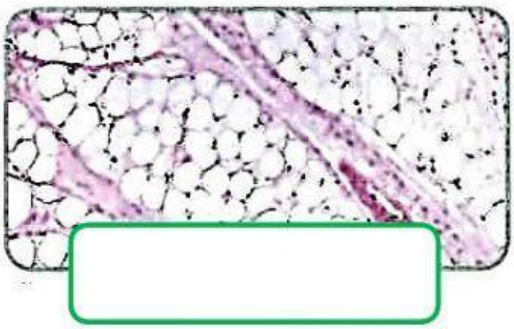

LIVEWORKSHEETS

11. Defina:

a. Seres unicelulares.

_____

_____

b. Seres pluricelulares.

_____

_____

12. Relacione as colunas corretamente.

1. Célula macroscópica 2. Célula microscópica 3 . Célula Epitelial

( ) Agrupadas com outras, forma tecidos.
( ) Podem ser vistas a olho nu.
( ) Só pode ser vista com o auxílio de um microscópio.

13. Descreva:

a. Membrana celular:

_____

_____

b. Citoplasma

_____

_____

c. Núcleo

_____

_____

LIVEWORKSHEETS