11 Regina ordena estos objetos siguiendo un patrón.

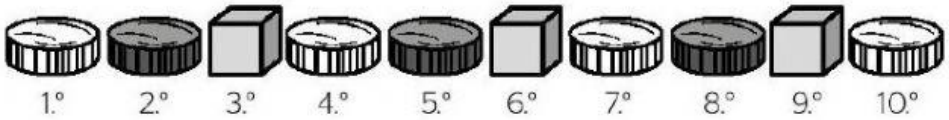

Ella ha ordenado en total 20 objetos.

¿Cuál será el último objeto de este ordenamiento?

a

b

c

---

12 Carmen colecciona piedritas para hacer collares. Ella las cuenta siguiendo una secuencia. Observa.

27, 31, 35, 39, 43, ...

¿Qué debes hacer para encontrar el número que sigue?

a Sumar 1 al 43.

b Sumar 3 al 43.

c Sumar 4 al 43.

d Sumar 7 al 43.

LIVEWORKSHEETS

13 Esta balanza está en equilibrio.

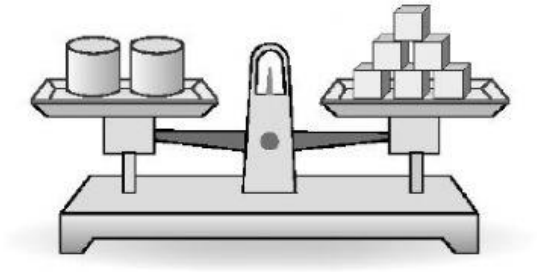

Todos los tienen igual peso. También, todos los pesan igual entre ellos.

¿Cuántos pesa un ?

a

b

c

d

LIVEWORKSHEETS

14 Un juego tiene varias fichas de tres tamaños diferentes. Observa.

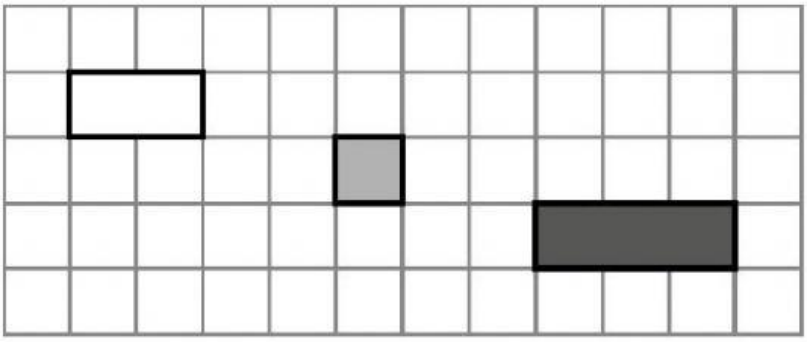

Juan formó la siguiente figura usando tres fichas grises y una negra.

Ahora, combina de formas diferentes las fichas del juego y forma otras dos figuras en los espacios delineados.

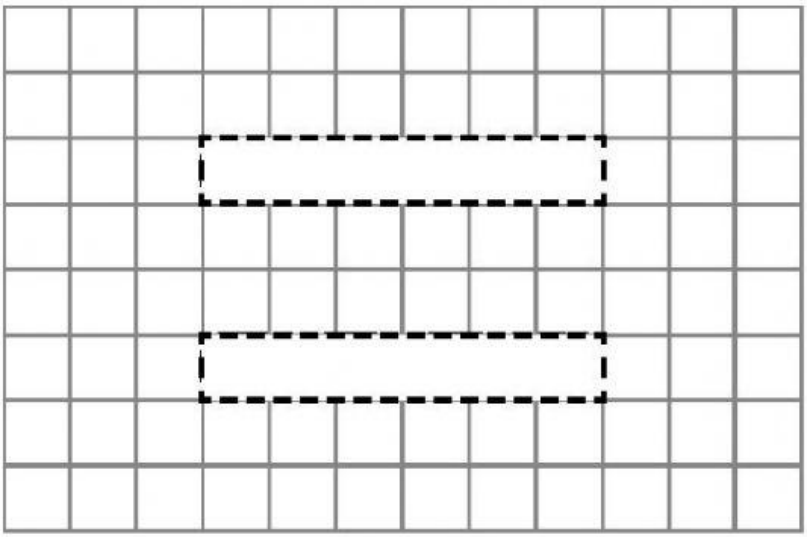

LIVEWORKSHEETS

15 Observa la pulsera de semillas que está elaborando Silvia.

Para seguir la secuencia de la pulsera, ¿qué grupo ordenado de semillas debe poner Silvia?

a

b

c

d

16 En el kiosco, se realiza el siguiente canje:

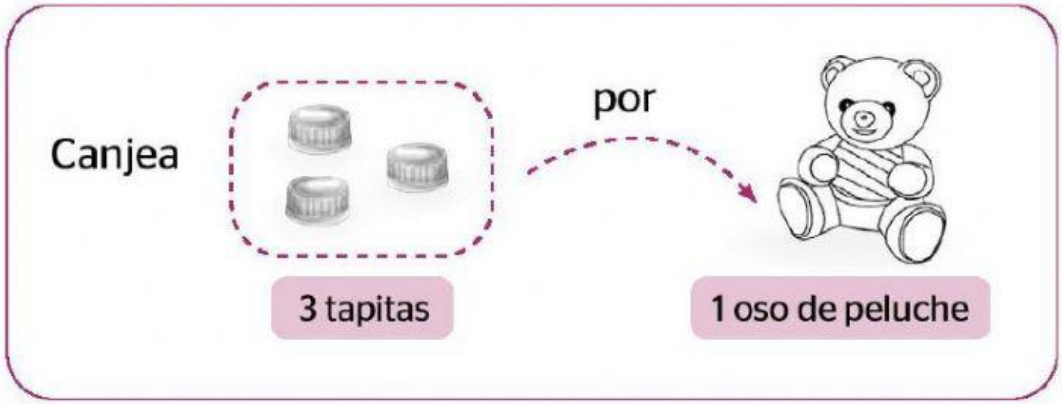

Jaime quiere canjear 4 osos de peluche, ¿cuántas tapitas necesitará?

a 3 tapitas.

b 4 tapitas.

c 7 tapitas.

d 12 tapitas.

LIVEWORKSHEETS

17 Esta figura se ha formado con siete fichas de madera.

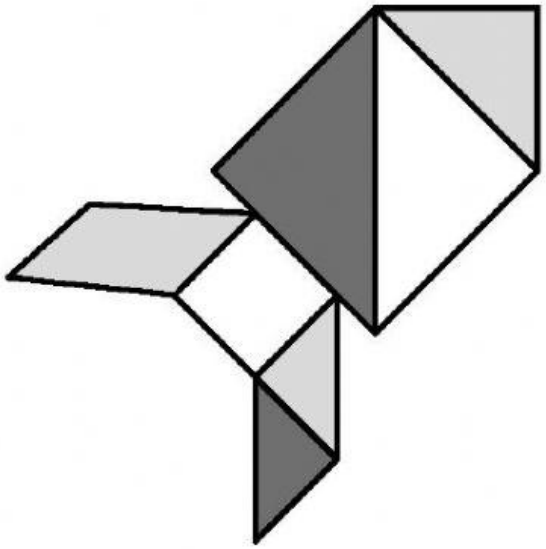

En la figura, marca una X en cada una de las fichas con **forma de triángulo**.

LIVEWORKSHEETS

18 Observa esta caja.

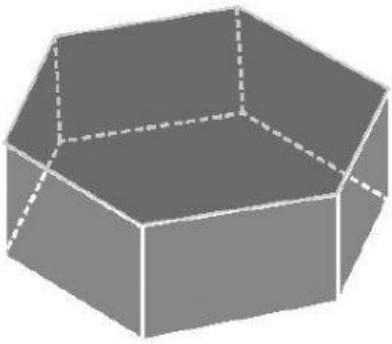

¿Cuál de estas figuras **NO** corresponde a la forma de las caras de la caja?

a

b

c 

LIVEWORKSHEETS

19 Observa la figura que se ha dibujado en la cuadrícula.

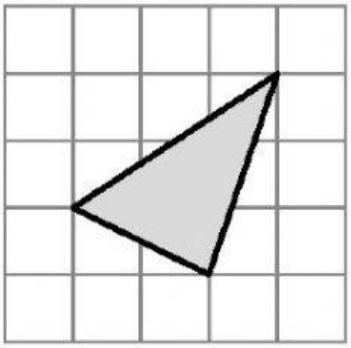

Melisa dice: **"Esa figura NO es un triángulo porque está volteada"**.

¿Es correcto lo que dice Melisa?

Sí ☐ No ☐

Explica aquí tu respuesta.

LIVEWORKSHEETS

20 Esta es la casa de Bimbo. Tiene una entrada y una ventana.

Desde la posición en la que se encuentra Bimbo en la imagen, ¿qué parte de la casa se observa?

a

b

c

LIVEWORKSHEETS

21 Observa esta lámina rectangular. En todo su contorno, se están colocando palitos de madera del mismo tamaño.

¿Cuántos palitos de madera se usarán en total?

a 7 palitos.

b 11 palitos.

c 14 palitos.

d 16 palitos.

LIVEWORKSHEETS