NOME:

PROFESSORA: *Márcia Campos* DATA:

ATIVIDADE MATEMÁTICA

RESOLVA OS PROBLEMINHAS

1)-MIGUEL TEM 3 CARRINHOS. GANHOU MAIS 4 DE SEU PAI. COM QUANTOS CARRINHOS MIGUEL FICOU?

____ + ____ =

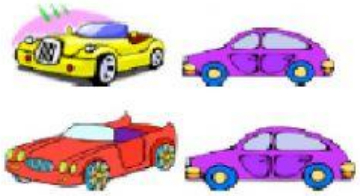

R: MIGUEL FICOU COM _____ CARRINHOS.

2) PEDRO TINHA 6 BOMBONS E GANHOU MAIS 4 DE SUA VÓ. QUANTOS BOMBONS O PEDRO TEM AGORA?



____ + ____



R: O PEDRO TEM AGORA _____ BOMBONS.

3)TALITA TEM 5 URSINHOS E SUA AMIGA LÍVIA TEM 6 URSINHOS. QUANTOS URSINHOS ELAS TÊM JUNTAS?

____ + ____



R: ELAS TÊM JUNTAS _____ URSINHOS

4) NA CASA DO GUSTAVO TEM 8 GATINHOS E 3 CACHORRINHOS. QUANTOS ANIMAIS TEM NA CASA DO GUSTAVO?

____ + ____ =

R: NA CASA DO GUSTAVO TEM _____ ANIMAIS.

antenadas2013@gmail.com

LIVEWORKSHEETS