1.-Resuelve las siguientes sumas

C	D	U
○	○	
3	0	4
1	9	9

+

C	D	U
3	8	6
7	4	3

+

=

2.-Coloca sus vértices, lados y vértices a las siguientes figuras

FIGURA	Número de lados	Número de vértices	Número de ángulos
PENTÁGONO			
TRIÁNGULO			
CUADRADO			

3.-Une con una línea los polígonos regulares e irregulares

Polígono irregular

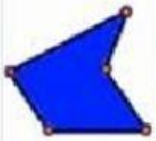

polígono regular

MarcosparaHojas.com
LIVEWORKSHEETS

4.- Observa y arrastra los numeros al abaco según corresponda

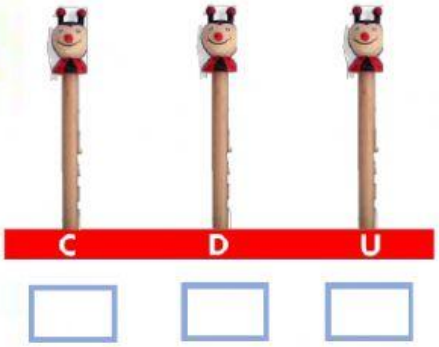

9 5 2

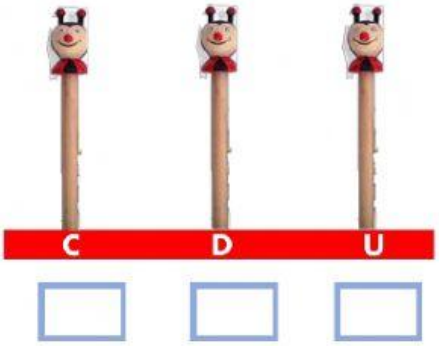

7 3 6

C	D	U
8	6	4

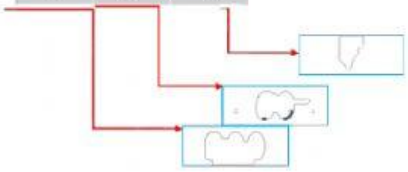

C	D	U
1	1	2

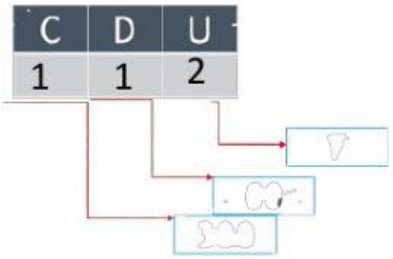

6.-Coloca los terminos de la suma

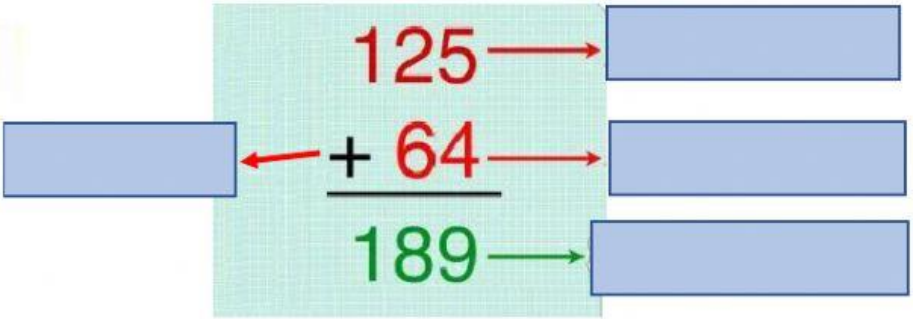

7.-Selecciona las clases de polígonos

a) Polígonos regulares

b)polígonos iguales

c)Polígonos irregulares

d)polígonos diferentes

MarcosparaHojas.com
LIVEWORKSHEETS

LIVEWORKSHEETS