TUGAS 1 (MATEMATIKA)

Contoh:

Perhatikan bilangan dan lambang bilangan berikut ini!

Lambang Bilangan	Nama Bilangan
- 27	Negatif dua puluh tujuh
36	Tiga puluh enam
- 307	Negatif tiga ratus tujuh
686	Enam ratus delapan puluh enam

Soal:

Kerjakan soal di bawah ini dengan memilih salah satu jawaban sesuai contoh di atas!

Lambang Bilangan	Nama Bilangan
- 1.506	.....
891	.....
- 97	.....
10.432	.....

Contoh:

Perhatikan garis bilangan berikut ini!

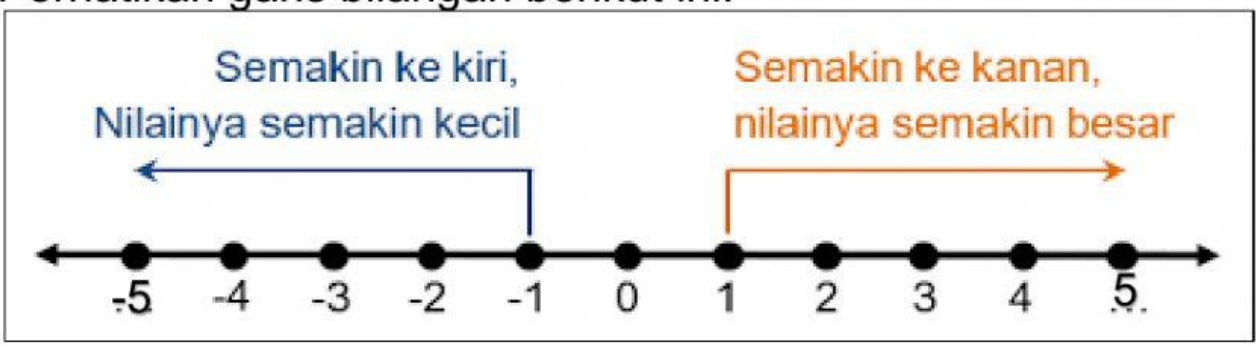

Soal:

Isilah bilangan yang kosong berikut!

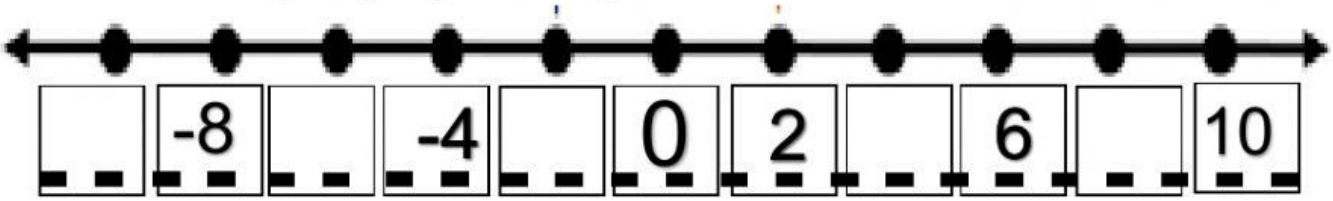

LIVEWORKSHEETS

TUGAS 2 (TEMA)

Kelompokkanlah hewan-hewan yang ada di dalam teks dan yang kamu temukan ke dalam diagram Venn berikut berdasarkan cara perkembangbiakannya.

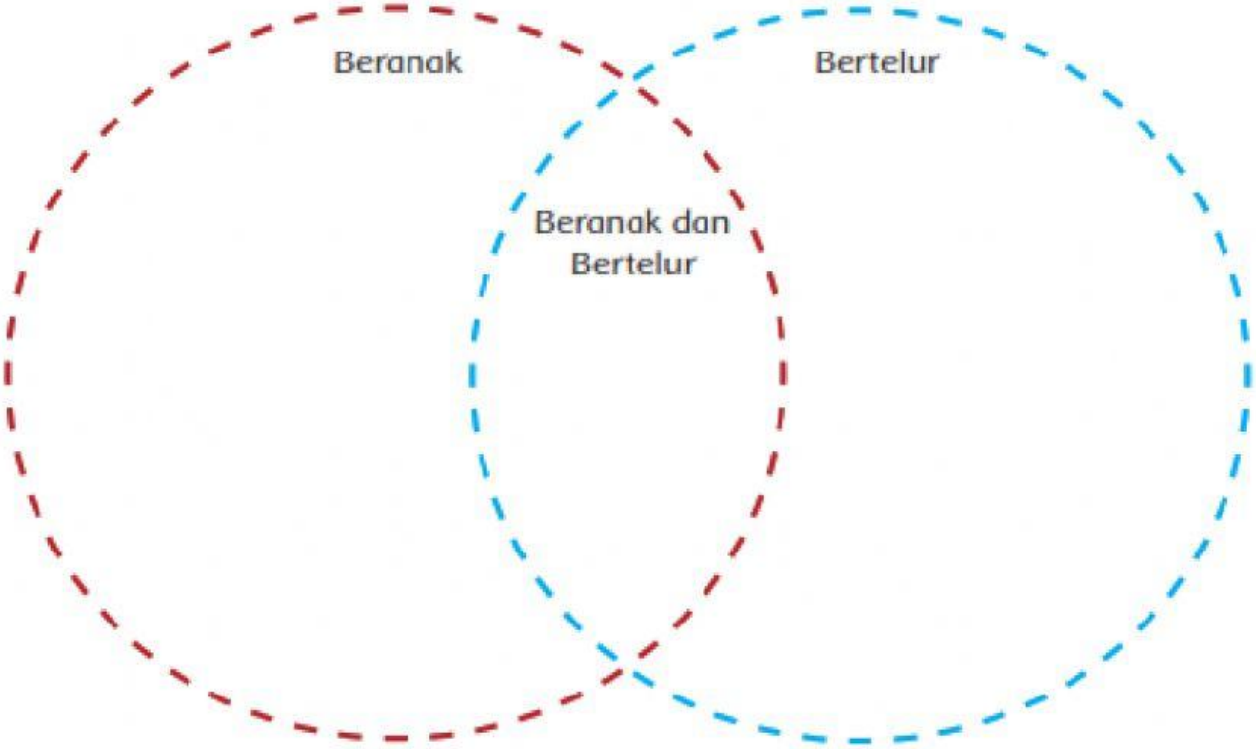

Geser dan pindahkan gambar hewan di bawah ini ke diagram venn di atas sesuai jenis perkembangbiakannya



LIVEWORKSHEETS

TUGAS 3 (TEMA)

- **BACALAH** BUKU PAKET TEMA 1 HALAMAN **62-63**
- **BACALAH** BUKU PAKET TEMA 1 HALAMAN **67-70**
- **KERJAKAN** PADA BUKU PAKET TEMA 1 HALAMAN **71** (Kirimkan tugas pada halaman 71 ke wa ibu. Ingat hanya halaman 71 yang dikirimkan jawabannya ke wa ibu ya!)

APABILA SUDAH SELESAI
MENGERJAKAN SILAHKAN ANADA KLIK
FINISH

Keterangan:

Enter your full name: Nama Kalian

Group/Level: kelas 6

School subject: TEMA

LIVEWORKSHEETS