LATIH DIRI

1 Tulis jarak mengufuk dan mencancang di antara titik-titik dalam satah berikut.

a

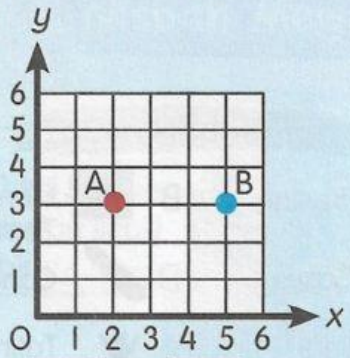

Dari **A** ke **B**

Jarak mengufuk: ____ unit

Jarak mencancang: ____ unit

b

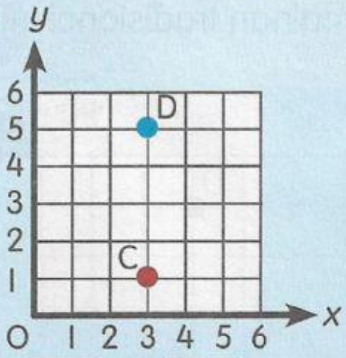

Dari **C** ke **D**

Jarak mengufuk: ____ unit

Jarak mencancang: ____ unit

c

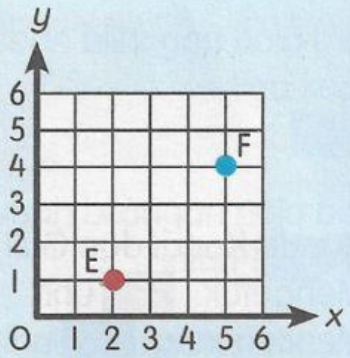

Dari **E** ke **F**

Jarak mengufuk: ____ unit

Jarak mencancang: ____ unit

d

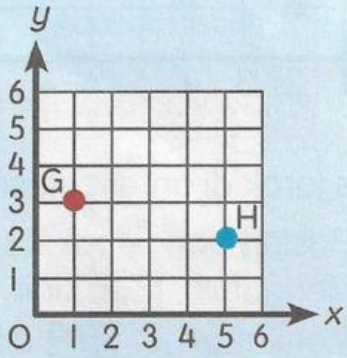

Dari **G** ke **H**

Jarak mengufuk: ____ unit

Jarak mencancang: ____ unit

2 Tandakan titik P(0,2) dalam satah. Nyatakan koordinat titik Q dari titik P berdasarkan jarak mengufuk dan mencancang yang diberikan.

a Jarak mengufuk: 3 unit
Jarak mencancang: 0 unit

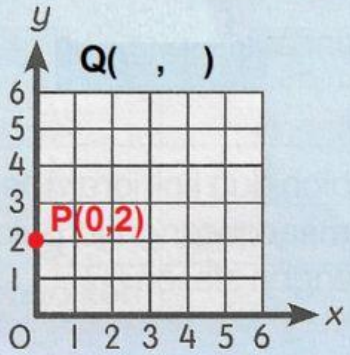

b Jarak mengufuk: 5 unit
Jarak mencancang: 1 unit

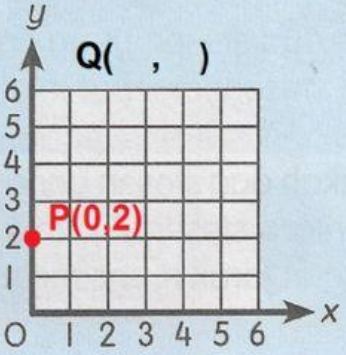

Nota Guru

- Adakan aktiviti menyatakan jarak di antara dua titik yang melibatkan jarak mengufuk ke kiri dan jarak mencancang ke bawah. Contohnya jarak di antara titik A (4,3) dan titik B (1,1).

LIVEWORKSHEETS