olimpíada de Língua Portuguesa

Oficina 10

Nosso poema

Oficina 11

Virando poeta

28 DE JULHO DE 2021 – (QUARTA-FEIRA)
PORTUGUÊS (01) MATEMÁTICA (01) CIÊNCIAS (02)

Chegou a hora tão esperada!
Nesta oficina, vocês, alunos e alunas escreverão um poema individualmente. Não se esqueça de que do seu entusiasmo vai depender o bom êxito da proposta de trabalho. Utilize o roteiro de texto, o seu planejamento, que você criou na aula passada.
Lembre-se, esse texto inicial é a base, quase um rascunho. Adiante, será necessário aprimorar a sua obra.

MATEMÁTICA (01)

Decomposição de números naturais

Questão 1 (Projeto conseguir). Júlia estava jogando boliche com suas amigas.
Ela derrubou muitos pinos e quer saber quantos pontos conseguiu fazer no total. Veja abaixo os pinos que Júlia derrubou e quantos pontos representam cada um deles:

Quantos pontos Júlia fez ao todo?

(A) 500
(B) 5 000
(C) 1 100
(D) 2 300

Questão 2 (Saerj). Natália anotou o número abaixo em seu caderno de anotações.

3 043

Uma outra forma de escrever esse número é

A) 3000 + 40 + 3
B) 300 + 40 + 3
C) 30 + 40 + 3
D) 30 + 4 + 3

Questão 3 (PROVA BRASIL) Uma escola recebeu a doação de 3 caixas de 1 000 livros, mais 8 caixas de 100 livros, mais 5 pacotes de 10 livros, mais 9 livros. Esta escola recebeu

(A) 3 589 livros.
(B) 3 859 livros.
(C) 30 859 livros.
(D) 38 590 livros.

Questão 4 (Projeto conseguir). O Cristo Redentor é um monumento localizado na Cidade do Rio de Janeiro.

O número que representa o ano em que ele foi inaugurado pode ser decomposto em:

1 × 1000 + 9 × 100 + 3 × 10 + 1

(A) 1931
(B) 1319
(C) 1913
(D) 1391

LIVEWORKSHEETS

CIÊNCIAS (02)

O CICLO DA ÁGUA

O ciclo da água, também chamado de ciclo hidrológico, ocorre por meio das mudanças dos estados físicos e da movimentação da água pelos seres vivos e pelo meio ambiente. Esse ciclo depende diretamente da energia solar, dos movimentos de rotação da Terra e, até mesmo, da gravidade.

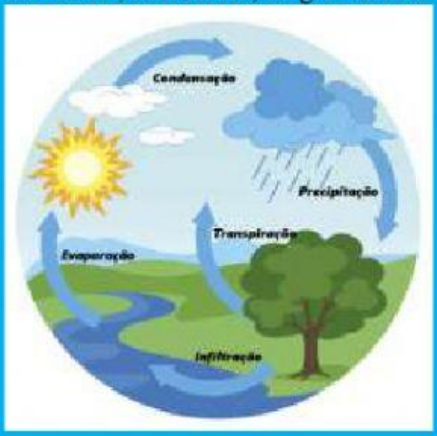

Assista ao vídeo:

O Sol é o responsável por proporcionar energia para que o ciclo aconteça. Sua luz provoca a evaporação da água presente na superfície terrestre. Em alguns locais, no entanto, a neve e o gelo sublimam, passando do estado sólido para o vapor, pulando as fases de fusão (sólido para o líquido) e de evaporação.

- Para se inteirar melhor do assunto vamos ao livro págs. 56 e 57.

Responder questões: 1 e 2 da pág. 60

Aprender sempre

1 O cartaz ao lado mostra algumas maneiras de economizar água em uma casa. Converse com dois colegas sobre esse tema.

a. O título do cartaz informa que é preciso usar bem a água. Nesse caso, o que significa "usar bem"?

b. Dos hábitos apresentados no cartaz, quais você já pratica? E quais você pode começar a praticar?

2 Observe o esquema abaixo e responda ao que se pede.

a. Qual mudança de estado da água está representada pela seta branca? Indique o estado físico da água antes e depois dessa transformação.

b. Que mudança de estado físico a seta vermelha representa? Dê um exemplo de situação cotidiana em que essa mudança pode ser observada.

3 Em um experimento, o professor colocou a mesma quantidade de água em quatro copos e fez as misturas representadas a seguir.

A	B	C	D
2 colheres (de sopa) de óleo em água	2 colheres (de sopa) de cascalho em água	2 colheres (de sopa) de vinagre em água	2 colheres (de sopa) de xarope de groselha em água

a. Quais materiais se dissolveram na água?

b. Quais materiais não se dissolveram na água?

c. Justifique as respostas que você deu nos itens a e b.

4 Observe a imagem ao lado.

- Na imagem, podemos ver uma mancha de petróleo que vazou no mar. Isso indica que o petróleo é solúvel ou não na água? Por quê?

Vazamento de petróleo no município de Tramandaí.

LIVEWORKSHEETS

olimpíada de Língua Portuguesa

Oficina 12

Retoque final

Oficina 13

Exposição ao público

29 DE JULHO DE 2021 – (QUINTA-FEIRA)
PORTUGUÊS (01) MATEMÁTICA (01) EDUCAÇÃO FÍSICA (02)

Passando a limpo

Seu texto está quase pronto, falta apenas aprimorar – passar a limpo. Leia o texto que você escreveu, na aula anterior, e observe se o seu texto possui todos os itens abaixo. Se não possuir, é hora de aprimorar, de fazer a correção necessária.

Itens de aprimoramento

- O título do poema é criativo?
- O texto tratou do tema "O lugar onde vivo"?
- Houve um recorte, uma delimitação do assunto, foi destacado um local ou um aspecto específico da cidade?
- O poema tem um ritmo harmonioso?
- A seleção de palavras foi bem feita? Pode melhorar?
- O poema apresenta alguns dos recursos estudados nas oficinas, ou seja, possui organização em versos e estrofes; ocupação da página pelo texto, com margens à direita e à esquerda; presença de efeitos sonoros: ritmo marcado e rimas; repetição de letras, de palavras ou de expressões; repetição da mesma construção (paralelismo sintático); emprego de figuras: comparação, metáfora e personificação?

Agora que você já avaliou os pontos a serem reescritos, peça para que outras pessoas também leiam o seu texto. Escute a opinião dos leitores, passe a limpo, melhorando ainda mais o que você escreveu.

Mãos à obra!

Exposição ao público

Pronto! Poemas escolhidos! O próximo passo é pensar como eles serão mostrados.
Faremos um Sarau Virtual. Faça a leitura do seu poema, em vídeo, e envie ao seu professor (essa atividade é apenas para os alunos que possuem internet). No momento da leitura, cuide do ritmo, das pausas e da entonação da voz. Considere que é preferível ler em tom adequado, com voz firme, em ritmo pausado. Evite recitar poemas de modo mecânico.

LIVEWORKSHEETS

MATEMÁTICA (01)

Trabalhando as operações adição e subtração

Questão 1 (SARESP). Lia somou a pontuação que atingiu na realização de 3 testes.

O resultado dessa adição é

A) 6395
B) 1643
C) 1533
D) 1534

Questão 2 (Saresp). Na adição abaixo alguns algarismos foram cobertos com símbolos.

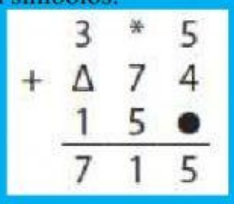

O valor de * + Δ + ● é

(A) 15.
(B) 16.
(C) 17.
(D) 18.

Questão 3 (SAEMI - PE). Resolva a conta abaixo.

96 – 17

Qual é o resultado dessa conta?

A) 70
B) 79
C) 81
D) 89

Questão 4 (SAEMI - PE). Resolva a conta abaixo.

467 + 26

O resultado dessa conta é

A) 483
B) 493
C) 627
D) 727

EDUCAÇÃO FÍSICA (02)

EDUCAÇÃO FÍSICA

ATLETISMO

O atletismo é um conjunto de esportes constituído por três modalidades: Corrida, lançamentos e saltos. Ele é também a forma organizada mais antiga de competição.

As primeiras reuniões organizadas da história foram os Jogos Olímpicos, que os gregos iniciaram no ano 776 a.C.

FONTE: Wikpédia

1. **De acordo com o texto o atletismo é composto por 3 modalidades de esporte. Cite-as abaixo:**

_____

2. **Qual modalidade deste esporte olímpico foi utilizado para ilustrar o texto?**

_____

Ainda sobre ATLETISMO responda:

QUESTÃO 01

OBSERVE AS IMAGENS ABAIXO E RESPONDA: QUAL A IMAGEM QUE ESTÁ RELACIONADA AO LANÇAMENTO DE PESO?



A) ( ) B) ( ) C) ( ) D) ( )

QUESTÃO 02

OBSERVE AS IMAGENS ABAIXO E RESPONDA: QUAL DAS IMAGENS MOSTRA O SALTO COM OBSTÁCULO?

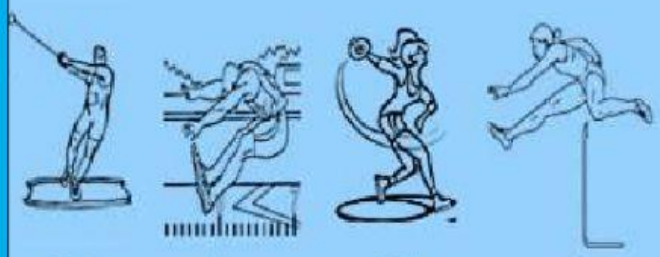

A) ( ) B) ( ) C) ( ) D) ( )

LIVEWORKSHEETS

LIVEWORKSHEETS