EVALUACIONES BIMESTRALES- PRIMER PERIODO
AREA: GEOMETRIA
GRADO: TERCERO

1. **Ubica en su lugar los diferentes líneas y defínelas**

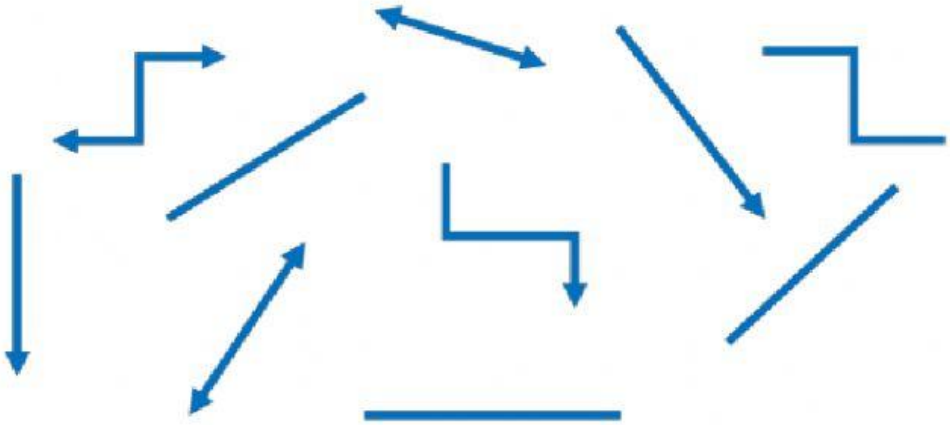

Segmentos	Recta	Rayo

2. **Observa las rectas de colores y di como son**

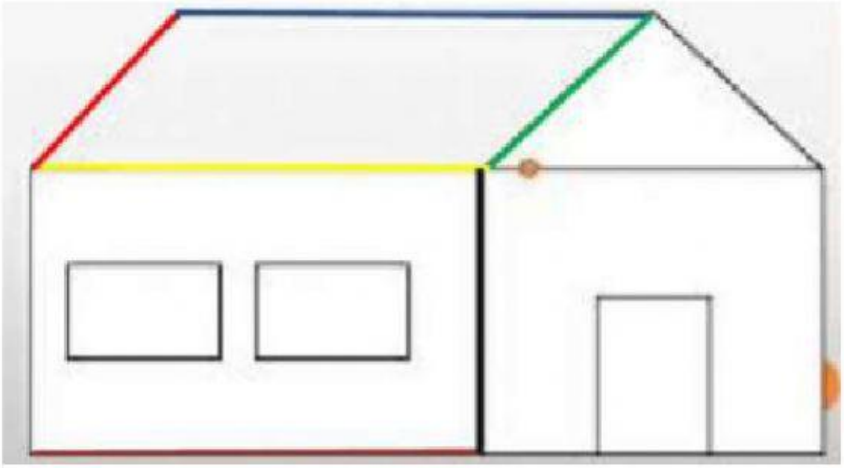

LIVEWORKSHEETS

- Roja y verde: _____
- Amarilla y azul: _____
- Verde y azul: _____
- Roja y amarilla: _____

3. Completa las oraciones usando las palabras secante, paralela, perpendicular.

- Las líneas _____ son aquellas que en todas sus partes tiene el mismo ángulo
- Las líneas _____ son aquellas que se unen en un punto
- Las líneas _____ son que nunca se unen por más que se alarguen

4. Observa los ángulos y determina que tipo es

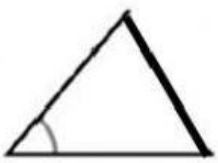

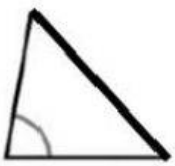

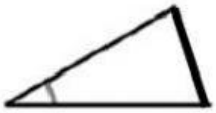

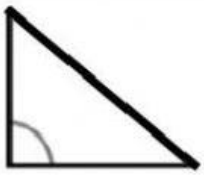

LIVEWORKSHEETS