ใบงานที่ 9
เรื่อง ยูเนียน

คำชี้แจง : จงตอบคำถามในแต่ละข้อต่อไปนี้ให้ถูกต้อง

1. จงตอบคำถามจากแผนภาพที่กำหนดให้ต่อไปนี้

1) $A \cup B =$ .....

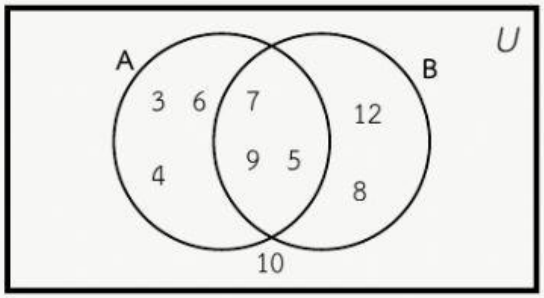

2) $A \cup B =$ .....

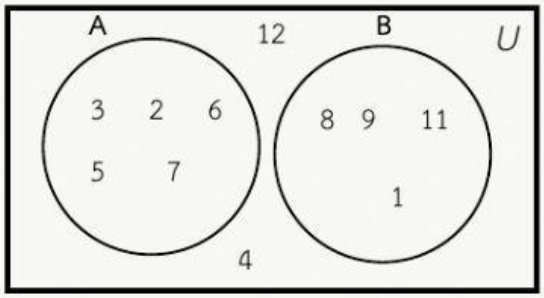

3) $C \cup D =$ .....

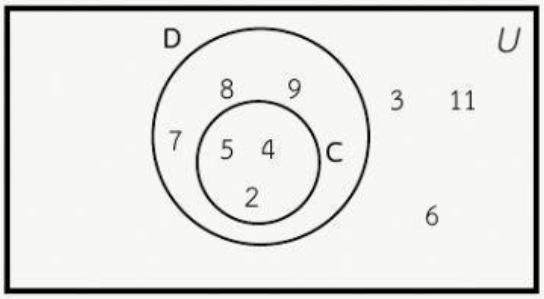

4) $B \cup C \cup D =$ .....

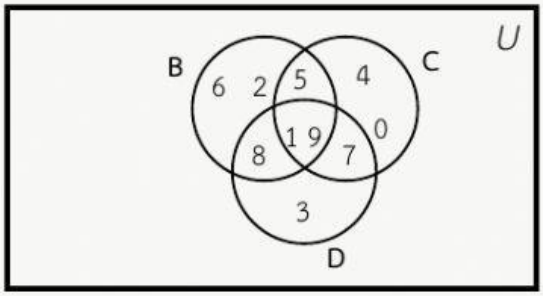

2. จากเซตที่กำหนดให้ต่อไปนี้

$U = \{1,2,3,4,5,6,7,8,9,10\}$

$A = \{4,5,6,7,8\}$

$B = \{2,3,4,5,9\}$

$C = \{1,4,7,9,10\}$

จงหา

1) $A \cup B =$ .....

2) $B \cup A =$ .....

3) $B \cup C =$ .....

4) $C \cup C =$ .....

5) $U \cup B =$ .....

6) $C \cup U =$ .....

7) $(A \cup B) \cup C =$ .....

8) $A \cup (B \cup C) =$ .....

LIVEWORKSHEETS