Jawab soalan berdasarkan carta palang di bawah

Carta palang di bawah menunjukkan bilangan hari hujan dalam empat bulan di Bandar Aman.

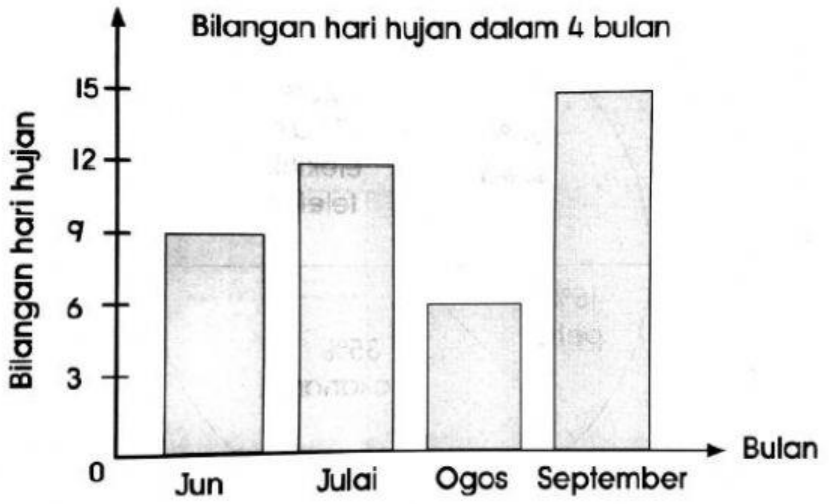

1. Bilangan hari hujan yang paling tinggi adalah dalam bulan _____

2. Bilangan hari hujan yang paling kurang adalah dalam bulan _____

3. Hujan turun ____ hari dalam bulan Jun

4. Bulan _____ dan bulan _____ mempunyai beza bilangan hari hujan sebanyak 6 hari

5. Jumlah bilangan hari hujan dalam bulan ke dua dan ketiga tertinggi ialah ____ hari

LIVEWORKSHEETS

Jawab soalan berdasarkan carta palang di bawah

Carta palang di bawah menunjukkan isi padu air minuman yang dijual di gerai minuman Mak Som pada suatu hari tertentu.

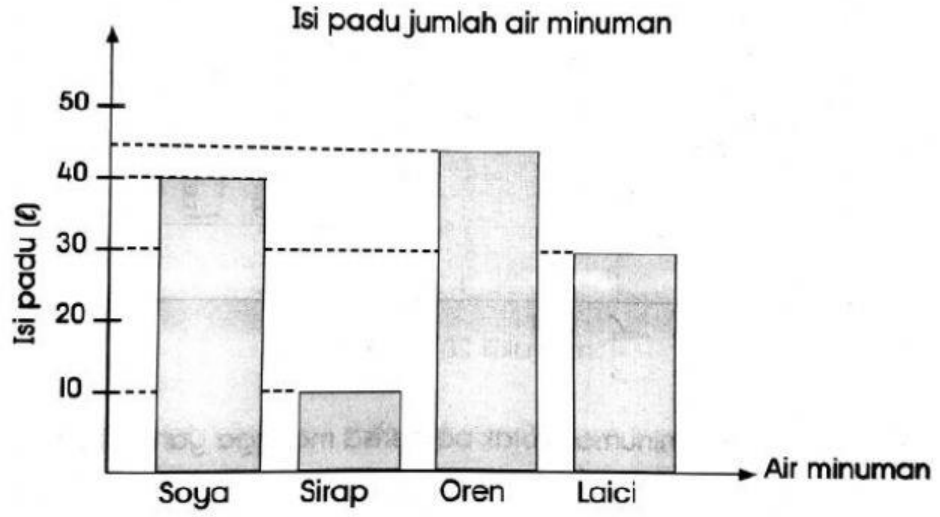

1. Minuman kedua terbanyak dijual adalah air ____
2. Isipadu air sirap yang terjual adalah ____ ℓ
3. Beza isipadu antara air oren dan laici adalah ____ ℓ
4. Jumlah isipadu air yang terjual adalah ____ ℓ
5. Beza isipadu air paling banyak dan paling sedikit dijual adalah ____ ℓ

LIVEWORKSHEETS

Jawab soalan berdasarkan carta palang di bawah

Carta palang yang tidak lengkap di bawah menunjukkan bilangan telefon bimbit yang dijual di empat buah kedai dalam seminggu. Jualan kedai R tidak ditunjukkan.

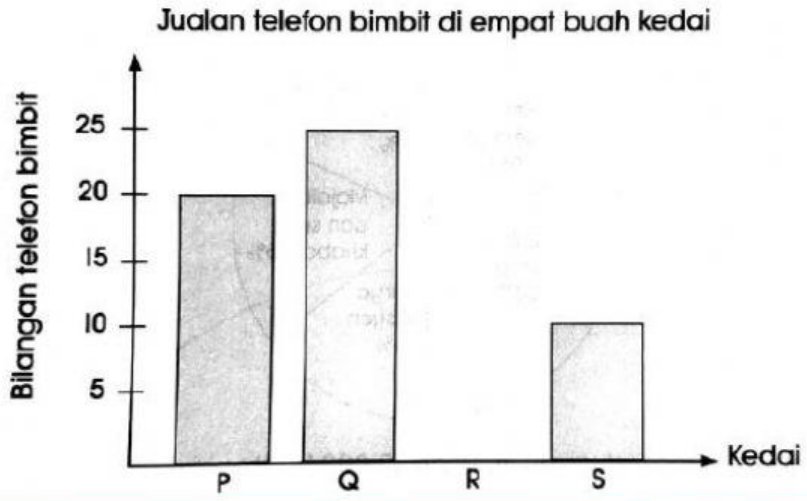

1. Kedai Q menjual sebanyak ____ telefon bimbit
2. Beza jualan kedai P dan S adalah ____ telefon bimbit
3. Jumlah jualan kedai Q dan S adalah ____ telefon bimbit
4. Diberi jualan kedai R adalah separuh dari jumlah jualan kedai P dan S. Jualan kedai R adalah ____ telefon bimbit
5. Jumlah jualan ke empat-empat kedai tersebut adalah ____ telefon bimbit

LIVEWORKSHEETS