KELAS 2
TEMA 1
SUBTEMA 2
PEMBELAJARAN 4

NAMA :

LIVEWORKSHEETS

Simaklah video berikut untuk mempelajari materi hari ini :

LIVEWORKSHEETS

Pilihlah jawaban yang tepat !

1. Bilangan yang lebih kecil dari 309 adalah ....

   a. 298

   b. 311

   c. 385

2. Urutan bilangan yang benar dari yang terkecil ke yang terbesar adalah ....

   a. 107, 111, 109, 113

   b. 107, 109, 111, 113

   c. 113, 111, 109, 107

LIVEWORKSHEETS

Isilah dengan jawaban yang benar !

1.

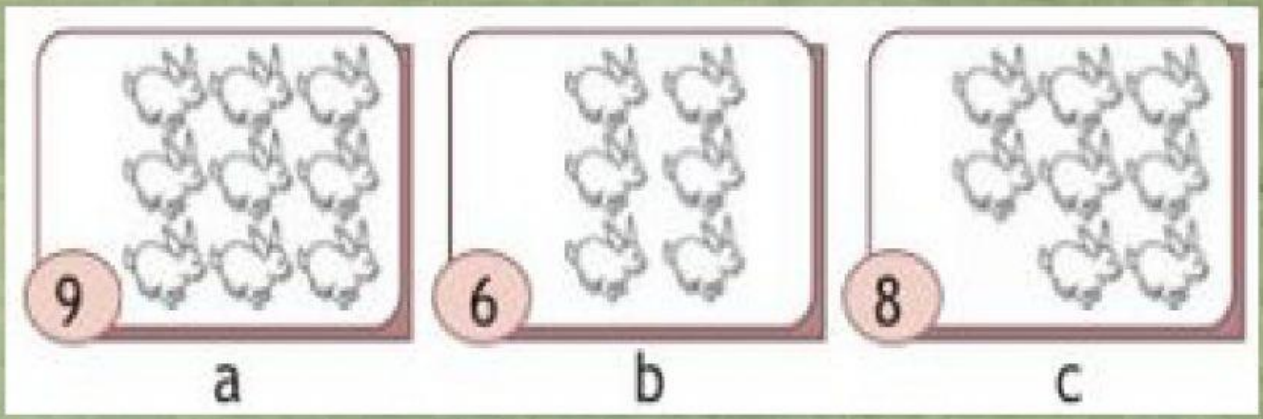

Urutkan banda dari yang paling banyak ….

2.

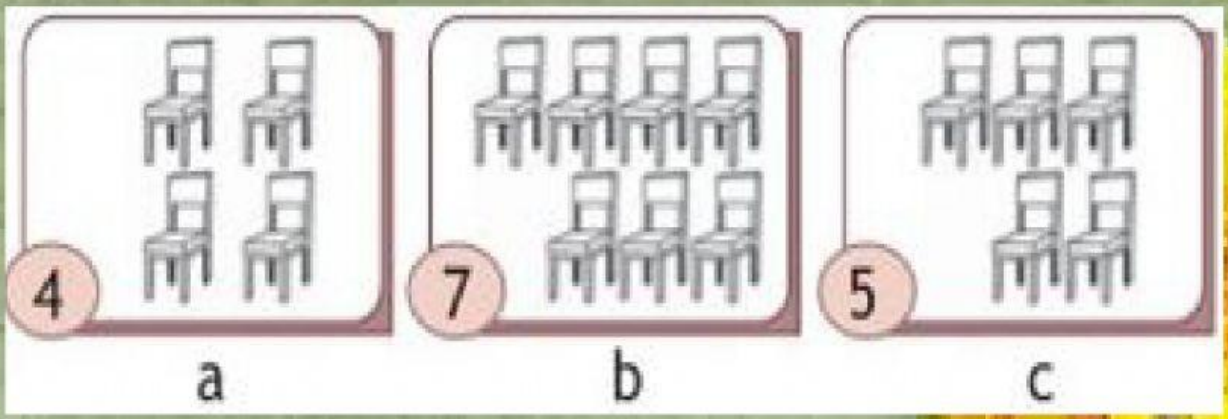

Urutkan banda dari yang paling sedikit….

LIVEWORKSHEETS

Menghubungkan dengan garis !

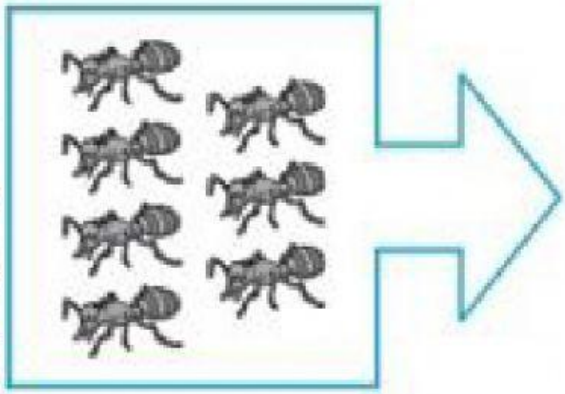

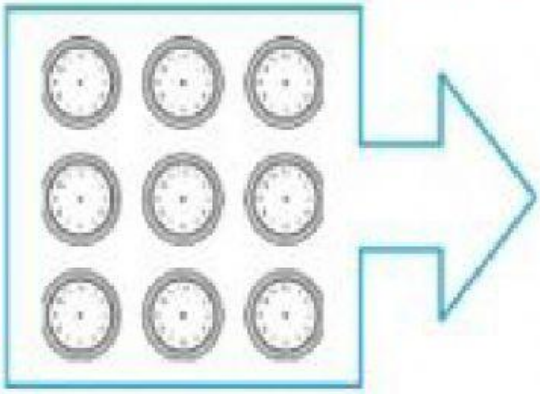



8

7

9

LIVEWORKSHEETS

ditulis ...

ditulis ...

LIVEWORKSHEETS

Letakkan jumlah berikut pada tempat yang sesuai !



24 28 20 30

LIVEWORKSHEETS