LEMBAR KERJA PESERTA DIDIK (LKPD)

LETAK DAN LUAS BENUA (3.1)

MATA PELAJARAN IPS

- NAMA :
- KELAS :
- NO. ABSEN :

08113621476

UPTD SATUAN PENDIDIKAN SMP NEGERI 1 JELBUK

LIVEWORKSHEETS

KEGIATAN BELAJAR 1

MATA PELAJARAN : IPS
KELAS/SEMESTER : X/GANJIL
MATERI : LETAK DAN LUAS BENUA

A. Kompetensi Dasar :

3.1 Menelaah perubahan keruangan dan interaksi antarruang negaranegara di Benua Asia dan Benua lainnya, yang diakibatkan oleh faktor alam, manusia dan pengaruhnya terhadap keberlangsungan kehidupan manusia dalam ekonomi, sosial dan politik.

4.1 Menyajikan hasil telaah tentang perubahan keruangan dan interaksi antarruang negara-negara Asia dan benua lainnya yang diakibatkan faktor alam, manusia dan pengaruhnya terhadap keberlangsungan kehidupan manusia dalam ekonomi, sosial, pendidikan dan politik.

B. Tujuan Pembelajaran :

Setelah mempelajari modul ini diharapkan siswa dapat:

(1) Menemukan letak 5 Benua
(2) Menganalisis pengaruh letak terhadap iklim di 5 Benua
(3) Menunjukkan pembagian kawasan 5 Benua

C. Materi Pembelajaran

1) Letak dan Luas Benua
2) Pengaruh Letak Benua Terhadap Iklim
3) Pembagian Wilayah atau Region Benua

LIVEWORKSHEETS

Aktivitas Pembelajaran

1. Aktivitas 1: Menemukan letak 5 Benua pada peta.

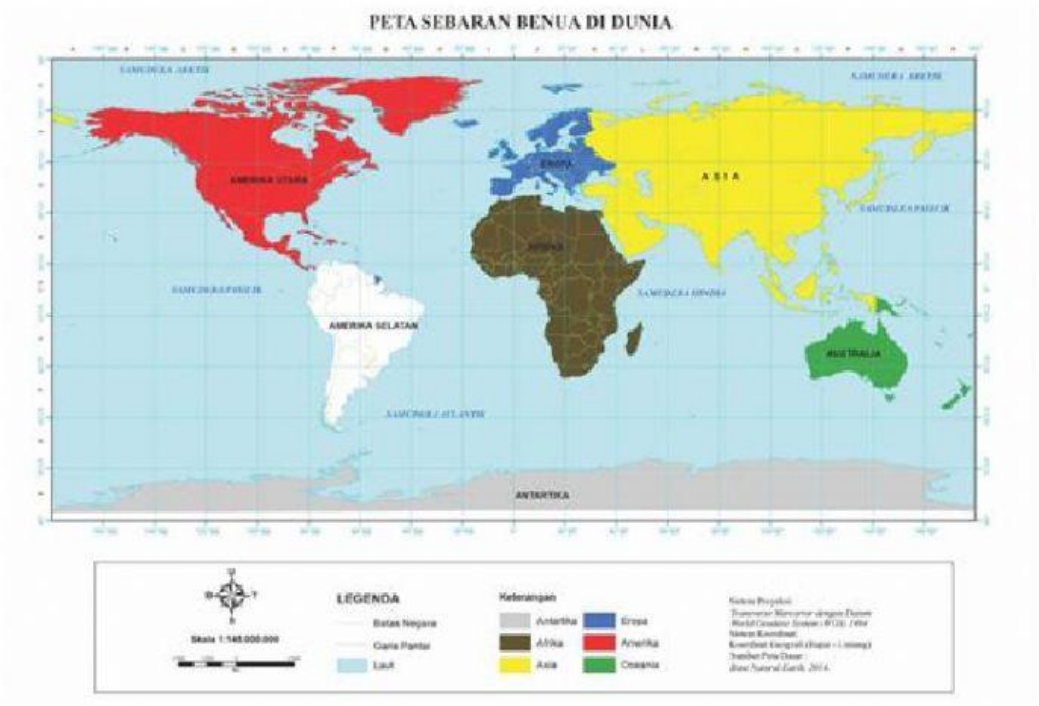

Berapakah jumlah benua di muka bumi saat ini? Ada beberapa pendapat yang berbeda tentang jumlah benua di muka bumi. Ada yang berpendapat tujuh, enam, dan lima. Mereka yang menyebut ada tujuh benua membaginya atas Benua Asia, Eropa, Amerika Utara, Amerika Selatan, Afrika, Australia, dan Antartika. Mereka yang menyebut enam benua membaginya atas Benua Eurasia (gabungan Eropa dan Asia), Amerika Utara, Amerika Selatan, Afrika, Australia, dan Antartika. Mereka yang menyebut lima benua membaginya atas Eurasia (gabungan Eropa dan Asia), Amerika, Afrika, Australia, dan Antartika. Ada pula yang membagi menjadi lima benua tetapi tidak mengikutsertakan Antartika, sehingga benua di dunia terdiri atas Asia, Eropa, Amerika, Afrika, dan Australia.

LIVEWORKSHEETS

Aktivitas 2: Menganalisis pengaruh letak terhadap kondisi iklim di 5 Benua

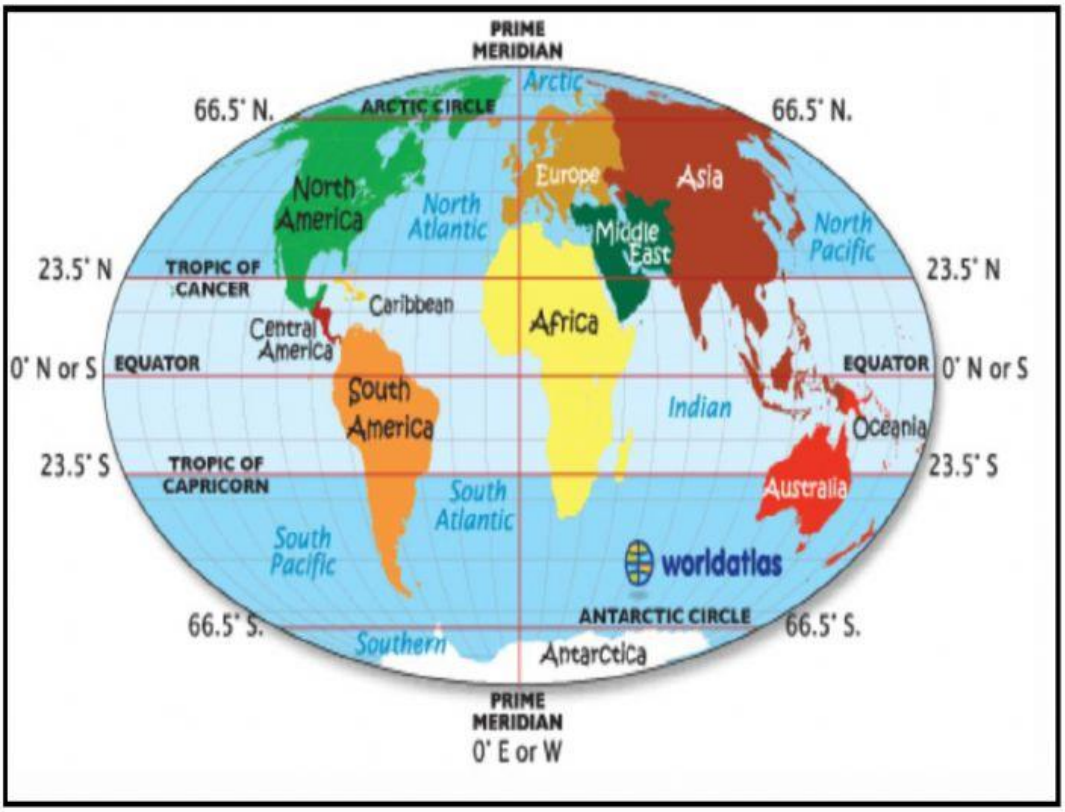

Iklim di suatu tempat di bumi dipengaruhi oleh
letak geografis dan topografi tempat tersebut. Pengaruh posisi relatif matahari terhadap suatu tempat di bumi menimbulkan musim, yang membedakan iklim satu dengan yang lain. Perbedaan iklim menghasilkan beberapa sistem klasifikasi iklim. Berdasarkan posisi relatif suatu tempat di bumi terhadap garis khatulistiwa dikenal kawasankawasan dengan kemiripan iklim secara umum akibat perbedaan dan pola
perubahan suhu udara, yaitu kawasan tropika (00-23,5°LU/LS), subtropika (23,5°-40°LU/LS), sedang (40°LU/LS-66,5°LU/LS), dan dingin (66,5°LU/LS-90°LU/LS)
Letak wilayah Benua Asia dan Benua lainnya di bumi juga menyebabkan
perbedaan iklim di masing-masing wilayah. Sebagai contoh Benua Asia memiliki letak astronomis pada 110 16'LS – 770 LU dan 250 BT – 1700 BT. Berdasarkan letak lintang antara 110 16'LS – 770 LU, maka Benua Asia memiliki iklim tropis (00-110 16'LS, dan 00-23,5°LU), sub tropis (23,5°LU-40°LU), sedang (40°LU-66,5°LU), dan dingin (66,5°LU-70°LU). Letak geografis juga mempengaruhi terjadinya iklim disuatu

LIVEWORKSHEETS

wilayah. Sebagai contoh bahwa letak geografis Benua Asia terletak diantara Benua Eropa, Afrika dan Australia serta diantara Samudra Arktik, Pasifik dan Hindia berpengaruh terhadap iklim di Asia. Di daerah sekitar Samodera Pasifik dan Hindia, yaitu kawasan Asia Timur, Asia Tenggara dan Asia Selatan beriklim laut dengan curah hujan tinggi karena angin berasal dari Samodera Pasifik dan Hindia banyak membawa uap air. Wilayah Asia Barat beriklim gurun karena pengaruh angin barat dari Benua Afrika yang kering sehingga membawa angin kering sehingga curah hujan rendah, disamping itu angin dari daratan Eropa juga menyebabkan rendahnya curah hujan di Asia Tengah. Didukung oleh iklim kering dan panas karena daerah sub tropis maka di kawasan Asia Tengah beriklim gurun. Kawasan dingin di Samodera Artik juga membawa angin dingin di Asia utara yang beriklim kutub.

Aktivitas 3: menunjukkan pembagian kawasan 5 Benua

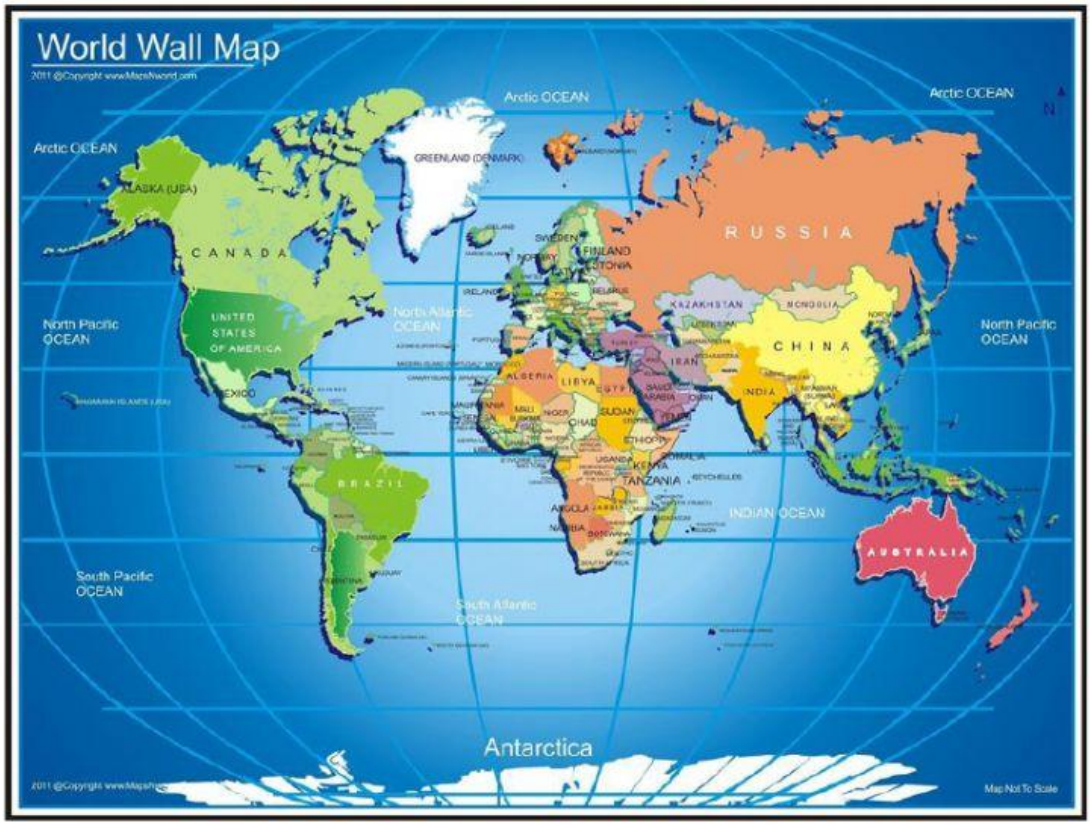

Benua merupakan hamparan daratan yang sangat luas yang pada bagian tengahnya bersifat kering karena tidak mendapat pengaruh dari angin laut yang basah dan lembab. Karena luasnya maka benua dibagi dalam beberapa kawasan dengan karakteristik yang

LIVEWORKSHEETS

berbeda beda. Benua juga terdiri dari beberapa negara, kecuali Benua Australia yang hanya terdiri dari satu negara. Benua Asia dibagi menjadi menjadi 6 (enam) kawasan, yaitu: Asia Barat, Asia Tenggara, Asia Selatan, Asia Timur, dan Asia Tengah. Benua Amerika dibagi menjadi 3 kawasan yaitu Amerika Utara, Amerika Tengah dan Amerika Selatan. Benua Afrika terbagi atas lima kawasan yaitu Afrika Utara, Afrika Timur, Afrika Barat, Afrika Tengah, dan Afrika Selatan. Benua menjadi empat kelompok yaitu Eropa Timur, Eropa Barat, Eropa Utara, dan Selatan.

Sebelum mengerjakan tugas, buka Video Pembelajaran melalui Link di bawah ini !

TUGAS

I. ***Pilihlah satu jawaban yang benar!***

1. Perhatikan Peta Dunia berikut ini!

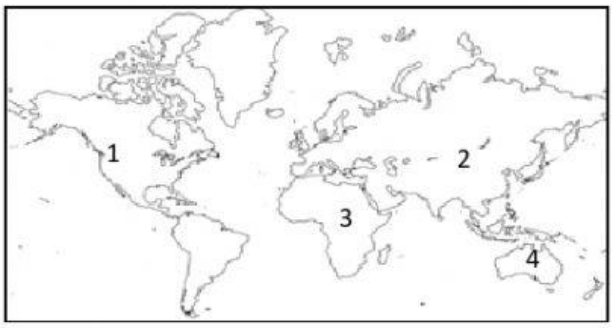

Pada peta di atas, Benua Asia ditunjukkan dengan nomor ….

A. 1

B. 2

C. 3

D. 4

LIVEWORKSHEETS

2. Data batas geografis:
   1. Sebelah utara berbatasan dengan Laut Tengah
   2. Sebelah timur berbatasan dengan Samudra Atlantik
   3. Sebelah selatan berbatasan dengan Samudra Hindia
   4. Sebelah barat berbatasan dengan Laut Merah

   Dari pernyataan di atas, batas geografis Benua Afrika ditunjukkan dengan nomor ....

   A. 1 dan 2

   B. 3 dan 4

   C. 1 dan 3

   D. 2 dan 4

3. Benua Eropa dan Benua Asia sebenarnya masih satu daratan, namun kemudian masing-masing dianggap sebagai sebuah benua. Alasan Eropa dan Asia dianggap sebagai benua yang berbeda adalah ....

   A. perbedaan bentuk muka bumi

   B. perbedaan flora dan fauna

   C. perbedaan iklim

   D. perbedaan budaya

II. Jawablah pertanyaan berikut ini!

1. Hampir semua Benua mengitari Samudera Hindia. Satu-satunya yang tidak berbatasan langsung dengan Samudera tersebut adalah Benua ... .
2. Berdasarkan letak Astronomisnya, Benua Australia memiliki 3 daerah iklim. Hal ini menunjukkan bahwa hanya satu iklim yang tidak dimiliki oleh Benua Autralia yaitu iklim … .
3. Semua Benua terbagi menjadi beberapa wilayah atau region yang meliputi beberapa Negara didalamnya. Negara Oman, Negara Yaman, Negara Arab Saudi dan Negara Qatar merupakan Negara-negara yang termasuk kawasan wilayah Benua Asia bagian … .

LIVEWORKSHEETS

III. **Silahkan tarik garis dari lajur kanan ke lajur kiri sehingga menjadi jawaban yang benar !**

Pembagian Wilayah Benua Afrika

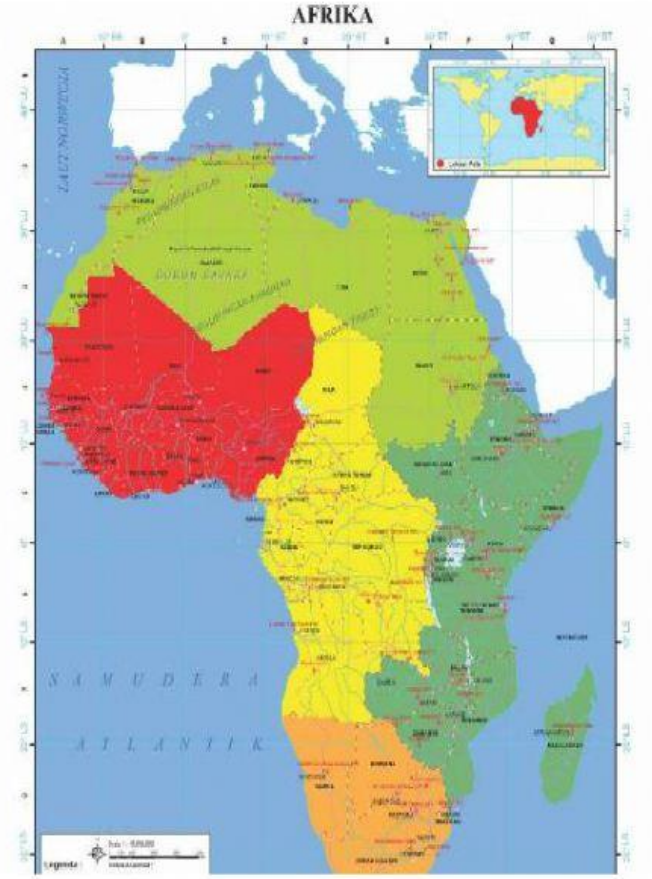

Afrika Tengah

Afrika Utara

Afrika Barat

LIVEWORKSHEETS

IV. **Lengkapilah kalimat berikut dengan mengdrag lalu tempelkan kata tersebut dengan mendrop agar kalimatnya benar**

Iklim di Australia bervariasi karena wilayahnya berada pada 3 daerah Garis Lintang yang berbeda. Wilayah Australia yang termasuk daerah Tropis berada pada garis ……, sedangkan pada garis $23,5^0$LS – 35^0LS termasuk daerah beriklim ……..…… dan wilayah beriklim Sedang berada pada garis …….. Dari arah Iklim ……... ke daerah Iklim Sedang suhu udaranya terus menurun.

Subtropis	Tropis
11^0LS – $23,5^0$LS	35^0LS – 44^0LS

LIVEWORKSHEETS