Тест по теме «Доли. Обыкновенные дроби» ПРОВЕРЬ СЕБЯ

Выполнял _____

№1. На каком из рисунков закрашено $\frac{3}{5}$ фигуры? В ответ впишите номер соответствующего ответа.

1) 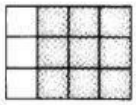 2) 3) 4) 

Ответ. _____

№ 2. Какая часть фигуры не заштрихована? В ответ впишите номер соответствующего ответа.

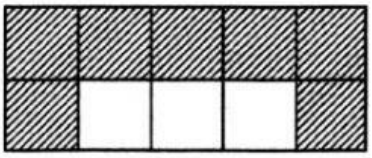

1) 7 2) $\frac{3}{10}$ 3) $\frac{7}{10}$ 4) $\frac{10}{7}$

Ответ. _____

№ 3. Выразите в минутах 4 сек. В ответ впишите номер соответствующего ответа.

1) $\frac{1}{4}$ 2) $\frac{1}{60}$ 3) $\frac{4}{100}$ 4) $\frac{4}{60}$

Ответ. _____

№ 4. Из 17 участников похода 5 девочек. Какую часть участников похода составляют девочки?

Ответ. _____

№ 5. Какую часть килограмма составляют 49 г?

Ответ. _____

№ 6. Сколько минут в пятой доли часа?

Ответ. _____

LIVEWORKSHEETS

№ 7. Для каждого рисунка

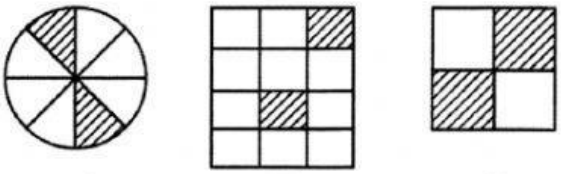

А Б В

укажите, какая часть рисунка заштрихована, вписав в таблицу под каждой буквой соответствующий ей номер ответа.

1) $\frac{1}{6}$ 2) $\frac{1}{2}$ 3) $\frac{1}{4}$

Ответ:

А	Б	В

LIVEWORKSHEETS