PEMERINTAH KABUPATEN LUWU TIMUR
DINAS PENDIDIKAN
SDN 264 WAWONDULA
Jl. Gunung Agung No. 01 Wawondula, Kec. Towuti

Nama : _____ **Tema/Sub Tema : 1 / 2**

No. Absen : _____ **Kelas/Semester : 1 / 1**

Tahun Pelajaran : 2021/2022

selesaikanlah soal-soal di bawah ini!

A.3,2/6

1.

Yang dilakukan keluarga Siti sebelum makan pada gambar di samping adalah _____

A.3,2/1

2.

yang dilakukan Siti Sebelum tidur adalah ....

A. makan B. berdoa C. sikat gigi

3. berilah tanda (√) untuk gambar posisi yang tepat

B.3,1/6

B.3,3/4

4. Susunlah huruf di samping dan pasangkanlah.

idhung	mata
eltinag	bahu
iipp	hidung
ubah	pipi
amat	telinga

LIVEWORKSHEETS

5. Anggota tubuh yang digunakan untuk mencium bunga adalah...

B.3,4/1

A. mata

B. hidung

C. telinga

6. Tariklah garis sesuai gambar.

B.3,4/6

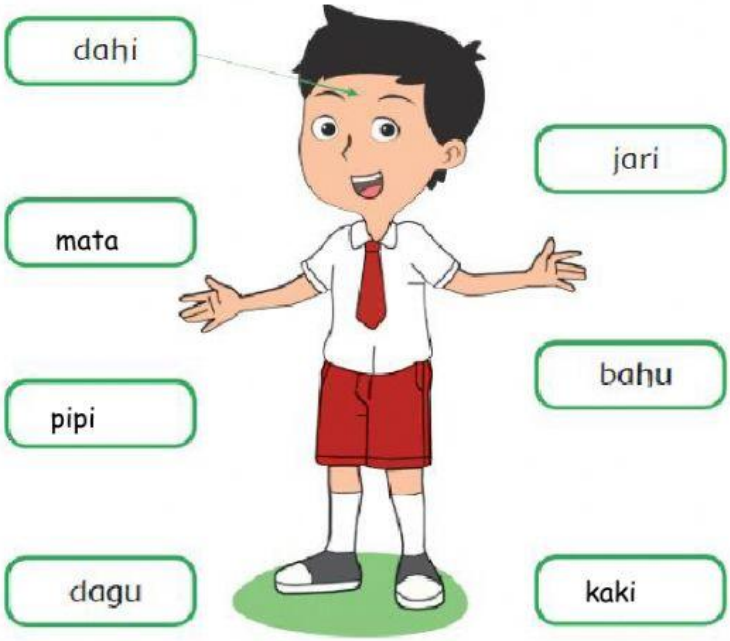

C.3,1/5

7. beri tanda centang (√) pada lambang bilangan yang sesuai.





LIVEWORKSHEETS

8. pasangkan lambang bilangan dengan namanya

C.3,2/8

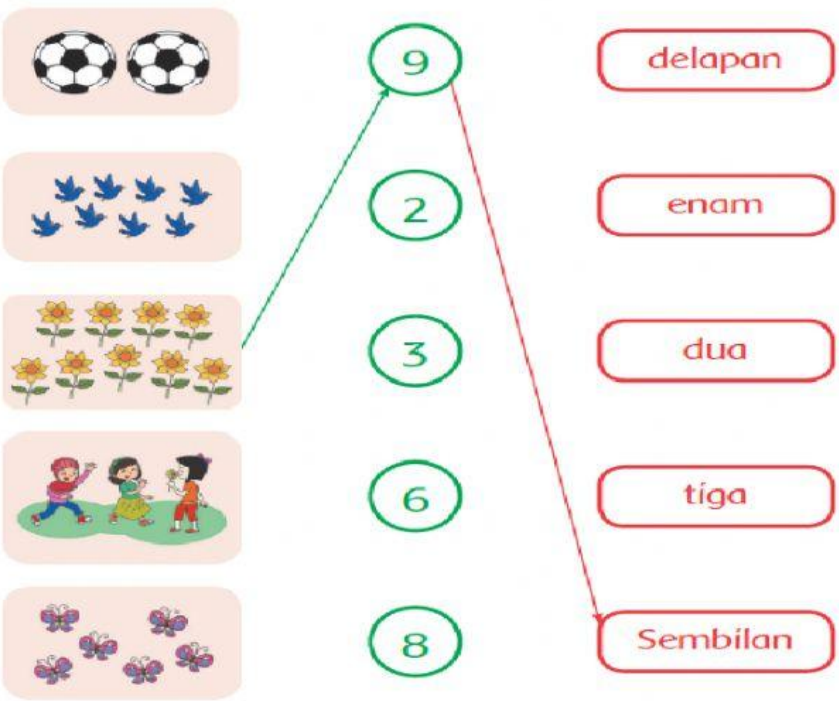

9. Tuliskan lambang bilangan sesuai namanya

C.3,2/5

F.3,3/1

10. gambar di bawah ini adalah gambar Siti dan temen-temannya sedang ....

A. menari

B. menyanyi

C. Bermain

LIVEWORKSHEETS

11. bagian tubuh yang tidak boleh disentuh (tanda panah) pada gambar di bawah ini adalah _____

A'.3,1/4

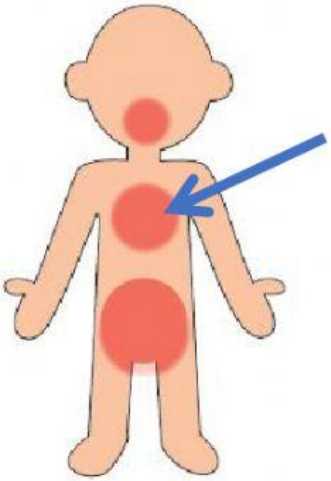

LIVEWORKSHEETS