Nama Peserta Didik :

Nomor Absen :

LK T1 ST4 PB3 & PB6

Simaklah Video Pembelajaran berikut :

Video PB 3 :

Video PB 6 :

Lagu Indonesai Raya:

Lagu Mars PPK:

Isi Absennya ya :

Klik disini untuk isi absen ya

LIVEWORKSHEETS

1. berdasarkan gambar di samping, pasangkanlah kegemaran anggota keluarga Beni.

ayah	bermain musik
i b u	bernyanyi
beni	membaca koran
kakak	membaca buku

2. Susun huruf-huruf berikut menjadi kata yang tepat.

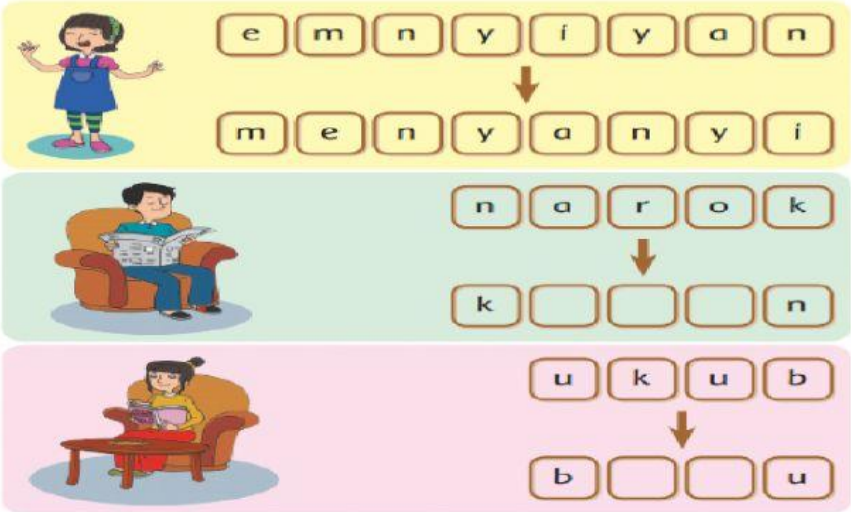

3. Mari bantu Edo menghitung buah-buahan.



Di pohon pertama tumbuh 3 pepaya.

Di pohon yang kedua tumbuh 2 pepaya.

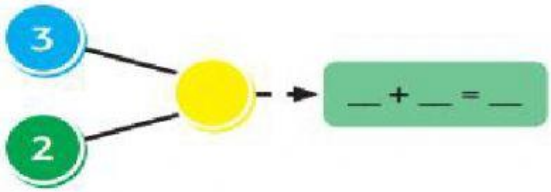

Banyak pepaya seluruhnya ada ____ buah.

LIVEWORKSHEETS



Edo menaruh 6 mangga dalam keranjang.

Di rumput masih ada 2 mangga.

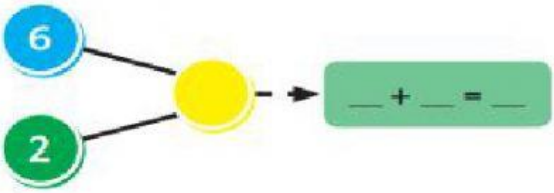

Banyak mangga seluruhnya ada ___ buah

4. Salah satu ciri khas ayahmu adalah _____

Salah satu bentuk kerjasama yang pernah kamu lakukan di rumah adalah _____

5. **Pindahkanlah** gambar disebelah kanan ke dalam kotak kosong, kemudian **isilah titik dan garis datar**.

Udin membeli 4 buah tomat hijau.

Udin juga membeli 2 buah tomat merah.

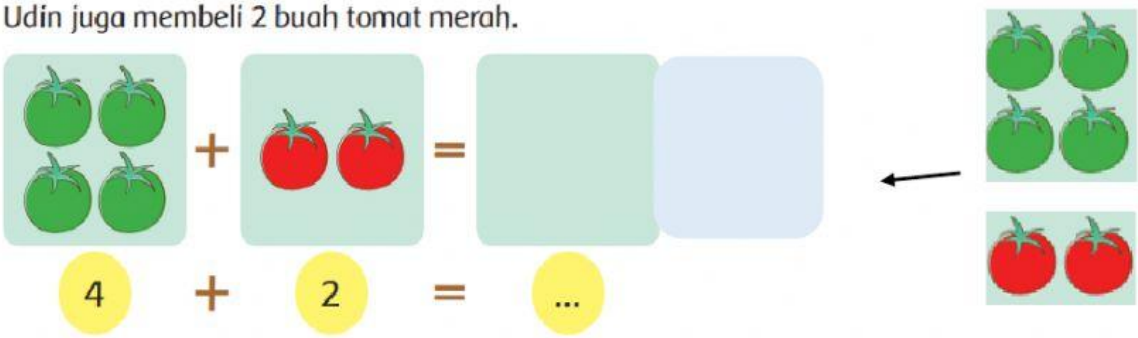

Jumlah tomat yang dibeli Udin seluruhnya ada _____ buah.

Kemudian Udin membeli ikan.

Udin membeli 3 ekor ikan mas besar.

Udin membeli lagi 5 ekor ikan mas kecil.

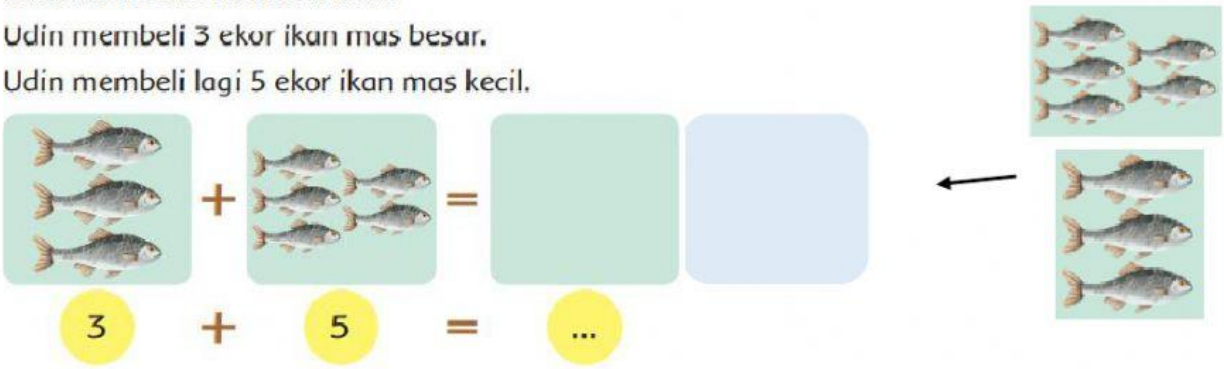

Jumlah ikan mas yang dibeli Udin seluruhnya adalah ___ ekor.

LIVEWORKSHEETS

Sebelum pulang, Udin melihat penjual donat.

Udin membeli 4 buah donat cokelat.

Udin juga membeli 6 buah donat keju.

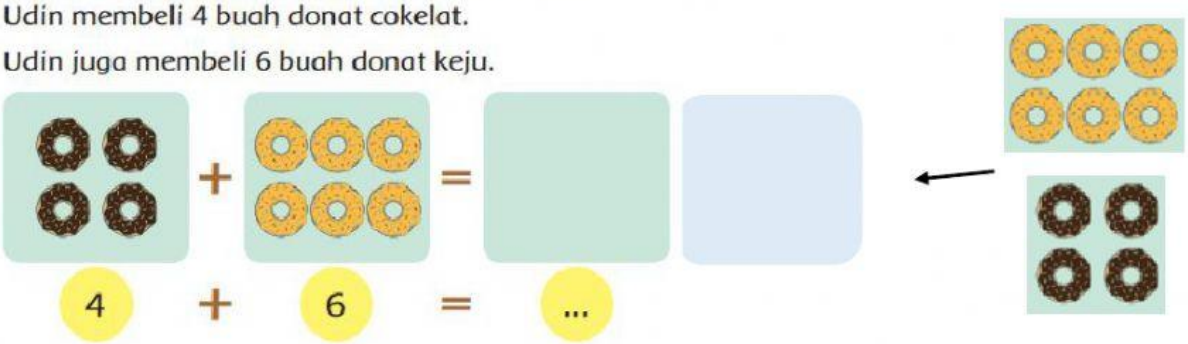

Udin membeli donat sebanyak ___ buah.

6. puisi berikut mengungkapkan rasa _____ kepada ibu

Amati teks di bawah ini.

Aku Sayang Ibu

Ibu ...
Kala ku gembira, kau memelukku
Kala ku sedih, kau menghiburku
Kala ku sendiri, kau menemaniku
Kala ku sakit, kau merawatku
Ibu ...
Betapa besar kasih sayangmu
Betapa luas samudra hatimu
Ku hanya ingin engkau tahu
Sungguh aku sayang padamu

LIVEWORKSHEETS