Pre-tes Matematika Kelas 1

Nama : _____

Kelas : _____

1. Sebutkan bentuk permukaan benda-benda berikut!

2. Urutkan angka-angka berikut dari yang terkecil!

9	7	12	5	10
19	1	3	17	15

3. Urutkan angka-angka berikut dari yang terbesar!

14	20	18	2	11
16	4	6	13	8

LIVEWORKSHEETS

4. Tentukan dua bilangan selanjutnya dari deret angka berikut!
   a. 1, 3, 5, 7 , ..., ...
   b. 4, 8, 12, 16, ..., ...
   c. 5, 7, 9, ..., ... , 15
   d. 2, 5, 8, 11, ..., ...

5. Pola angka berikut adalah .....
   a. 3, 5, 7, 9 bertambah ..... angka
   b. 2, 4, 6, 8 bertambah ..... Angka
   c. 12, 15, 18 bertambah ..... angka

6. Tentukan satuan tidak baku berikut!

7. Kalimat yang tepat pada gambar berikut adalah .....







LIVEWORKSHEETS

8. Berat benda sama dengan ..... baterai

a.

Satu cangkir sama dengan ..... baterai

b.

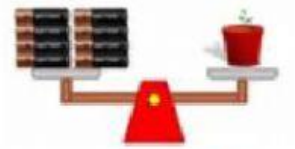

Pot bunga sama dengan ..... baterai

c.

Croissant sama dengan ..... baterai

d.

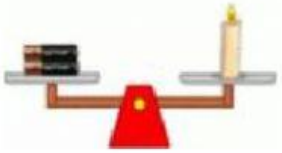

Lilin sama dengan ..... baterai

9. Bandingkan!

a. Anak yang paling tinggi adalah .....
b. Anak yang paling pendek adalah .....
c. Joni lebih ..... dari pada Dina
d. Joni lebih ..... dari Ira

10.

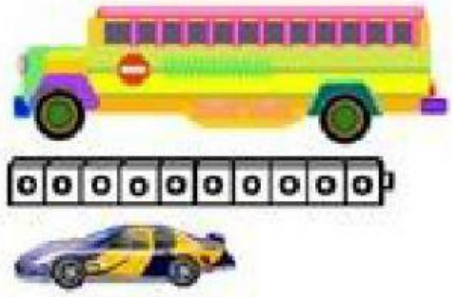

a. Paling panjang adalah .....
b.Paling pendek adalah .....
c. urutan dari paling panjang adalah
....., ..., ...

LIVEWORKSHEETS