Nama: Kelas:

TEMA 3
Sains Fizikal

Praktis 6 Pengukuran

Halaman Buku Teks: 79 – 94

6.1 Pengukuran Luas dan Isi Padu

Tahap Penguasaan (TP):
TP 1 Menyatakan unit yang digunakan untuk mengukur luas dan isi padu.

1. Tandakan (✓) pada unit untuk mengukur luas objek di bawah. TP 1

(a)

		Sentimeter persegi
		Meter persegi
		Kilometer persegi

(b)

		Sentimeter persegi
		Meter persegi
		Kilometer persegi

2. Lihat rajah di bawah dan padankan unit pengukuran bagi mengukur isi padu air. TP 1

(a)

Meter padu

(b)

Mililiter

SP 6.1.1 Menyatakan unit yang digunakan untuk mengukur luas dan isi padu.

Disediakan oleh Pn. Norsiah

LIVEWORKSHEETS

Tahap Penguasaan (TP):

TP 2 Memerihalkan kaedah mengukur luas dan isi padu.
TP 3 Mengukur luas dan isi padu.

1. Ukur luas bahagian berlorek pada kertas petak 1 cm × 1 cm. TP 2 TP 3

(a)

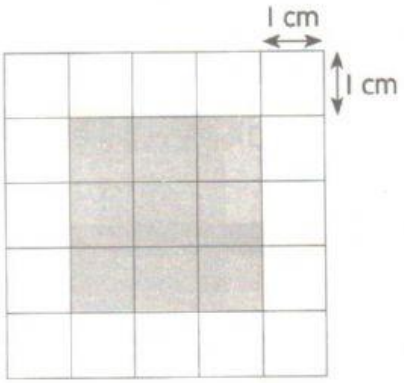

Luas bahagian berlorek
= _____ cm^2

(b)

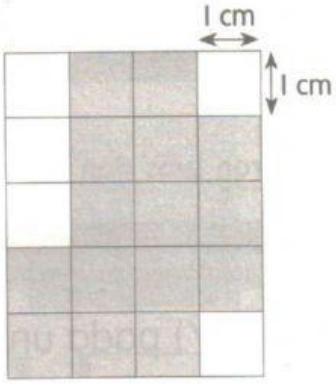

Luas bahagian berlorek
= _____ cm^2

(c)



Luas bahagian berlorek
= _____ cm^2

(d)



Luas bahagian berlorek
= _____ cm^2

SP 6.1.1 Mengukur luas permukaan sekata menggunakan petak yang berukuran 1 cm × 1 cm.
SP 6.1.3 Menyelesaikan masalah untuk menganggar luas permukaan yang tidak sekata.

Disediakan oleh Pn. Norsiah

LIVEWORKSHEETS