Escola Eleva

6º ano - E.F.II – Geografia

Professora: Raquel Maraschin Ano: 6º ano

xxxx

3) Observe o mapa abaixo::

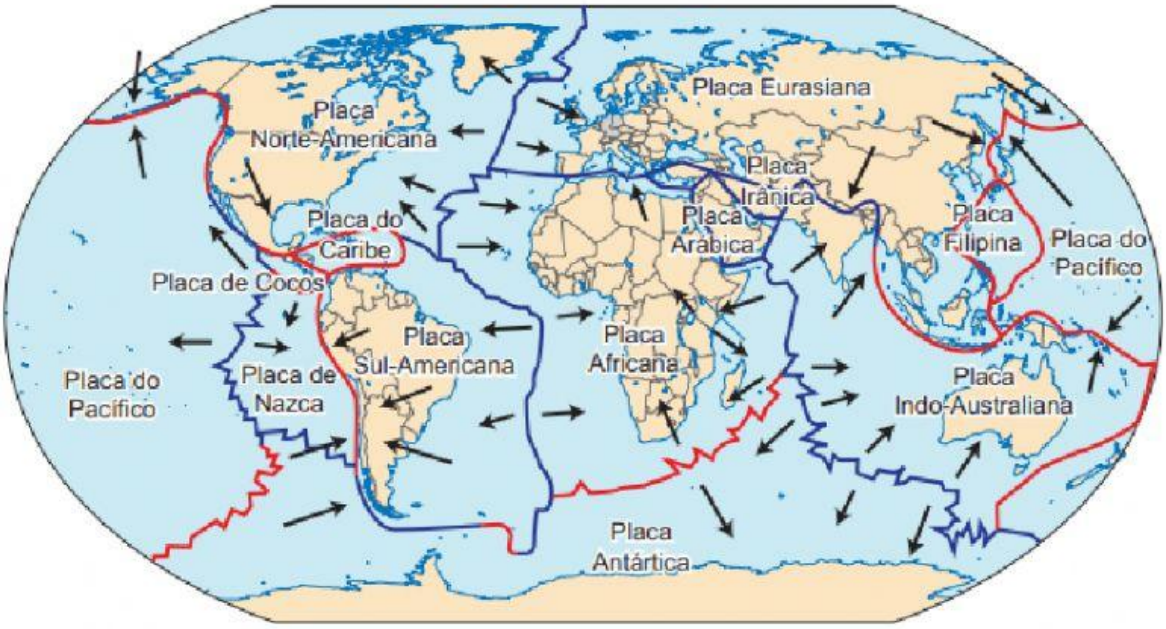

Utilize as palavras abaixo e arraste para responder às questões 3, 4, 5, 6 e 7: (Arraste na ordem da resposta)

Correntes de convecção	**Himalaia**	**Placa Sul-Americana e Nazca**	**Terremoto**
Estável	**Placa Indo-Australiana e Eurasiática**	**Oceano Atlântico**	**Tectonismo**

3) Um limite entre placas onde esteja ocorrendo divergência e o que se formou entre essas placas.

4) Um limite entre placas onde esteja ocorrendo convergência e o relevo que se formou entre elas.

5) Motivo dessas placas estarem em movimento e o nome do movimento das placas.

6) O Brasil é considerado um país instável ou estável geologicamente?

7) O tsunami ocorre após a qual evento geológico?

LIVEWORKSHEETS

8) Terremotos são gerados pelos movimentos naturais das placas tectônicas da Terra, que causam ajustes na crosta terrestre, afetando a organização das sociedades, como ilustra a figura abaixo. Em relação aos sismos naturais, é correto afirmar que eles são causados por:

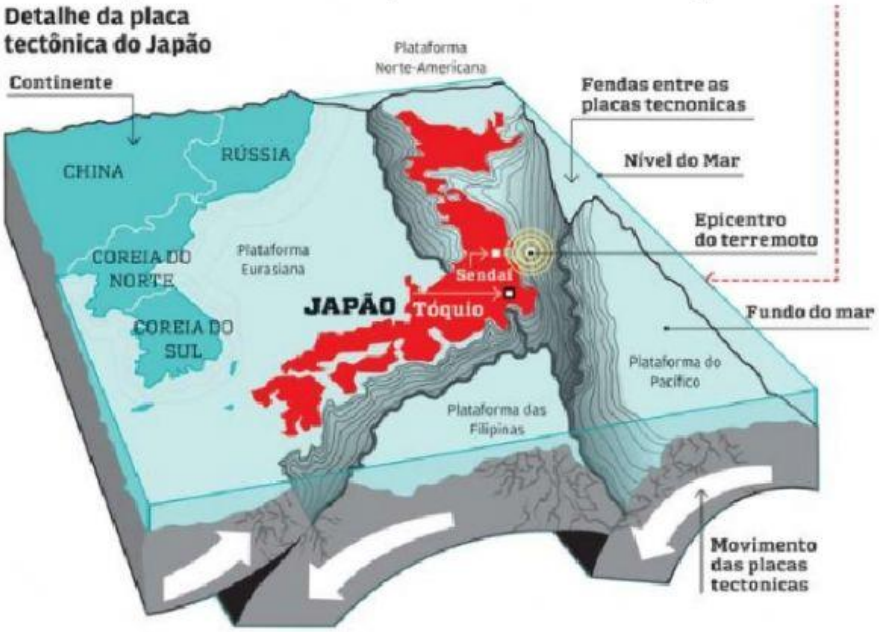

A) forças endógenas incontroláveis.
B) energias exógenas excepcionais.
C) forças antrópicas descontroladas.
D) energias antrópicas excepcionais.

9) Observe a figura e marque a opção correta

A figura a seguir representa processos associados à Tectônica de Placas.

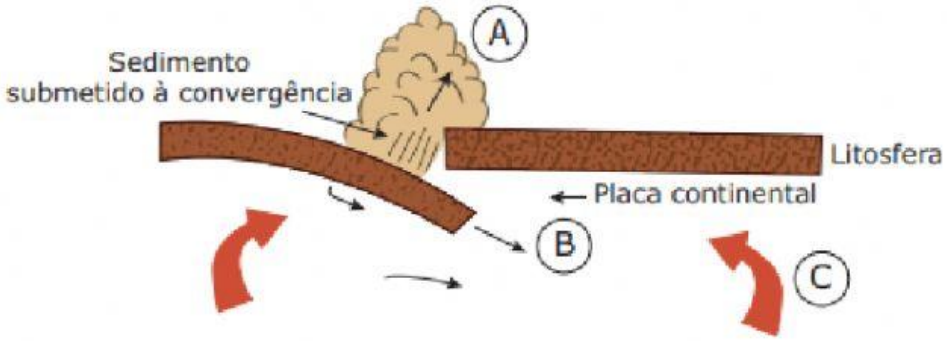

CASSETI, Valter. *Elementos de geomorfologia*. Goiânia: UFG, 1994. (Adaptação).

A) A letra A mostra o choque de placas que nos ajuda a entender a formação de montanhas e a ocorrência de fortes abalos sísmicos e a existência de vulcões ativos.

B) A letra B mostra o mergulho de uma placa pelo afastamento de uma outra placa. Isso nos ajuda a entender a formação de tsunamis.

C) A letra C mostra as correntes de convecção que explicam o movimento de todas as placas para uma única direção e a ocorrência de de terremotos

LIVEWORKSHEETS

10) Com base na formulação da teoria da deriva continental, aponte elementos considerados pelo pesquisador Alfred Wegener para justificar a movimentação dos continentes:

A) Existência de formações de relevo idênticas entre continentes distintos.

B) Ocorrência de tipos climáticos similares ao longo de todos os continentes.

C) Concentração de espécies animais e vegetais na porção setentrional do globo.

D) Atuação de correntes de ar em direções iguais ao longo das zonas costeiras.

E) Presença de fósseis e vegetação semelhantes em continentes diferentes.

11) Inicialmente, o mundo era um só, existindo apenas um continente denominado Pangeia. Com os passar dos milênios, as _____ foram se movimentando, o que proporcionou a fragmentação do gigante continental. Então, dois novos supercontinentes surgiram: a _____ e a _____. Mais tarde, as movimentações da crosta continuaram, graças à ação das _____, possibilitando a formação dos atuais continentes.

Assinale a alternativa que completa corretamente as lacunas acima.

A) Placas Tectônicas, Laurásia, Gondwana, camadas litosféricas.

B) Formações Rochosas, Laurásia, Gondwana, células de convecção

C) Placas Tectônicas, Eurásia, Antártida, movimentações pedogênicas.

D) Placas Tectônicas, Laurásia, Gondwana, correntes de convecção.

12) A idade calculada da terra é de cerca de 4,5 bilhões de anos. Esse tempo é dividido em eras geológicas. Alguns fatos ocorridos nas eras geológicas da terra estão listados abaixo, fora de ordem:

1 . Resfriamento da terra e formação dos oceanos.
2 . Os dinossauros dominaram o planeta.
3 . Planeta muito quente e coberto de vulcões.
4 . Surgimento do ser humano.
5 . Surgimento dos organismos unicelulares.
6 . Surgimento dos primeiros peixes.

Marque a alternativa que mostre a ordem correta em que os fatos aconteceram no planeta Terra:

A) 3,1,5,6,2,4.
B) 3,2,6,1,4,5.
C) 5,2,4,3,1,6.
D) 5,3,6,4,2,1.

LIVEWORKSHEETS