Multiplicación

1. Expresa como adición y multiplicación lo siguiente:

¿Cuántos panes hay?

☐ + ☐ = ☐

5 × ☐ = ☐

Hay ☐ panes.

¿Cuántas cerezas hay?

☐ + ☐ + ☐ + ☐ + ☐ = ☐

4 × ☐ = ☐

Hay ☐ cerezas.

2. Calcula cuántos cuadrados se han pintado en cada figura.



☐ + ☐ + ☐

7 × ☐ = ☐

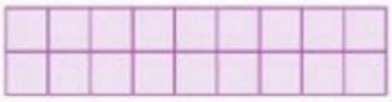

☐ + ☐

9 × ☐ = ☐

☐ + ☐ + ☐

8 × ☐ = ☐

3. Observa las semirrectas numéricas y **completa**.



☐ + ☐ + ☐ + ☐ + ☐ + ☐

☐ × ☐ = ☐

☐ + ☐ + ☐ + ☐

☐ × ☐ = ☐

4. Completa el cuadro.

Adición	Multiplicación	Factores	Producto
6 + 6 + 6 + 6	☐ × 4 = ☐	6 y 4	24
☐ + ☐ + ☐	9 × 3 = 27	☐ y ☐	☐
3 + 3 + 3 + 3 + 3	☐ × ☐ = ☐	☐ y ☐	☐
☐ + ☐ + ☐ + ☐	8 × 4 = 32	☐ y ☐	☐

LIVEWORKSHEETS